ГАЗПРОМ ОТРАСЛЕВАЯ ОЛИМПИАДА ШКОЛЬНИКОВ

1. Используйте только размеченные стороны листов.
2. Заполните номер варианта и номер страницы в поле внизу.

Физика

Площадка написания: Тюменский индустриальный университет

Шифр 96458 Класс 11

Вариант 2 Дата 20.02.2022

Заполняется проверяющим строго по образцу

Образец заполнения: 1 2 3 4 5 6 7 8 9 0

1	2	3	4	5	6	7	8	9	10
12	16	16	16	16	24				

Оценка цифрами: 10

Оценка прописью: сто

Подпись: Толмачева

№ 1.

Когда Ф - магнитный поток изменяется, то по кольцу протекает индукционный ток.

$\Delta\Phi = \Delta B \cdot S \Rightarrow$ изменение магнитного потока зависит от изменения магнитной индукции B.

Индукционный ток протекал по кольцу от $t_1 = 0$ с до $t_2 = 3$ с, т.к. магнитная индукция изменялась в первые 3 секунды

Ответ: индукционный ток протекал по кольцу 3 секунды.

№ 2.

Дано:
$T_2 = T_4$
$V_1 = 300 \frac{м}{с}$
$V_3 = 700 \frac{м}{с}$
$\nu = 2$ моль
Найти: A - ?

Решение:

1) Т.к. процесс циклический, то газ не совершал работу на участках 1-2 и 3-4.

На участке 2-3 - изобарный процесс $\Rightarrow A_{23} = p_{23}\Delta V_{23}$

$p_{23}\Delta V_{23} = \nu R \Delta T_{23}$ - следует из ур-ия состояния

$A_{23} = \nu R \Delta T_{23} (T_3 - T_2)$

На участке 4-1 - изобарный процесс $\Rightarrow A_{41} = \nu R_0 T_{41} = \nu R (T_1 - T_4)$

Сред. квадрат. скорость: $V = \sqrt{\frac{3kT}{m_0}}$, а полная работа за цикл: $A = A_{23} + A_{41}$.

$V = \sqrt{\frac{3RT}{M}} \Rightarrow T_1 = \frac{V_1^2 M}{3R}$; $\frac{m_0}{M} = \frac{N}{N_A} \Rightarrow m_0 = \frac{M}{N_A}$

$T_3 = \frac{V_3^2 M}{3R}$

$A = A_{23} + A_{41} = \nu R (T_3 - T_2 + T_2 - T_4)$, т.к. $T_2 = T_4$ (по усл.),

то $A = \nu R (T_3 + T_1 - 2T_4)$ (*)

Для участка 4-1: $\frac{T_4}{T_1} = \frac{V_4}{V_1}$, а для 2-3: $\frac{T_2}{T_3} = \frac{V_2}{V_3} \Rightarrow \frac{T_2}{T_3} \cdot \frac{T_4}{T_1} = \frac{V_2}{V_3} \cdot \frac{V_4}{V_1}$ (т.к. $V_1 = V_2$; $V_3 = V_4$) $\Rightarrow T_4^2 = T_3 T_1 \Rightarrow T_4 = \sqrt{T_3 T_1}$. Подставляем в ур-ие (*)

Получаем $A = \nu R (T_3 - T_1 - 2\sqrt{T_3 T_1})$. $M = 28 \cdot 10^{-3} \frac{кг}{моль}$

$T_1 = \frac{300^2 \cdot 28 \cdot 10^{-3}}{3 \cdot 8{,}31} = 101$ К $\quad T_3 = \frac{700^2 \cdot 28 \cdot 10^{-3}}{3 \cdot 8{,}31} = 550$ К

$A = 2 \cdot 8{,}31 \cdot (550 - 101 - 2\sqrt{101 \cdot 550}) = 3$ кДж

Ответ: 3 кДж.

ОТРАСЛЕВАЯ ОЛИМПИАДА ШКОЛЬНИКОВ ГАЗПРОМ

1. Используйте только размеченные стороны листов.
2. Заполните номер варианта и номер страницы в поле внизу.

Физика

Площадка написания: Тюменский индустриальный университет

Шифр 96458 Класс 11

Вариант 2 Дата 20.02.2022


№5.

$V_{вр.} = V_{пост.} = V$ (т.к. обруч скатывается без проскальзывания)

По закону сохранения энергии:

$$mgh = \frac{mV_в^2}{2} + \frac{mV_{пост}^2}{2} = mV^2 \Rightarrow V^2 = gh = g \cdot 2R$$

По 2 закону Ньютона для мал. эл. кольца: $im\frac{V_в^2}{2} = iF$



$$im = \Delta m = m\frac{\alpha}{2\pi}$$

$$iF = 2F \cdot \sin\frac{\alpha}{2}$$

$$\Rightarrow \frac{m}{2\pi}\alpha\frac{V^2}{R} = 2F \cdot \sin\frac{\alpha}{2}, \text{ т.к. } \alpha \text{ мало, то } \sin\alpha \approx \alpha$$

Тогда $\frac{m}{2\pi} \cdot \frac{g \cdot 2R}{R} F \Rightarrow F = \frac{mg}{\pi}$

Ответ: $F = \frac{mg}{\pi}$ +

№6.

Дано:

$\varepsilon = 4$ при $t = 0°C$

$\Delta\varepsilon = 0{,}1$

$\Delta t = 1°C$

Решение:

Пусть при $0°C \rightarrow C_0 = \frac{\varepsilon\varepsilon_0 S}{d}$

Введем $\alpha = \frac{\varepsilon_0 S}{d} = const \rightarrow C_0 = \varepsilon \cdot \alpha$

При увелич. проницаемость до $\varepsilon_1 = \varepsilon + \Delta\varepsilon$ и $\Delta t_{10} = 5$ при увелич. темп. на 10°C

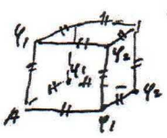
Проницаемость уменьшилась до $\varepsilon_2 = \varepsilon - \Delta\varepsilon$ и $\Delta t_{20} = 2$ при уменьшении темп. на $\Delta t_{20} = 10°C$

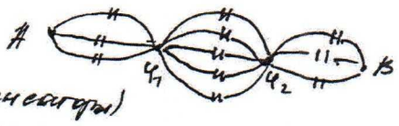
2) $C_1 = \varepsilon_1\alpha$ и $C_2 = \varepsilon_2\alpha$ (Параллельное соединение)

Найдем C_{01}

емкость каждого конденсатора C_0

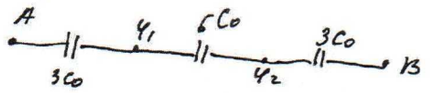
Эквивалентная схема:





$C_0' = C_1' + C_2'$ (параллельное соединение конденсаторов)

$\frac{1}{C_{01}} = \frac{1}{C_1'} + \frac{1}{C_2'}$ (последовательное соединение конденсаторов)



– емкость каждого конденсатора C_0

$$\frac{1}{C_{01}} = \frac{1}{3C_0} + \frac{1}{6C_0} + \frac{1}{3C_0} \Rightarrow C_{01} = \frac{6}{5}C_0 = \frac{6}{5}\varepsilon\alpha$$

(продолжение)

ГАЗПРОМ ОТРАСЛЕВАЯ ОЛИМПИАДА ШКОЛЬНИКОВ

$(ab)c=a(bc)$ $E=mc^2$ $\frac{3}{x^2+y^2}$

Площадка написания
Тюменский индустриальный университет

1. Используйте только размеченные стороны листов.
2. Заполните номер варианта и номер страницы в поле внизу.

Физика

Шифр 96458 Класс 11

Вариант 2 Дата 20.02.2022

N 1.

Дано:
$V = 4,4 \cdot 10^{14}$ Гц
$n = 1,33$

Найти:
$\lambda - ?$

Решение:

Показатель преломления определяется формулой:
$n = \frac{c}{v} \Rightarrow V = \frac{c}{n}$ (*)

Формула длины волны: $\lambda = V \cdot T$.

т.к. $T = \frac{1}{\nu}$, то $\lambda = \frac{V}{\nu}$. Подставим (*) в ур-ие

$$\lambda = \frac{3 \cdot 10^8}{1,33 \cdot 4,4 \cdot 10^{14}} = 5,1 \cdot 10^{-7} \text{ м}$$


Ответ: $5,1 \cdot 10^{-7}$ м.

N 2.

Дано:
m, μ, N, x_0

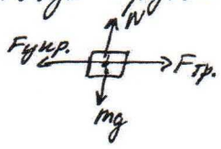
Найти: $k - ?$

Решение:



Когда брусок остановился, то Fупр. станет недостаточна.

По формуле закона Гука:
$F_{упр} = kx$.

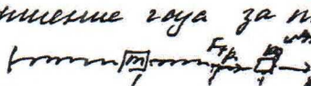


$F_{тр.} = \mu N$; $N = mg$; $F_{упр.} = F_{тр.}$

Таким образом, $kx_1 = \mu mg$

$x_1 = \frac{\mu mg}{k}$

Движение тела за пол периода.



По ЗСЭ:

$$\frac{kx_0^2}{2} = \frac{kx_{01}^2}{2} + A_{тр.}$$

$$A_{тр.} = F_{тр.} \cdot S = \mu mg(x_0 + x_{01})$$

$$\frac{k}{2}(x_0 - x_{01}) = \mu mg$$

Δx - const

$$\frac{k\Delta x}{2} = \mu mg \Rightarrow \Delta x = \frac{2\mu mg}{k}$$

$$x_1 = x_0 - 2N\Delta x$$

$$\frac{\mu mg}{k} = x_0 - 2N \cdot \frac{2\mu mg}{k}$$

Ответ: $\frac{\mu mg(4N+1)}{x_0} = k$

ГАЗПРОМ ОТРАСЛЕВАЯ ОЛИМПИАДА ШКОЛЬНИКОВ

1. Используйте только размеченные стороны листов.
2. Заполните номер варианта и номер страницы в поле внизу.

Физика

Площадка написания: Тюменский индустриальный университет

Шифр 96458 Класс 11

Вариант 2 Дата 20.02.2022

Заполняется проверяющим строго по образцу

Образец заполнения: 1 2 3 4 5 6 7 8 9 0

1	2	3	4	5	6	7	8	9	10
12	16	16	16	16	24				

Оценка цифрами: 10

Оценка прописью: сто

Подпись: Толмачева

№ 1.

Когда Ф - магнитный поток изменяется, то по кольцу протекает индукционный ток.

$\Delta\Phi = \Delta B \cdot S \Rightarrow$ изменение магнитного потока зависит от изменения магнитной индукции B.

Индукционный ток протекал по кольцу от $t_1 = 0$ с до $t_2 = 3$ с, т.к. магнитная индукция изменялась в первые 3 секунды

Ответ: индукционный ток протекал по кольцу 3 секунды.

№ 2.

Дано:
$T_2 = T_4$
$V_1 = 300 \frac{м}{с}$
$V_3 = 700 \frac{м}{с}$
$\nu = 2$ моль
Найти: A - ?

Решение:

1) Т.к. процесс циклический, то газ не совершал работу на участках 1-2 и 3-4.

На участке 2-3 - изобарный процесс $\Rightarrow A_{23} = p_{23}\Delta V_{23}$

$p_{23}\Delta V_{23} = \nu R \Delta T_{23}$ - следует из ур-ия состояния

$A_{23} = \nu R \Delta T_{23} (T_3 - T_2)$

На участке 4-1 - изобарный процесс $\Rightarrow A_{41} = \nu R_0 T_{41} = \nu R (T_1 - T_4)$

Сред. квадрат. скорость: $V = \sqrt{\frac{3kT}{m_0}}$, а полная работа за цикл: $A = A_{23} + A_{41}$.

$V = \sqrt{\frac{3RT}{M}} \Rightarrow T_1 = \frac{V_1^2 M}{3R}$; $\frac{m_0}{M} = \frac{N}{N_A} \Rightarrow m_0 = \frac{M}{N_A}$

$T_3 = \frac{V_3^2 M}{3R}$

$A = A_{23} + A_{41} = \nu R (T_3 - T_2 + T_2 - T_4)$, т.к. $T_2 = T_4$ (по усл.),

то $A = \nu R (T_3 + T_1 - 2T_4)$ (*)

Для участка 4-1: $\frac{T_4}{T_1} = \frac{V_4}{V_1}$, а для 2-3: $\frac{T_2}{T_3} = \frac{V_2}{V_3} \Rightarrow \frac{T_2}{T_3} \cdot \frac{T_4}{T_1} = \frac{V_2}{V_3} \cdot \frac{V_4}{V_1}$ (т.к. $V_1 = V_2$; $V_3 = V_4$) $\Rightarrow T_4^2 = T_3 T_1 \Rightarrow T_4 = \sqrt{T_3 T_1}$. Подставляем в ур-ие (*)

Получаем $A = \nu R (T_3 - T_1 - 2\sqrt{T_3 T_1})$. $M = 28 \cdot 10^{-3} \frac{кг}{моль}$

$T_1 = \frac{300^2 \cdot 28 \cdot 10^{-3}}{3 \cdot 8{,}31} = 101$ К $\quad T_3 = \frac{700^2 \cdot 28 \cdot 10^{-3}}{3 \cdot 8{,}31} = 550$ К

$A = 2 \cdot 8{,}31 \cdot (550 - 101 - 2\sqrt{101 \cdot 550}) = 3$ кДж

Ответ: 3 кДж.

ОТРАСЛЕВАЯ ОЛИМПИАДА ШКОЛЬНИКОВ ГАЗПРОМ

1. Используйте только размеченные стороны листов.
2. Заполните номер варианта и номер страницы в поле внизу.

Физика

Площадка написания: Тюменский индустриальный университет

Шифр 96458 Класс 11

Вариант 2 Дата 20.02.2022


№5.

$V_{вр.} = V_{пост.} = V$ (т.к. обруч скатывается без проскальзывания)

По закону сохранения энергии:

$$mgh = \frac{mV_в^2}{2} + \frac{mV_{пост}^2}{2} = mV^2 \Rightarrow V^2 = gh = g \cdot 2R$$

По 2 закону Ньютона для мал. эл. кольца: $im\frac{V_в^2}{2} = iF$



$$im = \Delta m = m\frac{\alpha}{2\pi}$$

$$iF = 2F \cdot \sin\frac{\alpha}{2}$$

$$\Rightarrow \frac{m}{2\pi}\alpha\frac{V^2}{R} = 2F \cdot \sin\frac{\alpha}{2}, \text{ т.к. } \alpha \text{ мало, то } \sin\alpha \approx \alpha$$

Тогда $\frac{m}{2\pi} \cdot \frac{g \cdot 2R}{R} F \Rightarrow F = \frac{mg}{\pi}$

Ответ: $F = \frac{mg}{\pi}$ +

№6.

Дано:

$\varepsilon = 4$ при $t = 0°C$

$\Delta\varepsilon = 0{,}1$

$\Delta t = 1°C$

Решение:

Пусть при $0°C \rightarrow C_0 = \frac{\varepsilon\varepsilon_0 S}{d}$

Введем $\alpha = \frac{\varepsilon_0 S}{d} = const \rightarrow C_0 = \varepsilon \cdot \alpha$

При увелич. проницаемость до $\varepsilon_1 = \varepsilon + \Delta\varepsilon$ и $\Delta t_{10} = 5$ при увелич. темп. на 10°C

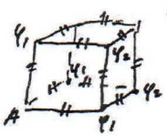
Проницаемость уменьшилась до $\varepsilon_2 = \varepsilon - \Delta\varepsilon$ и $\Delta t_{20} = 2$ при уменьшении темп. на $\Delta t_{20} = 10°C$

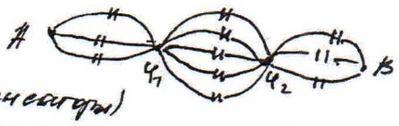
2) $C_1 = \varepsilon_1\alpha$ и $C_2 = \varepsilon_2\alpha$ (Параллельное соединение)

Найдем C_{01}

емкость каждого конденсатора C_0

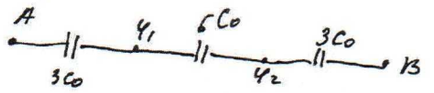
Эквивалентная схема:





$C_0' = C_1' + C_2'$ (параллельное соединение конденсаторов)

$\frac{1}{C_{01}} = \frac{1}{C_1'} + \frac{1}{C_2'}$ (последовательное соединение конденсаторов)



– емкость каждого конденсатора C_0

$$\frac{1}{C_{01}} = \frac{1}{3C_0} + \frac{1}{6C_0} + \frac{1}{3C_0} \Rightarrow C_{01} = \frac{6}{5}C_0 = \frac{6}{5}\varepsilon\alpha$$

(продолжение)

ОТРАСЛЕВАЯ ОЛИМПИАДА ШКОЛЬНИКОВ ГАЗПРОМ

1. Используйте только размеченные стороны листов.
2. Заполните номер варианта и номер страницы в поле внизу.

Физика

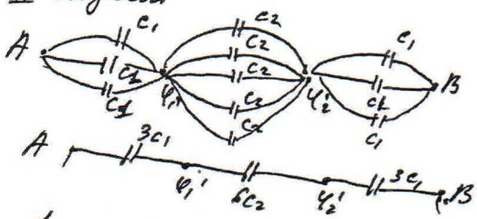
Площадка написания
Тюменский индустриальный университет

Шифр 96458 Класс 11

Вариант 2 Дата 20.02.2022

№5. (продолжение)

II спуск



$$\frac{1}{C_{02}} = \frac{1}{3C_1} + \frac{1}{3C_1} + \frac{1}{6C_2} = \frac{2}{3 \cdot \varepsilon_1 d} + \frac{1}{6\varepsilon_2 d}$$

$$C_{02} = \left(\frac{4 \cdot \varepsilon_2 + \varepsilon_1}{6 d \varepsilon_1 \cdot \varepsilon_2}\right)^{-1} = \frac{6 d \varepsilon_1 \cdot \varepsilon_2}{4\varepsilon_2 + \varepsilon_1}$$

$$\frac{C_{02}}{C_{01}} = \frac{5(6d \cdot \varepsilon_1 \cdot \varepsilon_2)}{6\varepsilon_1 d(4\varepsilon_2 + \varepsilon_1)} = \frac{30 \cdot 5 \cdot 2}{6 \cdot 4 (4 \cdot 2 + 5)} = \frac{25}{26}$$

Стр.

ГАЗПРОМ ОТРАСЛЕВАЯ ОЛИМПИАДА ШКОЛЬНИКОВ

$(ab)c=a(bc)$ $E=mc^2$ $\frac{3}{x^2+y^2}$

Площадка написания
Тюменский индустриальный университет

1. Используйте только размеченные стороны листов.
2. Заполните номер варианта и номер страницы в поле внизу.

Физика

Шифр 96458 Класс 11

Вариант 2 Дата 20.02.2022

N 1.

Дано:
$V = 4,4 \cdot 10^{14}$ Гц
$n = 1,33$

Найти:
$\lambda - ?$

Решение:

Показатель преломления определяется формулой:
$n = \frac{c}{v} \Rightarrow V = \frac{c}{n}$ (*)

Формула длины волны: $\lambda = V \cdot T$.

т.к. $T = \frac{1}{\nu}$, то $\lambda = \frac{V}{\nu}$. Подставим (*) в ур-ие

$$\lambda = \frac{3 \cdot 10^8}{1,33 \cdot 4,4 \cdot 10^{14}} = 5,1 \cdot 10^{-7} \text{ м}$$


Ответ: $5,1 \cdot 10^{-7}$ м.

N 2.

Дано:
m, μ, N, x_0

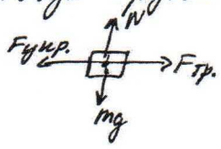
Найти: $k - ?$

Решение:



Когда брусок остановился, то Fупр. станет недостаточна.

По формуле закона Гука:
$F_{упр} = kx$.

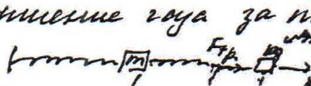


$F_{тр.} = \mu N$; $N = mg$; $F_{упр.} = F_{тр.}$

Таким образом, $kx_1 = \mu mg$

$x_1 = \frac{\mu mg}{k}$

Движение тела за пол периода.



По ЗСЭ:

$$\frac{kx_0^2}{2} = \frac{kx_{01}^2}{2} + A_{тр.}$$

$$A_{тр.} = F_{тр.} \cdot S = \mu mg(x_0 + x_{01})$$

$$\frac{k}{2}(x_0 - x_{01}) = \mu mg$$

Δx - const

$$\frac{k\Delta x}{2} = \mu mg \Rightarrow \Delta x = \frac{2\mu mg}{k}$$

$$x_1 = x_0 - 2N\Delta x$$

$$\frac{\mu mg}{k} = x_0 - 2N \cdot \frac{2\mu mg}{k}$$

Ответ: $\frac{\mu mg(4N+1)}{x_0} = k$

ОТРАСЛЕВАЯ ОЛИМПИАДА ШКОЛЬНИКОВ ГАЗПРОМ

1. Используйте только размеченные стороны листов.
2. Заполните номер варианта и номер страницы в поле внизу.

Физика

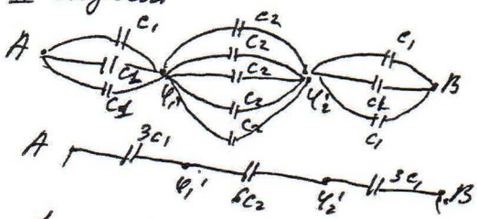
Площадка написания
Тюменский индустриальный университет

Шифр 96458 Класс 11

Вариант 2 Дата 20.02.2022

№5. (продолжение)

II спуск



$$\frac{1}{C_{02}} = \frac{1}{3C_1} + \frac{1}{3C_1} + \frac{1}{6C_2} = \frac{2}{3 \cdot \varepsilon_1 d} + \frac{1}{6\varepsilon_2 d}$$

$$C_{02} = \left(\frac{4 \cdot \varepsilon_2 + \varepsilon_1}{6 d \varepsilon_1 \cdot \varepsilon_2}\right)^{-1} = \frac{6 d \varepsilon_1 \cdot \varepsilon_2}{4\varepsilon_2 + \varepsilon_1}$$

$$\frac{C_{02}}{C_{01}} = \frac{5(6d \cdot \varepsilon_1 \cdot \varepsilon_2)}{6\varepsilon_1 d(4\varepsilon_2 + \varepsilon_1)} = \frac{30 \cdot 5 \cdot 2}{6 \cdot 4 (4 \cdot 2 + 5)} = \frac{25}{26}$$

Стр.