ГАЗПРОМ ОТРАСЛЕВАЯ ОЛИМПИАДА ШКОЛЬНИКОВ

$(ab)c=a(bc)$ $E=mc^2$

Использовать только эту сторону листа, обратная сторона не проверяется!

ШИФР 22347

Класс 11 Вариант 11 Дата Олимпиады 10.02.18

Площадка написания МГТУ им. Н. Баумана

Задача	1	2	3	4	5	6	7	8	9	10	Σ		Подпись
											Цифрой	Прописью	
Оценка	4	4	3	8	—	12	12	12	—	8	63	шестьдесят три	

(1) $A=\dfrac{2^{-2}+2018^0}{(0,5)^{-2}-5(-2)^{-2}+\left(\frac{2}{3}\right)^{-2}}+4,75$; 60% от A = ?

$A=\dfrac{1,25}{4-1,25+(1,5)^2}+4,75=\dfrac{1,25}{5}+4,75=5$; 60% от $A=A\cdot\frac{6}{10}=A\cdot\frac{3}{5}$

$A\cdot\frac{3}{5}=5\cdot\frac{3}{5}=3$

Ответ: $A=3$ (4)

(2) Новатэк : Роснефть : ЛУКОЙЛ $=\frac{1}{5}:\frac{1}{2}:\frac{1}{10}=0,2:0,5:0,1$.

Пусть объём добычи газа Новатэк $=0,2x$; Роснефть $=0,5x$; ЛУКОЙЛ $=0,1x$.

Газпром $=\frac{3}{10}\cdot 0,5x=0,15x$

$0,5x=0,2x+0,1x+0,15x+8$; $0,05x=8$; $x=160$

Новатэк $=0,2\cdot 160=32$

Роснефть $=0,5\cdot 160=80$

ЛУКОЙЛ $=0,1x\cdot 160=16$

Газпром нефть: $0,15\cdot 160=24$ (4)

ГАЗПРОМ ОТРАСЛЕВАЯ ОЛИМПИАДА ШКОЛЬНИКОВ

Использовать только эту сторону листа, обратная сторона не проверяется!

ШИФР 22347

③ Пусть радиус ромашки $= R$; r - радиус окружности вокруг каждого дерева, такой чтобы не пересекал ни один другой радиус другого дерева.

$R = 258$

$r = 12$; $r = 6$ ✓

Пусть n - кол-во деревьев.

$\pi r^2 \cdot n \le \pi R^2$; $n = \left(\frac{R}{r}\right)^2 = (43)^2 = 1849$.

③

$258 \mid 6$
$-24 \quad 43$
18
-18
0

$1849 < 2018 \rightarrow \boxed{n < 2018}$ ■

④ ~~$\sqrt{x^3 - 3x + 1} - x = -1$~~

④

$\sqrt{x^3 - 3x + 1} - x = -1$;

$\sqrt{x^3 - 3x + 1} = x - 1$;

$\begin{cases} x^3 - 3x + 1 = x^2 - 2x + 1 \\ x > 1 \end{cases}$;

$\begin{cases} x^3 - x^2 - x = 0 \\ x > 1 \end{cases}$;

$\begin{cases} x(x^2 - x - 1) = 0 \\ x > 1 \end{cases}$;

$\begin{cases} x = 0 \\ x = \frac{1-\sqrt{5}}{2} \\ x = \frac{1+\sqrt{5}}{2} \\ x > 1 \end{cases}$;

$\boxed{x = \frac{1+\sqrt{5}}{2}}$

$x(x^2 - x - 1) = 0$

$x = 0$ ✓

$x^2 - x - 1 = 0$; $D = 1 + 4 = 5$

$x = \frac{1-\sqrt{5}}{2}$

$x = \frac{1+\sqrt{5}}{2}$ ✓

⑧

Ответ: $x = \frac{1+\sqrt{5}}{2}$ ✓

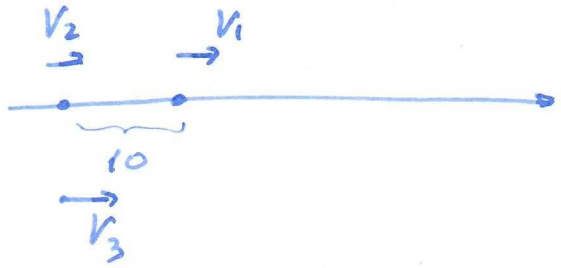
ГАЗПРОМ ОТРАСЛЕВАЯ ОЛИМПИАДА ШКОЛЬНИКОВ

$(ab)c=a(bc)$ $E=mc^2$

Использовать только эту сторону листа, обратная сторона не проверяется!

ШИФР 22347

(13) (6)



$V_1 = 3$ км/ч
$V_2 = 5$ км/ч
$V_3 = 12$ км/ч
$S = 10$ км ✓

V_1 - скорость первого путешественника; V_2 - второго; V_3 - мухи

S - расстояние между путешественниками в начале пути

$t = const$; $t = \frac{S}{V_2 - V_1}$; l - расстояние, которое пролетит муха

$l = V_3 t = V_3 \frac{S}{V_2 - V_1} = 12 \cdot \frac{10}{2} = 60$ (км). $\boxed{l = 60 \text{ км}}$ ✓

Ответ: $l = 60$ км. ✓

(12)

(3) $\sqrt{8x - x^2 - 7} - \sqrt{11 - x} \geq \sqrt{9x - x^2 - 18}$ | ОДЗ

$8x - x^2 - 7 \geq 9x - x^2 - 18 + 11 - x + 2\sqrt{11-x}\sqrt{9x - x^2 - 18}$

$2\sqrt{11-x}\sqrt{9x - x^2 - 18} \leq 0$

$\sqrt{11 - x} \geq 0$; $\sqrt{9x - x^2 - 18} \geq 0$

$2\sqrt{11-x}\sqrt{9x - x^2 - 18} = 0$

$\begin{cases} x = 11 \\ x = 3 \\ x = 6 \\ x \in [3; 6] \end{cases}$; $\begin{cases} x = 3 \\ x = 6 \end{cases}$ ✓

(12)


✓

Ответ: $x = 3$; $x = 6$

ОДЗ

$-x^2 + 8x - 7 \geq 0$, $D = 3^2$


$\begin{cases} x = 1 \\ x = 7 \end{cases}$




$11 - x \geq 0$; $x \leq 11$

$-x^2 + 9x - 18 \geq 0$; $D = 3^2$

$\begin{cases} x = 3 \\ x = 6 \end{cases}$





✓

$x \in [3; 6]$ - ОДЗ

Использовать только эту сторону листа, обратная сторона не проверяется!

ШИФР 22347

(8) $\begin{cases} \sin x - \frac{1}{\sin x} = \sin y \\ \cos x - \frac{1}{\cos x} = \cos y \end{cases}$;

$\sin^2 y + \cos^2 y = 1 = \sin^2 x + \frac{1}{\sin^2 x} - 2 + \cos^2 x + \frac{1}{\cos^2 x} - 2$;

$\frac{\cos^2 x + \sin^2 x}{\sin^2 x \cos^2 x} = 4$;

$(\sin x \cos x)^2 = \frac{1}{4}$;

$\sin x \cos x = \pm \frac{1}{2}$;

$\frac{1}{2}\sin 2x = \frac{1}{2}$;

$\sin 2x = 1, k \in Z$;

$2x = \frac{\pi}{2} + 2\pi k, k \in Z$;

$x = \frac{\pi}{4} + \pi k, k \in Z$

1) $x = \frac{\pi}{4} + 2\pi k$

$\frac{\sqrt{2}}{2} - \frac{2}{\sqrt{2}} = \sin y$;

$-\frac{\sqrt{2}}{2} = \sin y$;

$\left[\begin{array}{l} y = -\frac{\pi}{4} + 2\pi k, k \in Z \\ y = \frac{5\pi}{4} + 2\pi k, k \in Z \end{array}\right.$

2) $x = \frac{5\pi}{4} + 2\pi k$

$\frac{2}{\sqrt{2}} - \frac{\sqrt{2}}{2} = \sin y$

$\sin y = \frac{\sqrt{2}}{2}$

$\left[\begin{array}{l} y = \frac{\pi}{4} + 2\pi k, k \in Z \\ y = \frac{3\pi}{4} + 2\pi k, k \in Z \end{array}\right.$

(12)

Ответ: $\left[\begin{array}{l} \left\{\begin{array}{l} x = \frac{\pi}{4} + 2\pi k, k \in Z \\ \left[\begin{array}{l} y = -\frac{\pi}{4} + 2\pi k, k \in Z \\ y = \frac{5\pi}{4} + 2\pi k, k \in Z \end{array}\right. \end{array}\right. \\ \left\{\begin{array}{l} x = \frac{5\pi}{4} + 2\pi k, k \in Z \\ \left[\begin{array}{l} y = \frac{\pi}{4} + 2\pi k, k \in Z \\ y = \frac{3\pi}{4} + 2\pi k, k \in Z \end{array}\right. \end{array}\right. \end{array}\right.$

ГАЗПРОМ ОТРАСЛЕВАЯ ОЛИМПИАДА ШКОЛЬНИКОВ

Использовать только эту сторону листа, обратная сторона не проверяется!

ШИФР 22347

(10) При каких x неравенство $(4-2a)x^2+(13a-27)x+33-13a>0$, верно, при любых $a \in (1;3)$ $1<a<3$

$4x^2-2ax^2+13ax-27x+33-13a>0$

$a(-2x^2+13x-13)+4x^2-27x+33>0$ ✓

$-2x^2+13x-13=f(x)$, исследуем $f(x)$

$-\frac{b}{2a}=\frac{13}{4}=3{,}25$; $x=3{,}25$ - вершина параболы $f(x)$,

$a>0 (a=-2) \rightarrow$ если $x>3{,}25$, то $f(x)$ убывает.

Если $x<3{,}25$, то $f(x)$ возрастает ~~на интервале~~

$\rightarrow$ на интервале $a \in (1;3)$ $g(a)=a \cdot f(x)$ имеет наименьшее значение в т. $a=1$; если ~~дан~~ найти x для $a=1$, то это решение гарантированно подойдёт и для $a \in (1;3)$


$-2x^2+13x-13+4x^2-27x+33>0$

$2x^2-14x+20>0$

$x^2-7x+10>0$; $D=49-40=3^2$

$x=\frac{7-3}{2}=2$

$x=\frac{7+3}{2}=5$



; $x \in (-\infty;2] \cup [5;+\infty)$

(8)

Ответ: $x \in (-\infty;2] \cup [5;+\infty)$