ОТРАСЛЕВАЯ ОЛИМПИАДА ШКОЛЬНИКОВ ГАЗПРОМ

Использовать только эту сторону листа, обратная сторона не проверяется!

ШИФР 31834

Класс 11 **Вариант** 11 **Дата Олимпиады** 10.02.18

Площадка написания МГТУ им. Баумана

Задача	1	2	3	4	5	6	7	8	9	10	Σ Цифрой	Σ Прописью	Подпись
Оценка	4	4	0	8	8	12	6	0	0	8	50	пятьдесят	

(1)

$$A = \frac{2^{-2} + 2018^0}{(0,5)^{-2} - 5(-2)^{-2} + \left(\frac{2}{3}\right)^{-2}} + 4,75$$

4

$$\frac{2^{-2} + 2018^0}{(0,5)^{-2} - 5(-2)^{-2} + \left(\frac{2}{3}\right)^{-2}} = \frac{0,25 + 1}{4 - \frac{5}{4} + \frac{9}{4}} = \frac{1,25}{5} = 0,25$$

$A = 0,25 + 4,75 = 5$

$0,6A = 0,6 \cdot 5 = 3$

Ответ: 3

(2)

Н	Р	Л
$\frac{1}{5}$	$\frac{1}{2}$	$\frac{1}{10}$
$2x$	$5x$	x

Пусть x – единица добычи газа в млрд $м^3$

$Г = 0,3Р = 0,3 \cdot 5x = 1,5x$

$5x - 2x - x - 1,5x = 8$


$0,5x = 8$

$x = 16$

(4)

Ответ: Новатэк 32 млрд $м^3$
Роснефть 80 млрд $м^3$
Лукойл 16 млрд $м^3$
Газпром нефть 24 млрд $м^3$

(3)



Предположим, что деревья посажены максимально плотно, тогда площадь, занимаемая ими составляет $\pi r^2 = 258^2\pi$

(0)

ГАЗПРОМ ОТРАСЛЕВАЯ ОЛИМПИАДА ШКОЛЬНИКОВ

Использовать только эту сторону листа, обратная сторона не проверяется!

ШИФР 31834

(4)

$\sqrt{x^3-3x+1} - x = -1$

$\sqrt{x^3-3x+1} = x-1 \Big| \Rightarrow x \geq 1$

ОДЗ: $x^3-3x+1 \geq 0$

$x^3-3x+x = x^2-2x+1$

$x^3-x^2-x=0$

$\left[\begin{array}{l} x=0 \text{ - не уд ОДЗ} \\ x^2-x-1=0 \end{array}\right.$

$x_{1/2} = \frac{1 \pm \sqrt{5}}{2}$

$2 < \sqrt{5} < 3$ т.к. $4 < 5 < 9$

$\frac{1-\sqrt{5}}{2} < -0,5$ - не уд. ОДЗ

$\frac{1+\sqrt{5}}{2} > 1,5$

Проверим правильность при $x = \frac{1+\sqrt{5}}{2}$ (8)

$\left(\frac{1+\sqrt{5}}{2}\right)^3 - 3\left(\frac{1+\sqrt{5}}{2}\right) + 1 \geq 0$

$\frac{1+3\sqrt{5}+15+5\sqrt{5}}{8} - 1,5 - 1,5\sqrt{5} + 1 =$

$= \sqrt{5} + 2 - 1,5 - 1,5\sqrt{5} + 1 = 1,5 - 0,5\sqrt{5}$

т.к. $2 < \sqrt{5} < 3$

$1 < \frac{\sqrt{5}}{2} < 1,5$

$1,5 - \frac{\sqrt{5}}{2} > 0$

Верно!

Ответ: $\frac{1+\sqrt{5}}{2}$

(5)

$\frac{\sin^4\alpha + \cos^4\alpha - 1}{\sin^6\alpha + \cos^6\alpha - 1} = \frac{2}{3}$

$\frac{(1-\cos^2\alpha)^2 + \cos^4\alpha - 1}{(1-\cos^2\alpha)^3 + \cos^6\alpha - 1} = \frac{1 - 2\cos^2\alpha + \cos^4\alpha + \cos^4\alpha - 1}{1 - 3\cos^2\alpha + 3\cos^4\alpha - \cos^6\alpha + \cos^6\alpha - 1} =$

$= \frac{2\cos^2\alpha(\cos^2\alpha - 1)}{3\cos^2\alpha(\cos^2\alpha - 1)} = \frac{2}{3}$ ч.т.д. (8)

ГАЗПРОМ ОТРАСЛЕВАЯ ОЛИМПИАДА ШКОЛЬНИКОВ

$(ab)c=a(bc)$ $E=mc^2$

Использовать только эту сторону листа, обратная сторона не проверяется!

ШИФР 31834

(6)

v_I – ск-ть I человека
v_{II} – ск-ть II человека
v_0 – ск-ть осы
ΔS – расстояние между людьми в нач. момент времени
L – путь осы
t – время до встречи

$t = \frac{\Delta S}{v_2 - v_1} = \frac{10 км}{(5-3)\ км/ч} = 5 ч$

$L = v_0 \cdot t = 12\ км/ч \cdot 5 ч = 60 км$

Ответ: 60 км

(12)

(7)

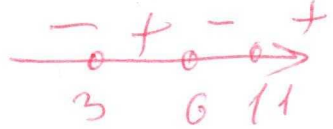
$\sqrt{8x-x^2-7} - \sqrt{11-x} \geq \sqrt{9x-x^2-18}$

$8x - x^2 - 7 + 11 - x - 2\sqrt{(8x-x^2-7)(11-x)} \geq 9x - x^2 - 18$

$-2x + 22 \geq 2\sqrt{(8x-x^2-7)(11-x)} \quad | : 2$

$(11-x)^2 \geq (8x-x^2-7)(11-x)$

$(11-x)(-x^2+9x-18) \leq 0$




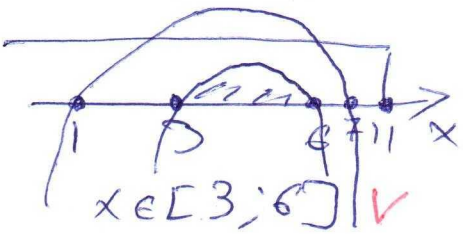
ОДЗ

$\begin{cases} x \in \mathbb{R} \\ 9x - x^2 - 18 \geq 0 \\ 8x - x^2 - 7 \geq 0 \end{cases}$

$\begin{cases} x \in \mathbb{R} \\ x \in [3;6] \\ x \in [1;7] \end{cases}$

(6)





$x \in [3;6]$ ✓

$x \in [3;6] \cup [11;+\infty)$ ∥ с учётом ОДЗ

$x \in [3;6]$

Ответ: ~~$[3;6]$~~ $\{3;6\}$

8.

$\begin{cases} \sin x - \frac{1}{\sin x} = \sin y \\ \cos x - \frac{1}{\cos x} = \cos y \end{cases}$

$x \neq \frac{\pi n}{2}$; $n \in \mathbb{Z}$, ~~$n \in \mathbb{N}$~~

$\begin{cases} -\frac{\cos^2 x}{\sin x} = \sin y \\ -\frac{\sin x}{\cos x} = \cos y \end{cases} \Rightarrow$

$\begin{cases} \sin y = -\operatorname{ctg} x \\ \cos y = -\operatorname{tg} x \end{cases}$?

(0)

ГАЗПРОМ ОТРАСЛЕВАЯ ОЛИМПИАДА ШКОЛЬНИКОВ

$(ab)c=a(bc)$ $E=mc^2$

Использовать только эту сторону листа, обратная сторона не проверяется!

ШИФР 31834

(10)

$(4-2a)x^2+(13a-27)x+33-13a>0$

Рассмотрим нер-во при критических а

Пусть $a=1$

$2x^2-14x+20>0$


$x_{1/2}=\frac{7\pm3}{2}=\begin{bmatrix}5\\2\end{bmatrix}$

Пусть $a=3$

$-2x^2+12x-6>0$

$x^2-6x+3<0$

$x_{1/2}=\frac{6\pm\sqrt{24}}{2}=3\pm\sqrt{6}$



$x\in(3-\sqrt{6};2)\cup(5;3+\sqrt{6})$

исслед-ние ф-ции?

(8)

Проверим при $a=2$

$-x+7>0$

$x<7$, => на указанных промежутках будет выполняться нер-во

Ответ: $[3-\sqrt{6};2)\cup(5;3+\sqrt{6})]$.