ОТРАСЛЕВАЯ ОЛИМПИАДА ШКОЛЬНИКОВ ГАЗПРОМ

Использовать только эту сторону листа, обратная сторона не проверяется!

ШИФР 16224

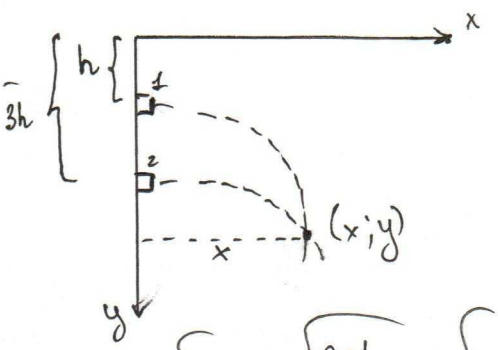
Класс 11 Вариант 2 Дата Олимпиады 03.03.2018

Площадка написания МГТУ им. Баумана

Задача	1	2	3	4	5	6	Σ Цифрой	Σ Прописью	Подпись
Оценка	45	45	55	60	35	45	25	Двадцать пять баллов	Буз

№2 45

Струи воды вытекающие из отверстий 1, 2 расположенных в плоскости x, y



$x = v_1 t_1 = v_2 t_2$

$y = h + \frac{g t_1^2}{2} = 2h + \frac{g t_2^2}{2}$

(По координатному методу), где $v_1 = \sqrt{2gh}$; $v_2 = \sqrt{4gh} = 2\sqrt{gh}$, тогда через ур-е Бернулли получаем:

Ответ: $x = 2h\sqrt{2}$ (-)


№4

Дано: Решение: 55

R, B, J, m-?

$S = 2\pi R^2$, S - площадь кольца в сечении.

$F_A = BJl$, по II з. Ньютона Ox:



$BJl = mg$, тогда $m = \frac{BJl}{g}$

Ответ: $m = \frac{BJl}{g}$

Из условия равновесия кольца:

$J\pi R^2 B = mgR$, т.е. $m = \frac{J\pi RB}{g}$

Ответ: $m = \frac{J\pi RB}{g}$ (+)

ОТРАСЛЕВАЯ ОЛИМПИАДА ШКОЛЬНИКОВ ГАЗПРОМ

$(ab)c = a(bc)$ $E = mc^2$

Использовать только эту сторону листа, обратная сторона не проверяется!

ШИФР 16224

№1

45

Дано:

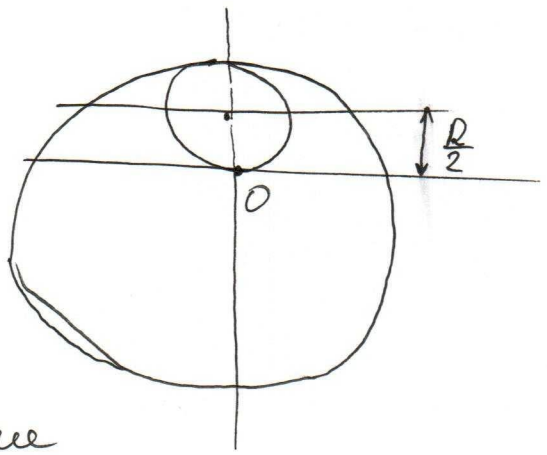
R

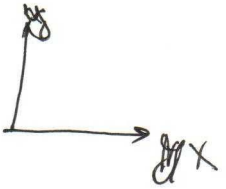
m

$r = \frac{R}{2}$

$L = 1{,}5\pi R$

$A_{min} - ?$





Решение

O - центр

Δy - перемещение центра вдоль y

Чтобы центр цилиндра координату на расстояние $L = 1{,}5\pi R$, нужно совершить работу

$A = \frac{3}{4} mg\Delta y'$

$m_1 = \frac{3}{4} m$ (т.к. масса цилиндра пропорциональна площади сечения)

Если рассматривать цилиндр с вертикальной стороны через сумму двух симметричных, то:

$m_2 = \frac{m}{2}$, и $m_3 = \frac{m}{4}$

$y' = \frac{m_3 \cdot \frac{R}{2}}{m_2 + m_3} \Rightarrow \frac{\frac{m}{4} \cdot \frac{R}{2}}{\frac{m}{4} + \frac{m}{4}} = \frac{R}{6}$ (+)

Отсюда: $\Delta y' = 2y' = \frac{R}{3}$

Тогда: $A_{min} = \frac{3}{4} mg \cdot \frac{R}{3} = \frac{mgR}{4}$

Ответ: $A_{min} = \frac{mgR}{4}$ (1)

ОТРАСЛЕВАЯ ОЛИМПИАДА ШКОЛЬНИКОВ ГАЗПРОМ

Использовать только эту сторону листа, обратная сторона не проверяется!

ШИФР 16224

№5

m_0
m_1
m_2
$m_1 > m_2$

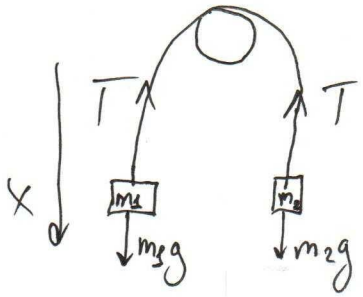
a - ?

Решение:

$m_1 g - T + T - m_2 g = (m_1 + m_2) a$ — по II з. Ньютона, то:

$g(m_1 - m_2) = (m_1 + m_2) a$, т.е.

Ответ: $a = \dfrac{g(m_1 - m_2)}{m_1 + m_2}$;



№3

Дано:

$V_1 = 0{,}004\ м^3$
$V_2 = 0{,}002\ м^3$
$p = 10^6\ Па$

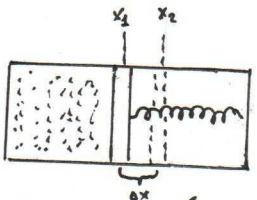
A - ?

Решение:

$\Delta V = V_1 - V_2 = 0{,}008\ м^3$

ΔQ идёт на расширение газа (изм. внутр. энергии и $\Delta E_п$), т.е.

$\Delta Q = \frac{3}{2}\nu R T + \frac{k}{2}(x_2^2 - x_1^2)$, где $x_2^2 - x_1^2$ — изменение коорд. поршня.



Состояние газа:

$PV = \nu R T$, также p можно выразить: $p = \dfrac{F}{S} = \dfrac{kx}{S}$, где F - сила упр.

$\Delta V = x \cdot S$, т.к. поршень освобождает объем

Подставим в ур-е Менделеева - Клапейрона.

$\frac{kx}{S} \cdot x \cdot S = \nu R T$, т.е. $kx^2 = \nu R T$, где $x^2 = x_2^2 - x_1^2$, то:

$k x_2^2 - k x_1^2 = \nu R \Delta T$, то $\Delta Q = \frac{3}{2}\nu R \Delta T + \frac{1}{2}\nu R \Delta T$, тогда

$A = \Delta Q$, то $A = 2\nu R \Delta T$, или $A = 2 p \Delta V$, то

$A = 2 \cdot 10^6\ Па \cdot 0{,}008\ м^3 = 16 \cdot 10^3\ Дж$,

Ответ: $A = 16\ кДж$.

ГАЗПРОМ ОТРАСЛЕВАЯ ОЛИМПИАДА ШКОЛЬНИКОВ

$(ab)c=a(bc)$ $E=mc^2$

Использовать только эту сторону листа, обратная сторона не проверяется!

ШИФР 16224

45

№6

Дано:

$L = 1{,}5$ м

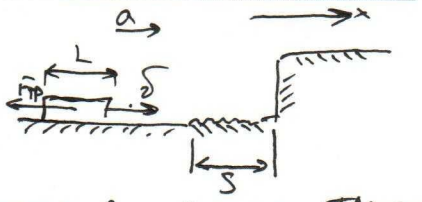
$\mu = 0{,}15$

$S = 0{,}5$ м

$T = 0{,}74$ с

$g = 10$ м/с²

v – ?



Решение:

На брусок действует переменная сила трения $F_{тр} = \mu m g \frac{x}{L}$, то по 2 з. Ньютона:

$ma_x = -\frac{\mu m g x}{L}$

$a_x + \frac{\mu g x}{L} = 0$

Движение бруска описывает ур-е колебательного движения:

$\omega = \sqrt{\frac{\mu g}{L}}$, то $x = A \sin \omega t$

$A = \frac{v}{\omega} = v\sqrt{\frac{L}{\mu g}}$, в конце движения $x = S$, то:

$S = v\sqrt{\frac{L}{\mu g}} \cdot \sin\left(\sqrt{\frac{\mu g}{L}} \cdot t\right)$, то

$v = \frac{S}{\sqrt{\frac{L}{\mu g}} \cdot \sin\left(\sqrt{\frac{\mu g}{L}} \cdot t\right)}$, подставим: $v = \frac{0{,}5}{\sqrt{\frac{1{,}5}{0{,}15 \cdot 10}} \cdot \sin\sqrt{\frac{0{,}15 \cdot 10}{1{,}5}} \cdot 0{,}74} =$

$= \frac{0{,}5}{1 \cdot \sin 0{,}74}$ м/с, выразим sin в радианах, то: $\frac{0{,}5}{0{,}674289}$ м/с $\approx 0{,}741$ м/с

Ответ: $v = 0{,}741$ м/с

1