ГАЗПРОМ ОТРАСЛЕВАЯ ОЛИМПИАДА ШКОЛЬНИКОВ

$(ab)c = a(bc)$ $E = mc^2$

Использовать только эту сторону листа, обратная сторона не проверяется!

**ШИФР** 27882

**Класс** 11 **Вариант** 2 **Дата Олимпиады** 03.03.2018

**Площадка написания** МГТУ им. Баумана

| Задача | 1 | 2 | 3 | 4 | 5 | 6 | Σ Цифрой | Σ Прописью | Подпись |
|---|---|---|---|---|---|---|---|---|---|
| Оценка | 0 | 3 | 4 | 5 | 5 | 3 | 18 | Восемнадцать баллов | Бутко |

## Задача 3.

45

**Дано:**

$V = 4\,л$

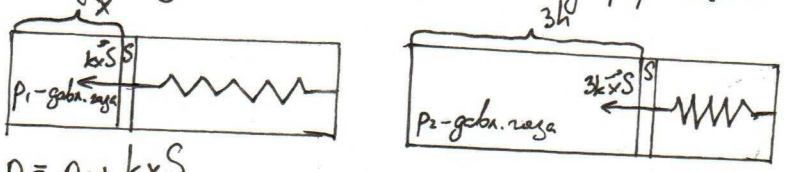
$p = 10^6\,Па$

$n = 3$

$A - ?$

**Решение:**

Из условия следует, что $x_0 = 0$, значит давление пружины не будет зависеть от начальной деформации.




$p = p_1 + kxS$

$p' = p_2 + 3kxS$

Закон Гей-Люссака:

$T - const$

$pV = p' \cdot 3V$

$p' = \frac{p}{3}$

$A = (p' - p)(3V - V) = -\frac{2}{3}p \cdot 2V = -\frac{4}{3}pV$

$A = -\frac{4}{3} \cdot 10^6\,Па \cdot 4 \cdot 10^{-3}\,м^3 = -5{,}3\,кДж$

Ответ: газ совершил работу 5,3 кДж (−)

## Задача 6

55

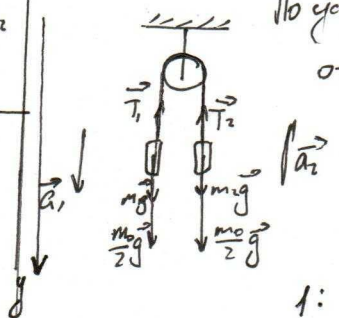
**Дано:**

$m_0;\ m_1;\ m_2$

$m_1 > m_2$

$a - ?$

**Решение:**




По условию $m_1 > m_2$, значит система движется слева от блока вниз, справа – вверх.

$a_1 = a_2$, $T_1 = T_2$ (нить на всех участках имеет одинаковые свойства)

Второй закон Ньютона:

1: $\frac{m_0 g}{2} + m_1 g - T_1 = \left(\frac{m_0}{2} + m_1\right) a_1$

2: $\frac{m_0 g}{2} + m_2 g - T_2 = \left(\frac{m_0}{2} + m_2\right) a_2$

1-2: $(m_1 - m_2) g = a\left(m_0 + m_1 + m_2\right)$

$a = \frac{(m_1 - m_2) g}{m_0 + m_1 + m_2}$

Ответ: Ускорение верёвки $a = \frac{(m_1 - m_2) g}{m_0 + m_1 + m_2}$ (+)

ОТРАСЛЕВАЯ ОЛИМПИАДА ШКОЛЬНИКОВ ГАЗПРОМ

$(ab)c=a(bc)$ $E=mc^2$

**Использовать только эту сторону листа, обратная сторона не проверяется!**

**ШИФР** 27882

## Задача 6

35

**Дано:**

$L = 1{,}5\,м$
$\mu = 0{,}15$
$S = 0{,}5\,м$
$\tau = 0{,}74\,с$
$g = 10\,\frac{м}{с^2}$

$\vartheta - ?$

**Решение:**

Закон сохранения энергии:

① $\frac{m\vartheta^2}{2} = \mu\frac{m}{3}gS + \frac{m\vartheta'^2}{2}$, $\vartheta'$ – скорость бруска при неупругом ударе о вертикальную стену.

$S = \frac{\vartheta^2-\vartheta'^2}{2a} = \frac{\vartheta^2-\vartheta'^2}{\frac{2(\vartheta-\vartheta')}{\tau}} = \frac{(\vartheta+\vartheta')\tau}{2}$

$2S = \vartheta\tau + \vartheta'\tau$

② $\vartheta' = \frac{2S-\vartheta\tau}{\tau}$

② → ① $\frac{\vartheta^2}{2} = \frac{\mu gS}{3} + \frac{(2S-\vartheta\tau)^2}{2\tau^2}$ $\Big| \times 6\tau^2$

$3\tau^2\vartheta^2 = 2\tau^2\mu gS + 3(4S^2 - 4S\vartheta\tau + \vartheta^2\tau^2)$

$3\tau^2\vartheta^2 = 2\tau^2\mu gS + 12S^2 - 12S\vartheta\tau + 3\vartheta^2\tau^2$

$6S\vartheta\tau = \tau^2\mu gS + 6S^2$

$\vartheta = \frac{6S+\tau^2\mu g}{6\tau} = \frac{S}{\tau} + \frac{\mu g\tau}{6}$

$\vartheta = \frac{0{,}5м}{0{,}74с} + \frac{0{,}15\cdot 10\frac{м}{с^2}\cdot 0{,}74с}{6} = 0{,}676\frac{м}{с} + 0{,}185\frac{м}{с} = 0{,}861\frac{м}{с}$

**Ответ:** $\vartheta = 0{,}861\,\frac{м}{с}$

## Задача 4

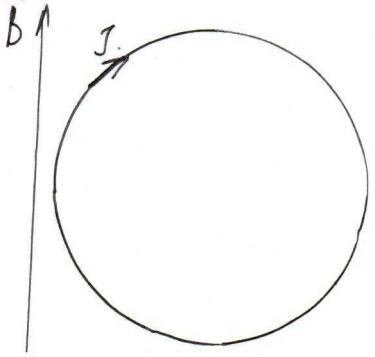
35

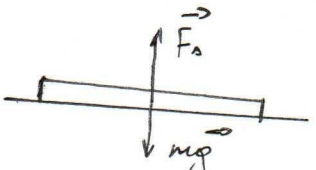
**Дано:**

$R$;
$B$; $J$

$m - ?$

**Решение:**




Кольцо приходит в движение исходя из второго закона Ньютона:

$F_A = mg$

Выберем малый участок кольца и рассмотрим силу Ампера

$F_i = BJl_i\sin\alpha_i$, значит для верней половины кольца

$F_{общ\,в} = \sum F_i = BJ\frac{l}{2}\sum \sin\alpha_i \sum$ (сумма чисел от 0 до 1 равна 2)

$\sum$ для нижн. $F_{общ\,н} = \sum F_i' = BJ\frac{l}{2}\sum(-\sin\alpha_i)$

$F_{общ} = F_{общ\,в} + F_{общ\,н} = 4BJl = 4BJ\cdot 2\pi R = 8\pi BJR$

$m = \frac{F_A}{g} = \frac{8\pi BJR}{g}$ **Ответ:** $m = \frac{8\pi BJR}{g}$

ГАЗПРОМ ОТРАСЛЕВАЯ ОЛИМПИАДА ШКОЛЬНИКОВ

$(ab)c=a(bc)$ $E=mc^2$

Использовать только эту сторону листа, обратная сторона не проверяется!

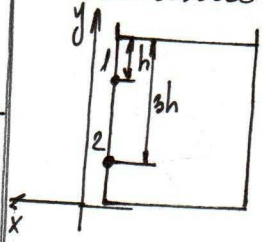
ШИФР 27882

Задача 2

Дано: $h$; $3h$

$L$ - ?

Решение:




35

Пусть струи пересекаются на расстоянии $H$ от уровня жидкости, тогда первая струя пройдет $(H-h)$, а вторая $(H-3h)$ по $Oy$

Так как уровень жидкости поддерживается, то ускорение выхода жидкости равно нулю.

$\frac{V_1}{V_2}=\frac{1}{3}$, значит $\frac{m_1}{m_2}=\frac{1}{3} \Rightarrow \frac{F_1}{F_2}=\frac{1}{3} \Rightarrow \frac{v_1}{v_2}=\frac{1}{3}$ $v_1=\frac{v_2}{3}$

$\begin{cases} L=v_1 t_1 \\ L=v_2 t_2 \end{cases} \Rightarrow t_1=3t_2$

$H-h=\frac{g t_1^2}{2}$ ; $H-3h=\frac{g t_2^2}{2}$

$H-h=\frac{9 g t_2^2}{2}$ ; $9H-27h=\frac{9 g t_2^2}{2}$

$8H=26h$

$H=\frac{26}{8}h=\frac{13}{4}h$

$t_2=\sqrt{\frac{2(H-h)}{9g}}=\sqrt{\frac{9h}{2\cdot 9g}}=\sqrt{\frac{h}{2g}}$

?