ОТРАСЛЕВАЯ ОЛИМПИАДА ШКОЛЬНИКОВ ГАЗПРОМ

Использовать только эту сторону листа, обратная сторона не проверяется!

ШИФР 31828

Класс 11 **Вариант** 2 **Дата Олимпиады** 03.03.2018

Площадка написания МГТУ им. Баумана

Задача	1	2	3	4	5	6	Σ Цифрой	Σ Прописью	Подпись
Оценка	6	0	5	0	5	6	18	Восемнадцать баллов	Буга

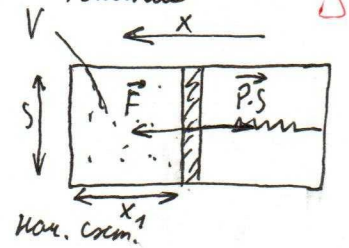
55

№3

Дано:
$V = 4$ л $= 4 \cdot 10^{-3}$ м^3
$P = 10^6$ Па
$n = 3$

A - ?

Решение



F - сила упругости
S - площадь цилиндра

Поршень находится в сост. равновесия
По II закону Ньютона:

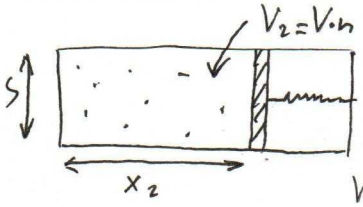
$F - P \cdot S = 0$

$k \cdot x_1 = P \cdot S$ $\quad (V = S \cdot x_1 \Rightarrow x_1 = \frac{V}{S})$

$\frac{k \cdot V}{S} = P \cdot S \Rightarrow \boxed{\frac{k}{S^2} = \frac{P}{V} \ (*)}$

В данный момент $E_{пружины_0} = \frac{k x_1^2}{2}$

конечное сост.



$E_{пружины_1} = \frac{k \cdot x_2^2}{2}$

$V_2 = V \cdot n = S \cdot x_2 \Rightarrow x_2 = \frac{V \cdot n}{S}$

Работа газа идёт на сжатие пружины: $A = E_{пр_1} - E_{пр_0} = \frac{k}{2}(x_2^2 - x_1^2) =$

$= \frac{k}{2}\left(\frac{V^2 \cdot n^2}{S^2} - \frac{V^2}{S^2}\right) = \frac{k \cdot V^2 (n^2 - 1)}{2 S^2}$

Далее из (*) $A = \left(\frac{k}{S^2}\right) \cdot \frac{V^2(n^2-1)}{2} = \frac{P}{V} \cdot \frac{V^2(n^2-1)}{2} = \frac{PV(n^2-1)}{2}$

$\frac{P}{V}$

$A = \frac{10^6 \cdot 4 \cdot 10^{-3} \cdot 8}{2} = 16 \cdot 10^3$ (Дж)

Ответ: $A = \frac{PV(n^2-1)}{2} = 16$ кДж

ГАЗПРОМ ОТРАСЛЕВАЯ ОЛИМПИАДА ШКОЛЬНИКОВ

$(ab)c = a(bc)$ $E = mc^2$

Использовать только эту сторону листа, обратная сторона не проверяется!

ШИФР 31828

№5

Дано:

m_0

m_1

m_2 $(m_1 > m_2)$

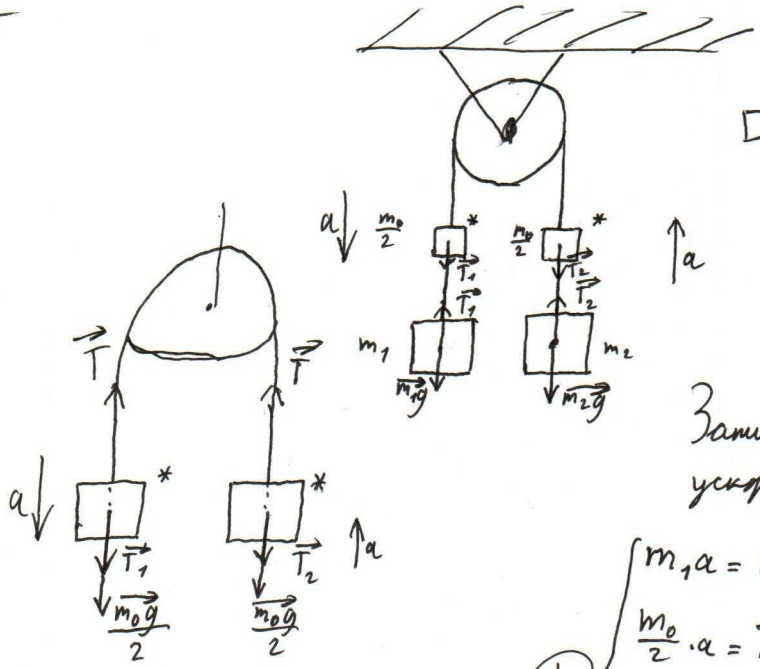
---

a - ?

Решение:

5

~~Верёвка~~ Нить нерастяжима $\Rightarrow$ $v_{грузов}$ одинаковы $\Rightarrow$ $a_{грузов}$ одинаковы



$\square^*$ - центр масс половины нити

$(m_1 > m_2) \Rightarrow$ ускорение ~~направлено~~ сонаправлено с силой тяжести груза m_1

Запишем 2-ой закон Ньютона в пр. на ускорение.

$$\oplus \begin{cases} m_1 a = m_1 g - T_1 \\ \frac{m_0}{2} \cdot a = T_1 + \frac{m_0 g}{2} - T \\ m_2 a = T_2 - m_2 g \\ \frac{m_0}{2} a = T - T_2 - \frac{m_0 g}{2} \end{cases}$$

$$(m_1 + m_2 + m_0)a = m_1 g - \cancel{T_1} + \cancel{T_1} + \cancel{\frac{m_0 g}{2}} - \cancel{T} + \cancel{T_2} - m_2 g + \cancel{T} - \cancel{T_2} - \cancel{\frac{m_0 g}{2}}$$

$$(m_1 + m_2 + m_0)a = (m_1 - m_2)g$$

$$a = \frac{(m_1 - m_2)g}{m_1 + m_2 + m_0}$$

Ответ: $a = \frac{m_1 - m_2}{m_1 + m_2 + m_3} \cdot g$ (+)

ГАЗПРОМ ОТРАСЛЕВАЯ ОЛИМПИАДА ШКОЛЬНИКОВ

$(ab)c = a(bc)$ $E = mc^2$

Использовать только эту сторону листа, обратная сторона не проверяется!

ШИФР 31828

№6

Дано:

$L = 1{,}5$ м

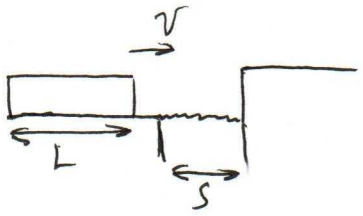
$\mu = 0{,}15$

$S = 0{,}5$ м

$\tau = 0{,}74$ с

$g = 10$ м/с^2

$V - ?$



S' - площадь поперечного сечения

ρ - плотность бруска

Рассмотрим процесс скольжения на шероховатой плоскости

$F_{тр} = \mu N$

где N - сила реакция опоры шероховатой поверхности

Пусть l - длина бруска, которая уже находится на шероховатой пов.

Тогда: $F_{MAX} = \mu \cdot l_{max} \cdot S' \cdot \rho \cdot g$ (ρ - плотность, S' - площадь поперечного сечения) $\qquad F_{min} = 0$

$l_{MAX} = S$

$F \sim l$ — l растёт линейно

~~Пусть m - масса бруска~~ тогда: ~~$\frac{S}{L} m \cdot a = \frac{F_{MAX} - F_{min}}{2}$~~

$3S = L$

~~Значит $F_{тр\,MAX} = \frac{S}{L} \cdot m \cdot a$~~

$m \cdot a = \frac{L(F_{MAX} - F_{min})}{2S}$

$m \cdot a = \frac{L \cdot \mu \cdot S' \cdot \rho \cdot g}{2S} = \frac{m g}{2}$

т.к. F изменяется линейно

$m \cdot a = \frac{F_{MAX} - F_{min}}{2}$

$m \cdot a = \frac{\mu \cdot S \cdot S' \rho \cdot g}{2}$

$m = L \cdot S' \cdot \rho$ ($L \cdot S' = V$)

$L \cdot S' \cdot \rho \cdot a = \frac{\mu S \cdot S' \rho g}{2}$

$a = \frac{\mu S g}{2L}$ — среднее ускорение

~~Так как тело увеличилось~~

Из ур-ий кинематики:

$S = V \cdot \tau - \frac{a\tau^2}{2}$

$V \cdot \tau = S + \frac{\mu S g \cdot \tau^2}{4L}$

$V = \frac{S}{\tau} + \frac{\mu S \cdot g \cdot \tau}{4L}$

$V = \frac{0{,}5}{0{,}74} + \frac{0{,}15 \cdot 0{,}5 \cdot 10 \cdot 0{,}74}{4 \cdot 1{,}5} = 0{,}0925 + 0{,}675 = 0{,}77$ (м/с)

Ответ: $V = S\left(\frac{1}{\tau} + \frac{\mu g \tau}{4L}\right) = 0{,}77$ м/с

ГАЗПРОМ ОТРАСЛЕВАЯ ОЛИМПИАДА ШКОЛЬНИКОВ

$(ab)c = a(bc)$ $E = mc^2$

Использовать только эту сторону листа, обратная сторона не проверяется!

ШИФР 31828

№1

Дано:

R

m

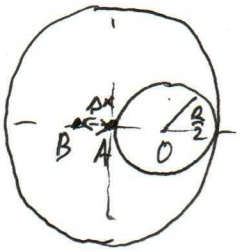
$\frac{R}{2}$

$r = \frac{R}{2}$

$L = 1{,}5\pi R$

$A - ?$

Решение



Δx – смещение центра масс

$m = S \cdot \ell = 4\pi R^2 \cdot \ell$

$m_{отв.} = S_{отв} \cdot \ell = r^2 \cdot 4\pi \cdot \ell = R^2 \pi \ell$ $\Big| = \frac{m}{m_{отв}} = 4$

↑ отверстия

Запишем сумму моментов сил относительно точки A


$\Delta x \cdot (m - m_{отв}) \cdot g = r \cdot m_{отв}$

$\Delta x \cdot 3\pi R^2 \cdot g = \frac{R}{2} \cdot \pi R^2 g$

$\Delta x = \frac{R}{6}$ (1)

$L = 1{,}5\pi R$ – $\frac{3}{4}$ длины окружности

нач. полож.



состояние неустойчивого равновесия

X – центр масс

центр масс поднялся на $\Delta x \cdot 2 = \frac{R}{3}$

Изменение $E_{пот} = (m - m_{отв}) \cdot g \cdot 2 \cdot \Delta x =$

$= \frac{3}{4_2} \cdot m \cdot g \cdot \frac{2}{3} \cdot \frac{R}{3} = \frac{mgR}{2}$; Дальше сила тяжести будет „прокатывать" цилиндр. (Из-за того, что цилиндр находится в состоянии неуст. равновесия) Тогда сила тяжести „прокатит" цилиндр | Работа сил тяжести не зависит от траектории, а зависит от нач. и кон. полож.

Ответ: $A = \frac{mgR}{2}$ (1)