ОТРАСЛЕВАЯ ОЛИМПИАДА ШКОЛЬНИКОВ ГАЗПРОМ

Использовать только эту сторону листа, обратная сторона не проверяется!

ШИФР 32022

Класс 11 **Вариант** 2 **Дата Олимпиады** 03.03.18

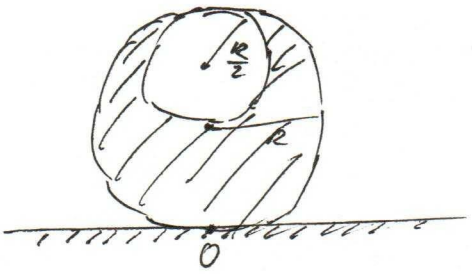
Площадка написания МГТУ им. Баумана

Задача	1	2	3	4	5	6	Σ Цифрой	Σ Прописью	Подпись
Оценка	4б	3б	5б	4б	5б	4б	25	Двадцать пять баллов	Буд

№1 Дано: $R, m, L = 1{,}5\pi R$

$A - ?$

Решение: 4б



1) Найдём центр масс цилиндра:

(отн. т. O):

$$r_{цм} = \frac{mR - \frac{1}{4}\cdot 1{,}5R\cdot m}{\frac{3}{4}m} =$$


Вырезанная часть:

$$\frac{m}{m_1} = \frac{\pi R^2}{\frac{\pi R^2}{4}}$$

$$m_1 = \frac{1}{4}m$$

$$\frac{R(1-0{,}375)}{\frac{3}{4}} = \frac{5}{6}R$$

2)



O - центр цилиндра

O' - центр масс.

Для того, чтобы цилиндр перекатить на $L = \pi R$ необходимо, чтобы O' поднялся на $2R - \frac{5}{6}R$, а дальше работу по перемещению цилиндра будет выполнять $F_{тяжести}$, тогда $A_{min} = E_{п2} - E_{п1} =$

$$= \frac{3}{4}mg\cdot h_2 - \frac{3}{4}mgh_1 = \frac{3}{4}mg\left(2R - \frac{5}{6}R - \frac{5}{6}R\right) =$$

$$= \frac{3}{4}mg\cdot\frac{1}{3}R = \frac{mgR}{4},$$

$$A_{min} = \frac{mgR}{4}$$

Ответ: $\frac{mgR}{4}$

ОТРАСЛЕВАЯ ОЛИМПИАДА ШКОЛЬНИКОВ ГАЗПРОМ

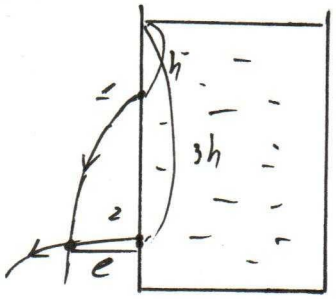
Использовать только эту сторону листа, обратная сторона не проверяется!

ШИФР 32022

№2 Дано: h, $3h$

$\ell - ?$

Решение:



35

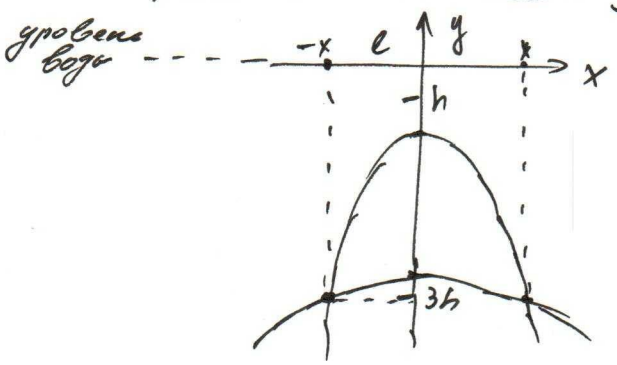
Давления на
- отметке h: $P_1 = \rho g h$
- отметки $3h$: $P_2 = 3\rho g h$

⇓

Скорости струй воды на этих отметках отличаются в 3 раза

$\frac{v_{01}}{v_{02}} = \frac{1}{3}$

Поскольку струи движутся в гравитационном поле земли, то их траектории представляют собой ветви параболы, причём у траектории 2 $a_2 = \frac{1}{3}a_1$



$V_1 t_2 = V_2 t_2$ - ?

$-ax^2 - h = -\frac{1}{3}ax^2 - 3h$.

$2h = \frac{2}{3}ax^2$

$3h = ax^2$

$x \equiv \ell$

По ЗСЭ $E_к = E_п$

$v_{01} = \sqrt{2gh}$ $\quad \frac{mv^2}{2} = mgh$

$v = \sqrt{2gh}$

$3h = \frac{g}{2}x^2$

по Н. Пифагору

$v_y = v_0 + gt$ $\quad v = \sqrt{2gh + g^2t^2}$

$x = \sqrt{\frac{6h}{10}}$;

$a = \frac{g}{2}$

$x = \sqrt{\frac{3h}{5}}$

Ответ: $\sqrt{\frac{3h}{5}}$;

ГАЗПРОМ ОТРАСЛЕВАЯ ОЛИМПИАДА ШКОЛЬНИКОВ

Использовать только эту сторону листа, обратная сторона не проверяется!

ШИФР 32022

55

№3 Дано:

$V_1 = 4$ л $p_1 = 10^6$ Па


$n = 3$

$\begin{cases} A - ? \\ V_{увел в n} \end{cases}$

Решение:

I Без. газа:

1)

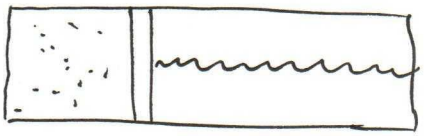


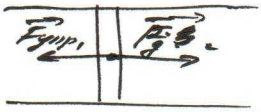
пружина недеформирована

2)

С газом

$V_1 = 4$ л $p_1 = 10^6$ Па.



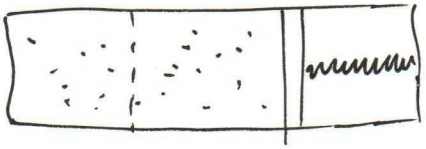


$p = \frac{F_g}{S}$

$F_{g_1} = F_{упр_1}$, $\sum \vec{F_i} = \vec{0}$

$p_1 \cdot S = k \cdot x_1$

3) $V_2 = V_1 \cdot 3$





Изменяется объём S сечения цилиндра не изменяется

$\Rightarrow \frac{x_1}{x_2} = \frac{V_1}{V_2} = \frac{1}{n} = \frac{1}{3}$

$\sum \vec{F_i} = \vec{0}$

$F_{упр_2} = F_{g_2}$

$p_2 \cdot S = k x_2$

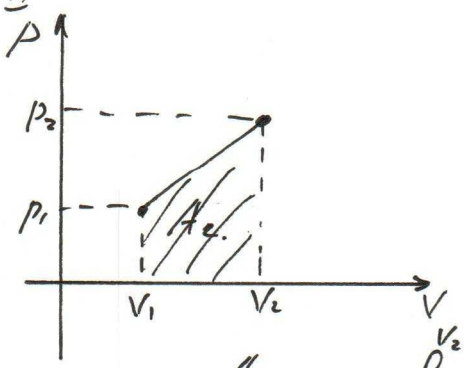
$S = const$ $k = const$

$\frac{p_1 S}{p_2 S} = \frac{k x_1}{k x_2} = \frac{1}{n} = \frac{1}{3}$

$p_2 = 3 p_1$; $p_2 = 3 \cdot 10^6$ Па.

$V_2 = 3 V_1$; $V_2 = 12$ л.

II



$A_{газ} = \int_{V_1}^{V_2} p(V)\,dV =$ S фигуры под графиком;

$A_{газа} = \Delta V_{12} \frac{(p_1 + p_2)}{2}$; $A_{газа} = (12 - 4) \cdot 10^{-3} \cdot 10^6 \frac{(3+1)}{2}$;

$= 8 \cdot 2 \cdot 10^3 = 16 \cdot 10^3$ Дж

Ответ: 16 кДж

1

ГАЗПРОМ ОТРАСЛЕВАЯ ОЛИМПИАДА ШКОЛЬНИКОВ

$(ab)c = a(bc)$ $E = mc^2$

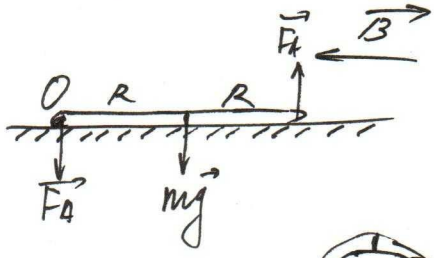
Использовать только эту сторону листа, обратная сторона не проверяется!

ШИФР 32022

№4 Дано: $R, \cancel{x}, I, B$

$m - ?$

Решение:




$$\begin{cases} F_A = I[\vec{B},\vec{\ell}] = IB\ell\sin\alpha \\ \sum \vec{M_i} = 0 \end{cases}$$

$\alpha = 90°$

$\Downarrow\Downarrow$

$\sin\alpha = 1.$



отн. точки O:

$A_{мех} = A_{маг. поля}$

$$0 = -mgR + 2F_A \cdot R$$

$$mgR = 2F_A \cdot R. \qquad \ell = \frac{1}{2}\cdot\pi d = \pi R.$$

$$mgR = 2 \cdot I \cdot B \cdot \ell \cdot R$$

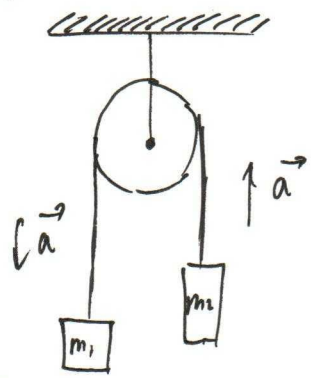
$$mg = 2 \cdot IB \cdot \pi R.$$

$$m = \frac{2IB\pi R}{g};$$ Ответ: $\frac{2IB\pi R}{g}$

№5 Дано: m_1, m_2, $m_1 > m_2$, m_0

авер $- ?$

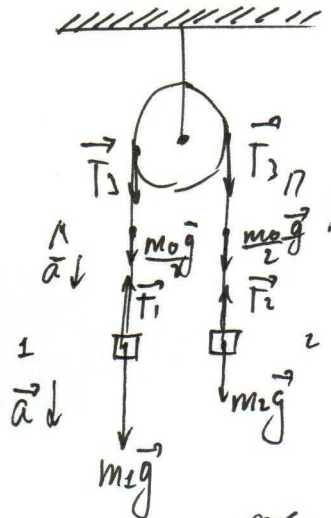
Решение:



Когда длины верёвок симметрично:

слева: $\frac{m_0}{2}$ справа $\frac{m_0}{2}$.

Вся система движется с одинаковым ускорением.



$$\sum \vec{F_i} = m\vec{a}$$

груз 1: $m_1 g - T_1 = m_1 a$

груз 2: $T_2 - m_2 g = m_2 a.$

$m_1 g - (T_1 - T_2) - m_2 g = (m_1 + m_2)a$

нить 1: $-T_3 + T_1 + \frac{m_0 g}{2} = \frac{m_0 a}{2}$

нить 2: $T_3 - T_2 - \frac{m_0 g}{2} = \frac{m_0 a}{2}$

$T_1 - T_2 = m_0 a.$

Ответ: $\frac{(m_1 - m_2)g}{m_0 + m_1 + m_2} - m_0 a = (m_1 + m_2)a$; $a = \frac{(m_1 - m_2)g}{m_0 + m_1 + m_2}$;

ГАЗПРОМ ОТРАСЛЕВАЯ ОЛИМПИАДА ШКОЛЬНИКОВ

$(ab)c=a(bc)$ $E=mc^2$

Использовать только эту сторону листа, обратная сторона не проверяется!

ШИФР 32022

№6 Дано:

$L=1{,}5$ м.

$\mu=0{,}15$

$S=0{,}5$ м

$\tau=0{,}74$ с

$g=10\ м/с^2$

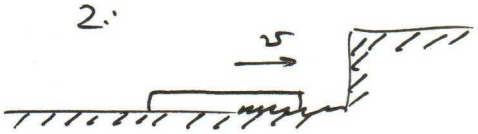
$v_0-?$

Решение:


1:



2:



3:



I Сила трения переменная $\Rightarrow$ переменное ускорение

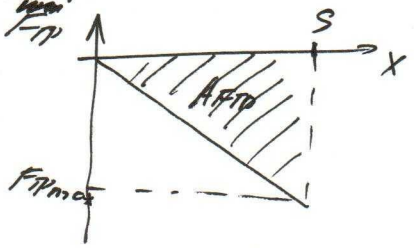
По ЗСЭ:

$$\underbrace{\frac{mv_0^2}{2}}_{E_{K1}} = A_{тр} + \underbrace{\frac{mv_1^2}{2}}_{E_{K2}}$$

v_1 – скорость перед ударом.

II

$A_{тр}$:



После А.Н.У.У вся E_{K2} переходит в И.

$$F_{тр} = \frac{m}{L}\cdot x\cdot\mu\cdot g$$

$$F_{тр\,max} = \frac{mS}{L}\mu g$$

$$A_{тр} = \frac{mS^2\mu g}{L}$$

$$\frac{mv_0^2}{2} = \frac{mS^2\mu g}{L} + \frac{mv_1^2}{2}$$

$$v_0^2 - v_1^2 = \frac{2S^2\mu g}{L}$$

$$v_0^2(1-\alpha\cdot\cos\omega t) = \frac{2S^2\mu g}{L}$$

$$v_0 = \sqrt{\frac{2S^2\cdot\mu g}{L - L\alpha\cdot\cos\omega t}}$$

$$\omega = \sqrt{\frac{\mu\cdot g}{L}};\ \omega = 1$$

$$v_0 = \sqrt{\frac{2\cdot 0{,}5^2\cdot 0{,}15\cdot 10}{1{,}5 - 1{,}5\cdot\alpha\cdot\cos(0{,}74)}} \approx 1{,}4\ м/с$$

III $\sum\vec{F_i} = m\vec{a}$

$$ma(t) = -\frac{m}{L}x(t)\cdot\mu\cdot g$$

$$m\ddot{x} + \frac{mx\mu g}{L} = 0$$

$$\ddot{x} + \frac{\mu g}{L}\cdot x = 0$$

Уравн. ур. гармонич. колебан.

$$\omega = \sqrt{\frac{\mu g}{L}}$$

$$x(t) = x_0\cdot\sin\omega t \xrightarrow{\text{дифф.}}$$

$$v(t) = v_0\cdot\omega\cdot\cos\omega t$$

$$v_1 = v_0\cdot\omega\cdot\cos\omega t$$

Ответ: 1,4 м/с. (1)