ОТРАСЛЕВАЯ ОЛИМПИАДА ШКОЛЬНИКОВ ГАЗПРОМ

Использовать только эту сторону листа, обратная сторона не проверяется!

ШИФР 32283

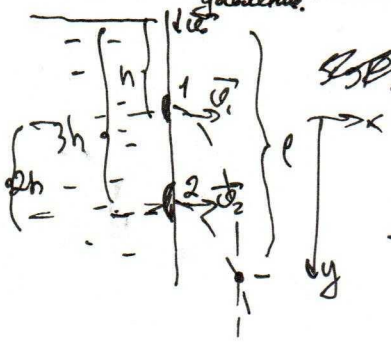
Класс 11 Вариант 1 Дата Олимпиады 3.03.2018

Площадка написания МГТУ им. Баумана

Задача	1	2	3	4	5	6	Σ Цифрой	Σ Прописью	Подпись
Оценка	4	5	5	4	4	3	25	Двадцать пять баллов	Буду

Решение:

№2) P_0 – атмосф. давление. 1) Рассмотрим точку один: $P_1 = P_0 + \rho g h$



$\frac{\rho v_0^2}{2} + P_0 + \rho g h + \frac{\rho v_0^2}{2} \approx 0 = \frac{\rho v_1^2}{2} + P_0 \Rightarrow$

$\Rightarrow v_1 = \sqrt{2gh}$; $v_{1y} = v_1 - gt$; $y = 2h - \frac{gt^2}{2}$; $x = v_1 t_1$

2) рассмотрим точку 2: $P_2 = P_0 + \rho g 3h$

$P_0 + \rho g 3h + \frac{\rho v_0^2}{2} \approx 0 = \frac{\rho v_2^2}{2} + P_0 \Rightarrow v_2 = \sqrt{6gh}$; $v_{2y} = v_2 - gt$

$v_1 t_1 = v_2 t_2 \Rightarrow t_1 = t_2 \frac{v_2}{v_1}$ $\quad y = -\frac{gt^2}{2}$

$x = v_2 t_2$

$\frac{gt_1^2}{2} - 2h = \frac{gt_2^2}{2}$

$t_1^2 - t_2^2 = \frac{4h}{g} = t_2^2\left(\frac{v_2^2}{v_1^2} - 1\right) = \frac{4h}{g} \Rightarrow t_2^2 = \frac{4h}{g\left(\frac{6gh}{2gh} - 1\right)} = \frac{4h}{g \cdot 2} = \frac{2h}{g} \Rightarrow t_2 = \sqrt{\frac{2h}{g}}$

$y = -\frac{g \cdot 2h}{2g} = -h \Rightarrow l = |y| + 3h = 4h$

Ответ: $4h$

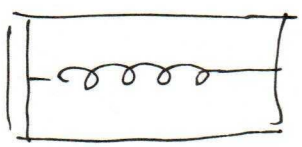
№3) Решение:

Дано:

$\nu_{He} = 2$

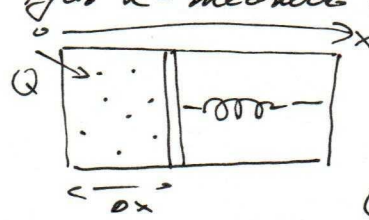
$\nu_{Ne} = 3$

$C - ?$



пусть ℓ – начальная длина пружины

пусть S – площадь поршня



пусть k – жесткость пружины

пусть поршень сместился на Δx

$A_n = \Delta E_n = \frac{k \Delta x^2}{2} = \frac{P \cdot S \Delta x}{2} = \frac{R_{\text{Т}}(\nu_{He} + \nu_{Ne})}{2}$

$C = \frac{Q}{\Delta T}$

$P = P_{He} + P_{Ne}$ – закон Дальтона

$\begin{cases} P_{He} \Delta x S = \nu_{He} R T \\ P_{Ne} \Delta x S = \nu_{Ne} R T \end{cases} \Rightarrow P = \frac{RT}{\Delta x S}(\nu_{He} + \nu_{Ne})$; по I закону термодинамики

$Q = \Delta U + A$; $Q = \Delta U_{He} + \Delta U_{Ne} + A =$

$= \frac{3}{2} R \Delta T (\nu_{He} + \nu_{Ne}) + A = \frac{3}{2} R \Delta T (\nu_{He} + \nu_{Ne}) + \frac{R \Delta T (\nu_{He} + \nu_{Ne})}{2}$

$C = 2R(\nu_{He} + \nu_{Ne}) = 10R$

Ответ: $C = 2R(\nu_{He} + \nu_{Ne}) = 10R$.

ГАЗПРОМ ОТРАСЛЕВАЯ ОЛИМПИАДА ШКОЛЬНИКОВ

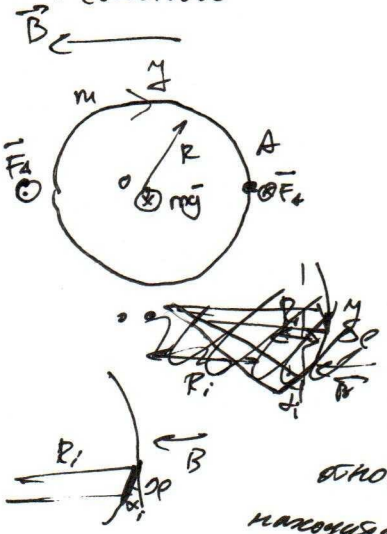
$(ab)c=a(bc)$ $E=mc^2$

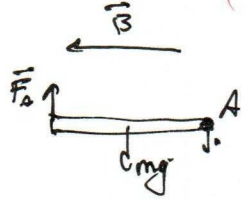
Использовать только эту сторону листа, обратная сторона не проверяется!

ШИФР 32283

№4) Решение

Дано: R, m, γ | $B-?$





разобьем на маленькие участки dl

$F_{A_i} = dl\, j B \cos\alpha_i$

Моменты сил участков относ. точки A:

$M_i = F_{A_i} R_i$

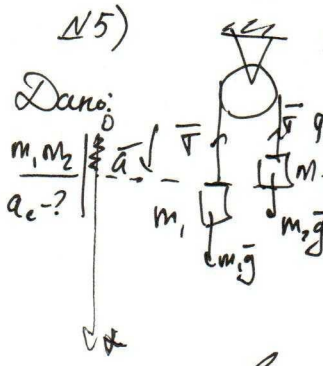
$M_{A_j} = \sum_i M_i = \sum_i F_{A_i} R_i = \gamma B \pi R^2$

т.к. кольцо приподнимается, то сумма моментов относительно точки A = 0, центр масс кольца находится в центре кольца.

$\sum M_A = M_{A_j} - \gamma B \pi R^2 - mgR = 0 \Rightarrow \gamma B \pi R^2 = mgR \Rightarrow B = \frac{mg}{\gamma R}$!

Ответ: $B = \frac{mg}{\gamma R}$

№5) Решение:



Дано: m_1, m_2 | $a_c-?$

нить невесома и нерастяжима, тогда сила натяжения одинакова в т точках нити; (1)

пусть $m_1 > m_2$ для определенности.

ускорения грузов одинаковые (ну т)

Запишем II З. Ньютона для m_1 и m_2

$m_1\bar{a} = m_1\bar{g} + \bar{T}$; $m_2\bar{a} = m_2\bar{g} + \bar{T}$

в проекции на ось ox:

(2) $m_1 a = m_1 g - T$; $m_2 a = -m_2 g + T$; (3)

с.ю - расположена по направлению движения

$(x_{цм})'' = \frac{m_1 x_1'' - m_2 x_2''}{m_1 + m_2} \Rightarrow a_c = \frac{m_1 a - m_2 a}{m_1 + m_2} = \frac{m_1 - m_2}{m_1 + m_2} a = \left(\frac{m_1 - m_2}{m_1 + m_2}\right)^2$!

проекция груза за т. $(x_1 = x_2)$ ну (1)

$x_1'' = a_1$

$x_2'' = a_2$

$x_{цм}'' = a_c$

(2) и (3)

$a(m_1 + m_2) = m_1 g - m_2 g \Rightarrow a = g\frac{m_1 - m_2}{m_1 + m_2}$

т.к. $m_1 > m_2$ я выбрал правильно, то можно на радость $m_1 - m_2$ убавить модуль, но она в квадрате => знак будет положительным

Ответ: $a_c = \left(\frac{m_1 - m_2}{m_1 + m_2}\right)^2$? $a_{цм}$ - не безразмерная же!

ГАЗПРОМ ОТРАСЛЕВАЯ ОЛИМПИАДА ШКОЛЬНИКОВ

Использовать только эту сторону листа, обратная сторона не проверяется!

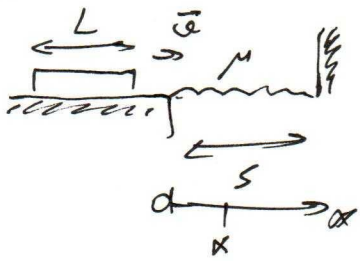
ШИФР 32283

№6) Решение:

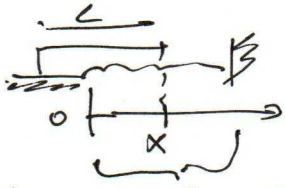
Дано:
$v = 1$ м/с;
$L = 1{,}5$ м;
$\mu = 0{,}15$
$S = 0{,}5$
$g = 10$ м/с²

τ - ?


пусть m - масса бруска.



рассмотрим, когда брусок въедет на x, не переходя всюду по поверхность $x \le S$.



$F_{тр_x} = \mu N_x = \mu mg \frac{x}{L}$



$A_{тр} = -S_{ф} = -\mu mg \frac{S^2}{L} \cdot \frac{1}{2}$

Запишем З. сохр. энергии.

$A_{тр} = \Delta E_к = E_{к_к} - E_{к_н} = \frac{mv_2^2}{2} - \frac{mv^2}{2}$, где v_2 - скорость удара о стенку

$-\mu mg \frac{S^2}{2L} = \frac{m}{2} v_2^2 - \frac{mv^2}{2} \Rightarrow v_2 = \sqrt{v^2 - \mu g \frac{S^2}{L}}$

т.к. удар абсолютно неупругий, то брусок прилипает к стенке, т.е. остановится.

$S = \frac{v + v_2}{2} t \Rightarrow t = \frac{2S}{\sqrt{v^2 - \mu g \frac{S^2}{L}} + v} = \frac{1}{\sqrt{1 - 0{,}15 \cdot 0{,}5 \cdot \frac{0{,}5^2}{1{,}5}} + 1} = \frac{1}{\sqrt{0{,}975} + 1} =$


$= \frac{1}{1{,}75} = 0{,}6$ с

Ответ: $t = \frac{2S}{v - \sqrt{v^2 - \mu g \frac{S^2}{L}}} = 0{,}6$ с.

№1) Решение:

Дано:
$M = \frac{R}{2}$
$n = 3$
$\rho = \rho$
m
$C = \pi R$

A - ?



d - толщина

масса шара $M = m + m = 2m$

рассмотрю как шар с радиусом R и плотностью ρ, и шар с радиусом $\frac{R}{2}$ и плотностью $\rho' = 2\rho$

$\frac{m_2}{m_1} = \frac{\rho \frac{4}{3}\pi \frac{R^2}{4}}{\rho \frac{4}{3}\pi R^2} = \frac{1}{4}$

$y_{ц.м} = \frac{m_1 R + m_2 \frac{R}{2}}{m_1 + m_2} = R \frac{2\rho d R^2 \pi + 2\rho d \frac{R^2}{4}\pi \cdot \frac{1}{2}}{2 \cdot \rho d R^2 \pi + 2\rho d \frac{R^2}{4}\pi} =$

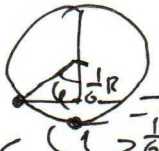
$= R \frac{1 + \frac{1}{4}}{1 + \frac{1}{2}} = R \frac{\frac{5}{4}}{\frac{3}{2}} = \frac{5}{6} R$

центр переместился на расстояние $l = \pi R$

Относительно точки O центр тяжести будет двигаться по кругу.

$A = \Delta E_{р\,ц.м}$; если центр шара прошел расст. πR, то и точка на расстоянии R от центра по окружности прошла расстояние πR

$\frac{x_{ц.м}}{x_{окр}} = \frac{\frac{1}{6}R}{R} = \frac{1}{6} \Rightarrow x_{ц.м} = \frac{1}{6}\pi R$



$A = Mg \Delta y = Mg(R - R\cos\varphi) = 2\rho\pi R(1 - \cos\frac{\pi}{6}) g$

ΔE_p

$\frac{1}{6}\pi R = \varphi R \Rightarrow \varphi = \frac{1}{6}\pi$

Ответ: $A = 2mgR(\cos\frac{\pi}{6} - 1)$