ОТРАСЛЕВАЯ ОЛИМПИАДА ШКОЛЬНИКОВ ГАЗПРОМ

Использовать только эту сторону листа, обратная сторона не проверяется!

ШИФР 32438

Класс 11 **Вариант** 1 **Дата Олимпиады** 03.03.18

Площадка написания МГТУ им. БАУМАНА


Задача	1	2	3	4	5	6	Σ Цифрой	Σ Прописью	Подпись
Оценка	5	5	5	5	5	5	27	Двадцать семь баллов	Буб

№ 1. 5


Дано:
R
m
$n = 3$
$r = \frac{R}{2}$

$A_{мин}$ - ?

Решение: Совершить работу для $L = \pi R$

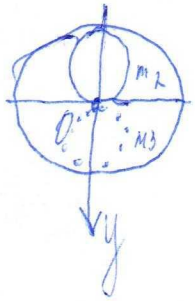


Масса цилиндра с отверстием равна $m_1 = \frac{3}{4} m$



Для перекатывания цилиндра на расстояние $L = \frac{3\pi}{4} \cdot R$ необходимо совершить минимальную работу: $A = \frac{3}{4} m \cdot g \cdot \Delta y_c$, где Δy_c – перемещение центра масс цилиндра вдоль вертикали оси y.

Представляя цилиндр с отверстием, как сумму двух симметричных тел с массами тел $m_2 = \frac{m}{2}$ и $m_3 = \frac{m}{4}$.



и взяв начало координат в центре цилиндра (точка O) получим $y_c = \frac{m_3 \cdot \frac{R}{2}}{m_2 + m_3}$, т.е. $y_c = \frac{\frac{m}{4} \cdot \frac{R}{2}}{\frac{3}{4} m} = \frac{R}{6}$

следовательно $\Delta y_c = 2 y_c = \frac{R}{3} \Rightarrow A = \frac{3}{4} \cdot m \cdot g \cdot \frac{R}{3} = \frac{m \cdot g \cdot R}{4}$

Ответ: $A_{мин} = \frac{m \cdot g \cdot R}{4}$ (+)

ГАЗПРОМ ОТРАСЛЕВАЯ ОЛИМПИАДА ШКОЛЬНИКОВ

$(ab)c=a(bc)$ $E=mc^2$

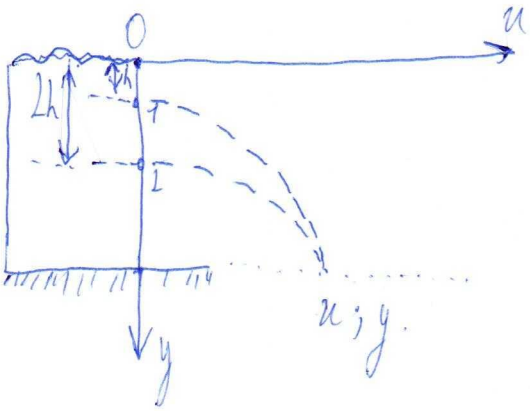
Использовать только эту сторону листа, обратная сторона не проверяется!

ШИФР 32438

№ 2.

Дано: g, h, $x-?$

Решение:



Струи воды вытекающие из отверстий 1 и 2 расположены в плоскостях x и y. Координаты точки пересечения струй определяются кинематическими соотношениями:

$$x = v_1 t_1 = v_2 t_2$$

$$y = h + \frac{g t_1^2}{2} = 3h + \frac{g t_2^2}{2}$$, где скорости $v_1 = \sqrt{2gh}$; $v_2 = \sqrt{3g3h} = 3\sqrt{gh}$

находим используя уравнение Бернулли.

Из этих соотношений находим $x = 3h\sqrt{2}$

Ответ: $x = 3h\sqrt{2}$.

№ 4.

Дано: R, m, I, $B-?$

Решение:

Из условия равновесия кольца $I \cdot \pi R^2 B = m \cdot g R$ находим B.

$$B = \frac{m \cdot g \cdot R}{I \cdot \pi \cdot R^2} = \frac{m \cdot g}{I \cdot \pi}$$

Ответ: $B = \frac{m \cdot g}{I \cdot \pi}$

ГАЗПРОМ ОТРАСЛЕВАЯ ОЛИМПИАДА ШКОЛЬНИКОВ

$(ab)c=a(bc)$ $E=mc^2$

Использовать только эту сторону листа, обратная сторона не проверяется!

ШИФР 32438

№ 3.

Дано: $R=8{,}31 \frac{Дж}{моль \cdot K}$

$\nu_{неон}=2$ моль

$\nu_{гелий}=3$ моль

$C-?$

Решение:

1) Подводимая к газу теплота Q идет на изменение внутренней энергии газа и изменение потенциальной энергии сжатой пружины.:

$\Delta Q = \frac{3}{2}\nu R \Delta T + \frac{k}{2}(x_2^2 - x_1^2)$ (1), где

x - величина деформации пружины; ν - число молей газовой смеси

k - коэф. жесткости.

2) Состояние идеального газа описывается уравнением $pV=\nu \cdot RT$, из условия равновесия поршня следует, что $p=\frac{F}{S}=\frac{kx}{S}$, где F - сила упругости, S пл. поршня

кроме того $V=x \cdot S$. Получаем: $\frac{kx}{S} \cdot xS = \nu \cdot R \cdot T \Rightarrow$

$\Rightarrow kx^2 = \nu RT$

Для двух положений поршня имеем: $kx_2^2 - kx_1^2 = \nu \cdot R \cdot \Delta T$

Подставим всё: $\Delta Q = \frac{3}{2}\nu R \Delta T + \frac{1}{2}\nu R \Delta T = 2\nu R \cdot \Delta T$

теплоемкость системы $C = \frac{\Delta Q}{\Delta T} = 2\nu R$, по условию задачи в левой части 2 моля неона и 3 моля гелия, то $\nu_\Sigma = 5$, тогда $C = 2 \cdot 5 \cdot R = 10R$

$C = 2 \cdot 5 \cdot 8{,}31 = 83{,}1 \frac{Дж}{K}$

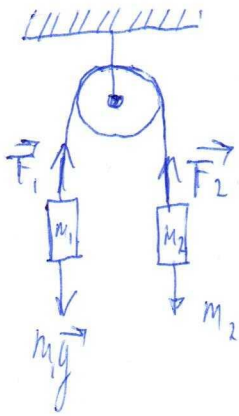
Ответ: $C = 2\nu R = 10R$; $C = 83{,}1 \frac{Дж}{K}$. (+)

№ 5

Дано: m_1; m_2

w_c – ?

Решение:



Центр инерции движется, как материальная точка с массой (m_1+m_2) под действием результирующей всех сил, приложенных к телам

(1) $\vec{w_c} = \dfrac{\vec{F}}{m_1+m_2}$

Из условия нерастяжимости нити, что тела движутся с одним и тем же ускорением $\vec{a}$, в проекциях:

$$\begin{cases} m_1 a = T - m_1 g \\ m_2 a = m_2 g - T \end{cases} \Rightarrow T = \frac{2 m_1 m_2}{m_1+m_2} \cdot g \quad (2)$$

$$\vec{F} = (m_1+m_2)\vec{g} + 2\vec{T} = (m_1+m_2)\cdot\vec{g} - \frac{4 m_1 m_2}{m_1+m_2} =$$

(3) $$= \frac{(m_1-m_2)^2}{(m_1+m_2)} \cdot \vec{g}$$

подставим (3) в (1):

$$\vec{w_c} = \left(\frac{m_1-m_2}{m_1+m_2}\right)^2 \cdot \vec{g}$$

Ответ: $\vec{w_c} = \left(\dfrac{m_1-m_2}{m_1+m_2}\right)^2 \cdot \vec{g}$

5

ОТРАСЛЕВАЯ ОЛИМПИАДА ШКОЛЬНИКОВ

$(ab)c = a(bc)$ $E = mc^2$

Использовать только эту сторону листа, обратная сторона не проверяется!

ШИФР 32437

№ 6

45

Дано:

$v_0 = 1\ м/с$

$L = 1{,}5\ м$

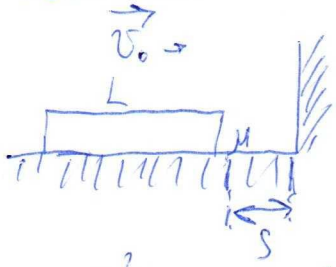
$\mu = 0{,}1$

$S = 0{,}5\ м$

$g = 10\ м/с^2$

$t - ?$

Решение:



$$\frac{m \cdot v^2}{2} - \frac{m v_0^2}{2} = \frac{\mu \cdot m \cdot S^2 \cdot g}{2L};$$

$$v = \sqrt{\frac{L \cdot v_0^2 - \mu \cdot S^2 \cdot g}{L}} \quad (1)$$

$v_0 = w \cdot A;$ $\quad v = v_0 \cdot \cos(wt)$

$v = A \cdot w \cdot \cos(w \cdot t)'$ $\quad \arccos\left(\frac{v}{v_0}\right) = wt$

$$(2)\ t = \frac{\arccos\left[\frac{v}{v_0}\right]}{w}$$

из (1) и (2)

$$-m \cdot w^2 \cdot x = \frac{\mu \cdot m \cdot x g}{L}; \quad x = S$$

$$w^2 = \frac{(\mu \cdot g)}{L} \Rightarrow w = \sqrt{\frac{\mu \cdot g}{L}}$$

подставим w в (2), найдем t.

$$t = \frac{\arccos\left(\frac{v}{v_0}\right)}{\sqrt{\frac{\mu \cdot g}{L}}}$$

−