ОТРАСЛЕВАЯ ОЛИМПИАДА ШКОЛЬНИКОВ ГАЗПРОМ

$(ab)c=a(bc)$ $E=mc^2$

Использовать только эту сторону листа, обратная сторона не проверяется!

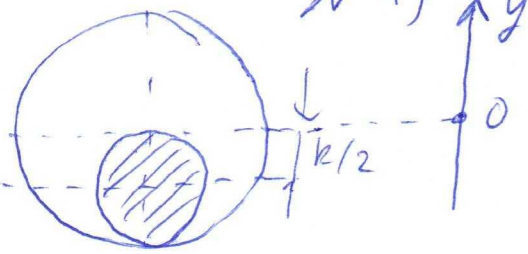
ШИФР 32536

Класс 11 **Вариант** 1 **Дата Олимпиады** 03.03.2018

Площадка написания МГТУ им. Баумана

Задача	1	2	3	4	5	6	Σ Цифрой	Σ Прописью	Подпись
Оценка	45	55	45	45	55	45	26	Двадцать шесть баллов	Буд

№ 1)



Пусть ρ - плотность цилиндра
h - его высота

45

Дано:
$m; R$
$r = \frac{R}{2}$
$h = 3$
$L = \pi R$

A - ?

1) Определим положение центра тяжести полученного тела. Центр тяжести есть центр масс системы. Введем ось OY. Центр оси совпадает с центром тяжести изначального цилиндра. Воспользуемся методом отрицательных масс. Отсутствие части цилиндра означает, что эта часть заполнена веществом с такой же плотностью по модулю и обратной по знаку. Получается, что система состоит как бы из 3-х тел:

1) Цилиндр $m = \rho g \pi R^2 h$
2) маленький цилиндр $m_1 = -\rho g \pi \frac{R^2}{4} h = -\frac{m}{4}$
3) маленький цилиндр $m_2 = n \rho g \pi \frac{R^2}{4} h = \frac{nm}{4}$

Тогда:

$$y_{ц.м} = \frac{m \cdot 0 + \left(-\frac{m}{4}\right)\left(-\frac{R}{2}\right) + \frac{nm}{4}\left(-\frac{R}{2}\right)}{m - \frac{m}{4} + \frac{nm}{4}}$$

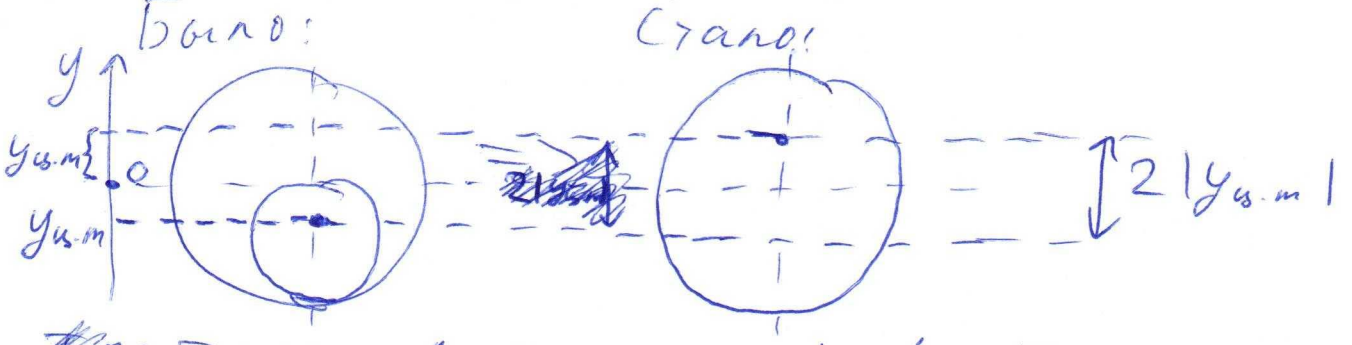
Использовать только эту сторону листа, обратная сторона не проверяется!

ШИФР 32536

Продолжение №1):

$$y_{ц.м} = \frac{\frac{m}{4}\frac{R}{2} - n\frac{m}{4}\frac{R}{2}}{3\frac{m}{4} + \frac{mn}{4}} = \frac{\frac{R}{2}(1-n)}{3+n}$$

2) Т.к. цилиндр двигается без проскальзывания, то центр пройдет такое же расстояние, что и каждая точка на поверхности цилиндра. Значит, если центр прошел $L = \pi R$, то каждая точка прошла половину оборота:



Тогда $A = m_{\text{системы}} g h = \left(m - \frac{m}{4} + \frac{mn}{4}\right) g \cdot 2|y_{ц.м}|$

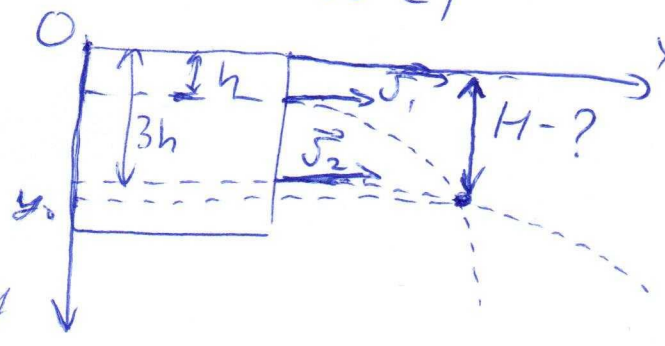
$$A = \left(\frac{3m}{4} + \frac{m}{4}n\right) 2 \cdot \left|\frac{\frac{R}{2}(1-n)}{3+n}\right| = 2\cdot\frac{m}{4}(3+n)\frac{R}{2}\frac{(n-1)}{(3+n)} =$$

$$= \frac{mR(n-1)}{4} = \frac{mR}{2}$$

Ответ: $A = \frac{mR(n-1)}{4} = \frac{mR}{2}$

№2)

Дано:
h; $3h$



5

Продолжение №2):

1) Найдем скорость вытекания воды из струй:

По ур-ю Бернулли:

$\frac{\rho v_1^2}{2} + p_0 = p_0 + \rho g h$ $\quad$ $\frac{\rho v_2^2}{2} + p_0 = p_0 + \rho g 3h$

$v_1 = \sqrt{2gh}$ $\quad$ $v_2 = \sqrt{6gh}$

2) Введем систему координат XOY

Из кинематики: $\vec{r} = \vec{r_0} + \vec{v_0} t + \frac{\vec{a} t^2}{2}$

для первой струи:

OY: $y_1 = h + \frac{g t^2}{2}$

OX: $x_1 = v_1 t \Rightarrow t = \frac{x_1}{v_1}$

$y_1 = h + \frac{g x_1^2}{2 v_1^2} \Rightarrow x_1^2 = \frac{(y_1 - h) 2 v_1^2}{g}$

для второй струи:

OY: $y_2 = 3h + \frac{g t^2}{2}$

OX: $x_2 = v_2 t \Rightarrow t = \frac{x_2}{v_2}$

$y_2 = 3h + \frac{g x_2^2}{2 v_2^2}$

$x_2^2 = \frac{(y_2 - 3h) 2 v_2^2}{g}$

Струи воды пересекаются $\Rightarrow$

$\begin{cases} x_1 = x_2 \Rightarrow x_1^2 = x_2^2 \\ y_1 = y_2 = y_0 \end{cases}$

$(y_0 - h) v_1^2 = (y_0 - 3h) v_2^2$

$y_0 v_1^2 - h v_1^2 = y_0 v_2^2 - 3h v_2^2$

$y_0 (v_1^2 - v_2^2) = h v_1^2 - 3h v_2^2$

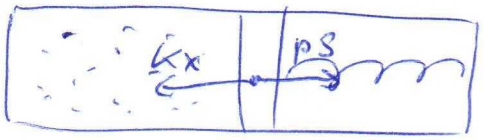
$y_0 = \frac{h(v_1^2 - 3v_2^2)}{v_1^2 - v_2^2} = \frac{h(2gh - 18gh)}{2gh - 6gh} = 4h$ (+)

Продолжение №2 (!)

Из рисунка $H = y_0 = 4h$ (+)

Ответ: $H = 4h$

№3



$\nu = \nu_{не} + \nu_{не} = 3 + 2 = 5$ (5)

1) Поршень передвигается медленно $\Rightarrow a = 0 \Rightarrow$ по II з-ну Ньютона $kx = pS$

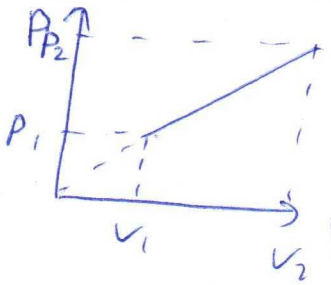
$$p = \frac{kx}{S} = \frac{k x S}{S^2} = \frac{kV}{S^2} = \alpha V$$

(линейная зависимость)

2) Из ур. Менделеева-Клапейрона:

$pV = \nu RT$

$\alpha V^2 = \nu RT$



$$A = \frac{p_2 + p_1}{2}(V_2 - V_1) = \frac{\alpha(V_2 + V_1)(V_2 - V_1)}{2} = \frac{\alpha(V_2^2 - V_1^2)}{2} = \frac{\nu R \Delta T}{2}$$

степени свободы

2) $\Delta U = \frac{i_{не}}{2}\nu_{не} R \Delta T + \frac{i_{не}}{2}\nu_{не} R \Delta T = \frac{R \Delta T}{2}(i_{не}\nu_{не} + i_{не}\nu_{не})$

3) По первому началу ТД:

$$Q = A + \Delta U = \frac{\nu R \Delta T}{2} + \frac{R \Delta T}{2}(i_{не}\nu_{не} + i_{не}\nu_{не})$$

$$C = \frac{Q}{\Delta T} = \frac{\nu R}{2} + \frac{R}{2}(i_{не}\nu_{не} + i_{не}\nu_{не})$$


Гелий и неон одноатомные $\Rightarrow i_{не} = i_{не} = 3$

Продолжение №3

$$C = \frac{JR}{2} + \frac{3RJ}{2} = \frac{5}{2}JR = \frac{25}{2}R = 103{,}875\ \frac{Дж}{К}$$

Ответ: ~~$\frac{3R}{2}$~~ $C = \frac{5}{2}(J_{не} + J_{не})R = \frac{25}{2}R = 103{,}875\ \frac{Дж}{К}$

№4)



Рассмотрим точку M

Условие отрыва:

$$M_{F_A} \geq M_{mg}$$

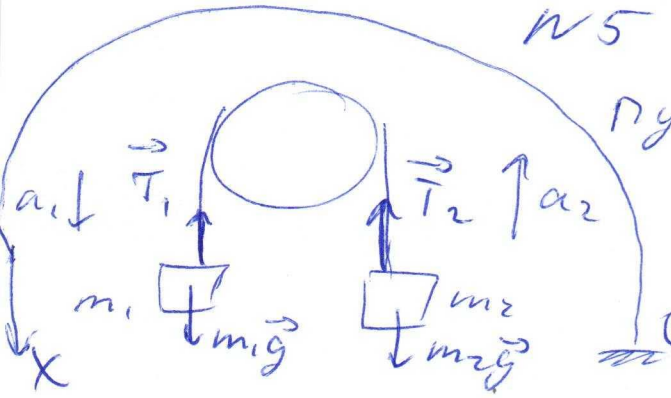
$$BIS \geq mgR$$

$$BI\pi R^2 \geq mgR$$

$$\boxed{B \geq \frac{mg}{I\pi R}}$$

Ответ: $B \geq \frac{mg}{I\pi R}$

№5



Пусть $m_1 > m_2$

$|\vec{a}_1| = |\vec{a}_2| = a$ (т.к. нить нелкая, нерастяжимая)

$|\vec{T}_1| = |\vec{T}_2| = T$

II З-н на Ox:

$$\begin{cases} m_1 a = m_1 g - T \\ m_2 a = T - m_2 g \end{cases} \Rightarrow (m_2 + m_1)a = g(m_1 - m_2)$$

$$a = \frac{g(m_1 - m_2)}{m_2 + m_1}$$

ГАЗПРОМ ОТРАСЛЕВАЯ ОЛИМПИАДА ШКОЛЬНИКОВ


$(ab)c=a(bc)$ $E=mc^2$

Использовать только эту сторону листа, обратная сторона не проверяется!

ШИФР 32536

Продолжение №5):

Найдем ускорение центра масс системы



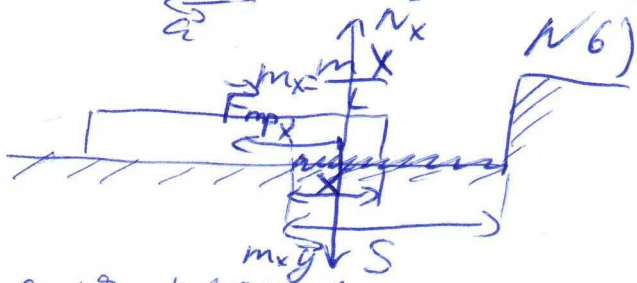
$$a_{цм} = \frac{m_1 a_{1y} + m_2 a_{2y}}{m_1 + m_2} =$$

$$= \frac{-m_1 a + m_2 a}{m_1 + m_2} = a\frac{(m_2 - m_1)}{m_1 + m_2} =$$

$$= \frac{-g(m_1 - m_2)^2}{(m_1 + m_2)^2} \quad |a_{цм}| = g\left(\frac{m_1 - m_2}{m_1 + m_2}\right)^2$$

Ответ: $|a_{цм}| = g\left(\frac{m_1 - m_2}{m_1 + m_2}\right)^2$ (+)

№6)



Дано: $v = 1$ м/с

$L = 1{,}5$ м

$m = 0{,}15$ $S = 0{,}5$ м

$g = 10$ м/с^2

5

для произвольного момента времени:

По II з-ну Ньютона:

$$\begin{cases} F_{трx} = ma \\ F_{тр} = \mu N(x) = \mu \frac{m_x}{L} g \end{cases} \Rightarrow \mu \frac{m}{L} x g = ma$$

$$a = \frac{\mu}{L} x g$$

Получается, что ускорение линейно возрастает, значит его можно заменить на среднее

$$a_{ср} = \frac{a_0 + a_S}{2} = \frac{0 + \frac{\mu}{L} S g}{2} = \frac{\mu g S}{2L} = \frac{0{,}05}{\frac{0{,}5 \cdot 10 \cdot 0{,}5}{2 \cdot 1{,}5}} =$$

$$= 0{,}2\frac{3}{5}$$

Из кинематики:

$$S = v_0 t - \frac{a_{ср} t^2}{2}$$

$$t = \frac{v_0 \pm \sqrt{v_0^2 + 2 a_{ср} S}}{a_{ср}} = \begin{cases} \frac{1 + \sqrt{1 + 2 \cdot 0{,}25 \cdot 0{,}5}}{0{,}25} = 8{,}47 \text{ физический корень} \\ \frac{1 - \sqrt{1{,}25}}{0{,}25} = -0{,}47 \text{ – неуд. смыслу} \end{cases}$$

Ответ: $t = \frac{\left(v_0 + \sqrt{v_0^2 + 2\frac{\mu}{L} g S^2}\right) L}{\mu S g} \approx 8{,}47$ с (–)