ГАЗПРОМ ОТРАСЛЕВАЯ ОЛИМПИАДА ШКОЛЬНИКОВ

$(ab)c=a(bc)$ $E=mc^2$

Использовать только эту сторону листа, обратная сторона не проверяется!

ШИФР 5977

Класс 11 **Вариант** 8 **Дата Олимпиады** 19.02.2017

Площадка написания СПбГЭТУ ЛЭТИ

Задача	1	2	3	4	5	Σ		Подпись
						Цифрой	Прописью	
Оценка	2	10	6	9	4	31	тридцать один	

Задача 2.

Дано

$V_л = \frac{1}{3} V$

$V_п = \frac{2}{3} V$

T

$T_2 - ?$

Решение

$V_л = \frac{V}{3}$	$V_п = \frac{2V}{3}$
T	V

$V_{л1} = \frac{2V}{3}$	$V_{п1} = \frac{V}{3}$
T_2	T

Введу обозначения:

$V_л$ - объем левой половины сосуда, $V_{л1}$ - объем левой половины сосуда после нагревания газа в ней.

$V_п$ - объем правой половины сосуда, $V_{п1}$ - объем правой части сосуда после смещения поршня.

1) В начальный момент времени система находится в равновесии, давление на поршень с двух сторон равное.

$F_{дл} = F_{дп}$, так как $F_д = p \cdot S$, то:

$p_л \cdot S = p_п \cdot S$

$p_л = p_п$.

2) Запишу уравнение Менделеева - Клапейрона для двух частей сосуда в начальный момент времени:

$$\begin{cases} p_1 V_1 = \frac{m_1}{\mu_1} \cdot R\vartheta \Rightarrow p_1 = \frac{m_1 R\vartheta}{V_1 \cdot \mu_1} \\ p_2 V_2 = \frac{m_2}{\mu_2} \cdot R\vartheta \Rightarrow p_2 = \frac{m_2 R\vartheta}{V_2 \cdot \mu_2} \end{cases}$$

3) Приравняем оба выражения:

$$\frac{2m_1 R\vartheta}{V \cdot \mu_1} = \frac{2m_2 R\vartheta}{2V \mu_2}$$

$m_1 = \frac{1}{2} m_2$, то есть масса газа в левой части равна половине газа в правой.

4) При нагревании газа в левой части сосуда, он будет расширяться до тех пор, пока не установится равновесие и давления на поршень не сравняются.

$$p_{1_1} = p_{1_2}.$$

$$\frac{m_1 R V_2}{V_{1_1} \cdot \mu_1} = \frac{m_2 \cdot R\vartheta}{V_{1_1} \cdot \mu_2}$$

$$\frac{2m_1 \vartheta_2}{2V} = \frac{2m_1 \vartheta}{V}$$

$$\vartheta_2 = \frac{2m_1 \vartheta}{m_1} = \frac{2 \cdot 2m_1 T}{m_1} = 4\vartheta.$$

Ответ: $\vartheta_2 = 4\vartheta$. +

Задача 4.

Дано

$OC = L$

S

$Q - ?$

Рисунок?

Решение.

1) В движущемся проводнике в магнитном поле возникает ЭДС индукции – $\mathcal{E}_i$, которая рассчитывается по формуле: $\mathcal{E}_i = B \cdot \vartheta \cdot \ell \cdot \sin\alpha$, где ℓ – длина активной части проводника.

Так как вектор магнитной индукции перпендикулярен плоскости, то $\sin\alpha = 1$.

2/ В проводнике возникает сила тока:

$$I = \frac{\mathcal{E}_i}{R} = \frac{\mathcal{E}_i}{\rho \cdot \ell}$$

3/ По закону Джоуля - Ленца: R - переменная величина!

$$Q = I^2 R t = \left(\frac{\mathcal{E}_i}{\rho \cdot \ell}\right)^2 \cdot \rho \cdot \ell \cdot t = \frac{\mathcal{E}_i^2 t}{2\rho \cdot \ell}$$, где

t - время движения проводника.

4/ $t = \frac{L}{v}$

5/ $Q = \frac{B^2 \cdot v^2 \cdot \ell^2}{\rho \cdot \ell \cdot v} \cdot L = \frac{B^2 \cdot v \cdot \ell \cdot L}{2\rho}$

6/ Так как Δ MOM прямоугольный, то условию $\angle MOM = 60° \Rightarrow$
$\Rightarrow \angle OMM = 30°$. По свойству угла в 30° $OM = 2L \Rightarrow$
$\Rightarrow MM = \sqrt{|2L|^2 - L^2} = \sqrt{3L^2} = L\sqrt{3}$

7/ $Q = \frac{B^2 \cdot v \cdot L\sqrt{3} \cdot L}{2\rho} = \frac{B^2 \cdot L^2 \cdot v\sqrt{3}}{2\rho}$

Ответ: $Q = \frac{B^2 L^2 v\sqrt{3}}{2\rho}$ +

Задача 5.

Дано	СИ	Решение
$m_1 = 6$ кг.	1798800 с.	Так как начальные условия в обоих случаях одинаковы, то скорость движения будет отличаться из-за массы животных и их размеров.
$t_1 = 48$ часов		
$m_2 = 6 \cdot 10^{-3}$ кг.		
$t_2 - ?$		

$Q = cm(T_2 - T_1)$

$\frac{P}{S} \sim S \sim T'(x)$

$\frac{m_1}{m_2} = \frac{\delta_1}{\delta_2}$

$t_2 = \frac{m_2 \cdot \delta_1}{m_1} = \frac{6 \cdot 10^{-3}\,кг \cdot 17\,300\,с}{6\,кг} = 172{,}8\,с\ (2{,}88\,мин)$

Ответ: $t_2 = 2{,}88$ мин.

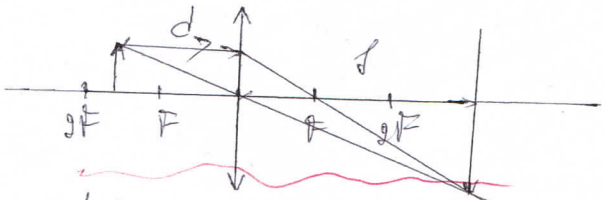
Задача 3.

Дано

$h' = h_1$

$h_2 - ?$

Решение



1) Когда предмет находится между фокусом линзы и ее двойным фокусом, изображение получается четким. +

2) Запишу формулу тонкой линзы:

$\frac{1}{f} + \frac{1}{d} = \frac{1}{F}$

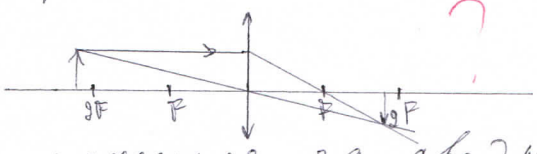
$\frac{1}{d} = \frac{f - F}{f \cdot F}$

$\frac{f}{d} = \frac{f}{F} - 1.$

3) $\Gamma = \frac{h_1}{h} = \frac{f}{d} \Rightarrow h = h_1 \cdot \left(\frac{f}{F} - 1\right).$

4) Во втором случае:

$\Gamma = \frac{h_2}{h} = \frac{f_2}{d_2}$



Предмет находится за двойным фокусом, а двойной фокус линзы.

$h_2 = \left(\frac{f_1}{F} - 1\right)\left(\frac{f}{F} - 1\right) \cdot h$

Ответ: $h_2 = h$

ГАЗПРОМ ОТРАСЛЕВАЯ ОЛИМПИАДА ШКОЛЬНИКОВ

$(ab)c = a(bc)$ $E = mc^2$

Использовать только эту сторону листа, обратная сторона не проверяется!

ШИФР 5977.

Класс _____ Вариант _____ Дата Олимпиады _____

Площадка написания _____

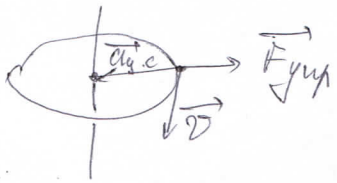
Задача	1	2	3	4	5	Σ		Подпись
						Цифрой	Прописью	
Оценка								

Задача 1.

Дано

l, m, k

Решение.



1) Кинетическая энергия движения кольца будет переходить в потенциальную упругости.

$$\frac{mv^2}{2} = \frac{k \cdot x^2}{2} = \frac{k \cdot l^2}{2}$$

$$mv^2 = k \cdot l^2$$

$$v = l \cdot \sqrt{\frac{k}{m}}$$

2) Для вращательного движения период вращения равен:

$$T = \frac{2\pi R}{v}$$

$$\omega = \frac{2\pi}{T} = \frac{2\pi v}{2\pi R} = \frac{v}{R} = \frac{l\sqrt{\frac{k}{m}}}{k} = \frac{2\pi k\sqrt{\frac{k}{m}}}{k} = 2\pi\sqrt{\frac{k}{m}}$$