ГАЗПРОМ ОТРАСЛЕВАЯ ОЛИМПИАДА ШКОЛЬНИКОВ

$(ab)c=a(bc)$ $E=mc^2$

Использовать только эту сторону листа, обратная сторона не проверяется!

ШИФР 4 6 3 1 4

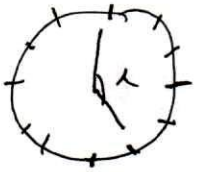
Класс 10 **Вариант** 11 **Дата Олимпиады** 09.02.19

Площадка написания МГТУ им Н.Э. Баумана

Задача	1	2	3	4	5	6	7	8	9	10	Σ		Подпись
											Цифрой	Прописью	
Оценка	5	10	10	10	20	10					65	шестьдесят пять	Ким

№1

В начальный момент угол между часовой и минутной:



$$\angle = 5 \cdot \frac{360^\circ}{12} = 150^\circ$$

За 1 час минутная стрелка угол в 360°, т.е. её скорость равна $\frac{360^\circ}{1}$; часовой – $\frac{30^\circ}{1}$;

Получаем: $150^\circ + \frac{30^\circ}{1} \cdot t = \frac{360^\circ}{1} \cdot t$, где $[t]$ = час;

$150^\circ = 330^\circ \cdot t \Rightarrow t = \frac{150^\circ}{330^\circ} = \frac{5}{11}$ часа

Ответ: $\frac{5}{11}$ часа

№2

$A \vee B$

$\sqrt{2018} + \sqrt{2020} \vee 2\sqrt{2019}$, т.к. обе части неотрицательны, то возведём их в квадрат:

$2018 + 2020 + 2 \cdot \sqrt{2018 \cdot 2020} \vee 2 \cdot 2019 + 2 \cdot 2019$

$\sqrt{2018 \cdot 2020} \vee 2019$, снова возведём в кв-т:

$2018 \cdot 2020 \vee 2019^2$

$(2019-1)(2019+1) \vee 2019^2$

$2019^2 - 1 \vee 2019^2$

$2019^2 - 1 < 2019^2 \Rightarrow A < B$

Ответ: $A < B$.

10

ОТРАСЛЕВАЯ ОЛИМПИАДА ШКОЛЬНИКОВ ГАЗПРОМ

Использовать только эту сторону листа, обратная сторона не проверяется!

ШИФР 4 6 3 1 4

№ 3

$x^2+y^2 = x^2+2xy+y^2-2xy = (x+y)^2-2xy = (a+1)^2-2(a^2-7a+6) =$

$= a^2+2a+1-2a^2+14a-32 = -a^2+16a-31$

10

Рассм. ф-ию: $f(a) = -a^2+16a-31$ – квадратичная, ветви вниз $\Rightarrow$ максимальное знач. достигается при $a_1 = \frac{-16}{(-1)\cdot 2} = 8$;

$f(a_1) = f(8) = -64+128-31 = 33$, т.е. $x^2+y^2 \le 33$.

Ответ: 8.

№ 4

Дано

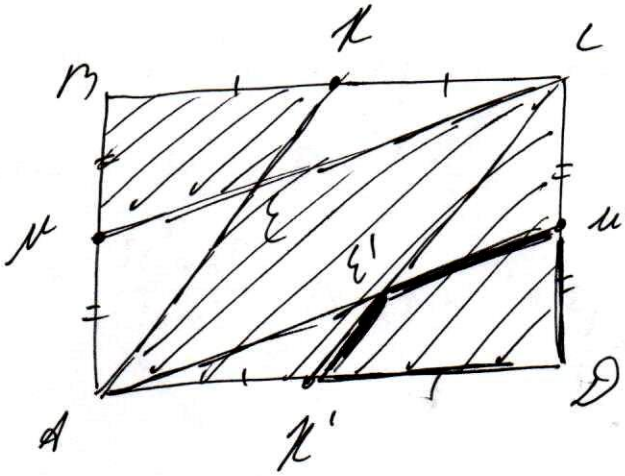
$ABCD$ – прямоуг.

M – сер. AB

K – сер. BC

$AK \cap CM \equiv E$

$S_{MBKE} \vee S_{AECD}$



1) D – т. K' – сер. DP

M' – сер. CD

$CK' \cap AM' \equiv E'$.

2) $\left.\begin{array}{l} CK = AK' \\ CK \parallel AK' \end{array}\right\}$ т. к. $AKCD$ – прямоуг. $\Rightarrow$

тогда: $AKCK'$ – паралл. по признаку.

$AK \parallel CK'$

10

3) аналогично $CM \parallel AM'$.

4) Из параллельности вышеописанных следует, что $K'E'M'D$ полностью лежит в $AECD \Rightarrow$

$S_{K'E'M'D} < S_{AECD}$, но в силу симметр. от AC

$MBKE = M'DK'E \Rightarrow S_{MBKE} = S_{M'DK'E}$, т.е. $S_{AECD} > S_{MBKE}$

Ответ: $S_{AECD} > S_{MBKE}$.

во сколько раз?

№ 5

$y = \sqrt{1-\sin^2 x} \cdot \sqrt{1+tg^2 x} \cdot \sqrt{x^2-4x+4}$;

$y_1 = \sqrt{1-\sin^2 x}$ $D_{y_1} = \mathbb{R}$

$y_1 = \sqrt{1-\sin^2 x} = \sqrt{\cos^2 x} = |\cos x|$

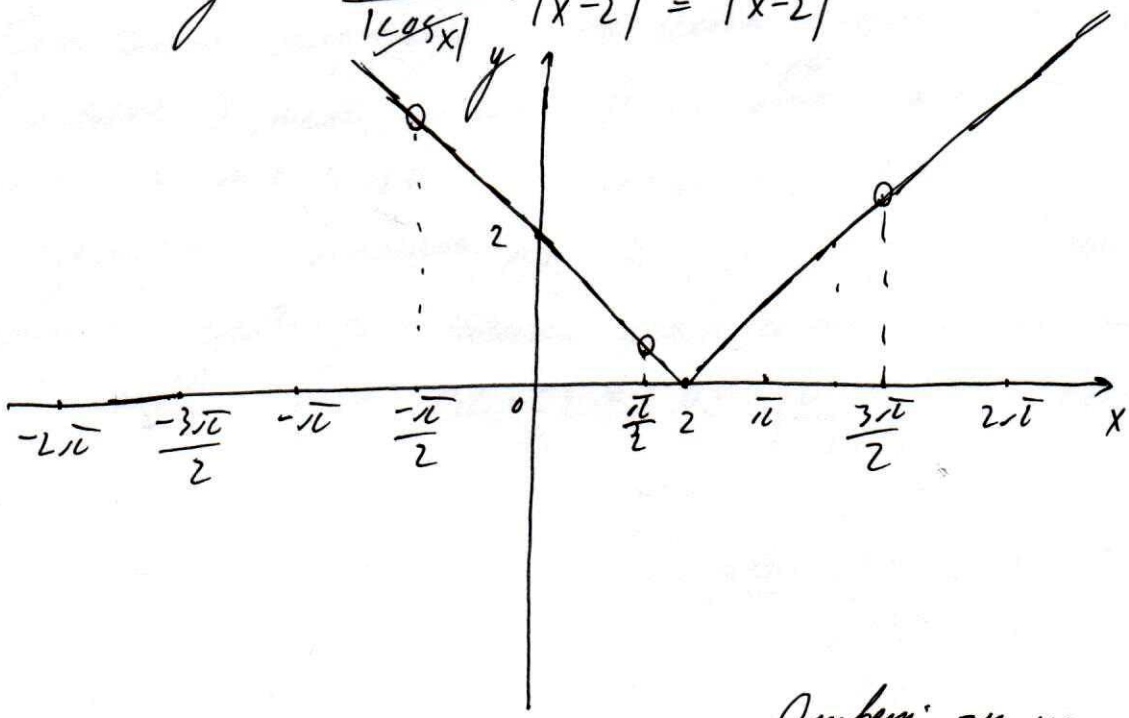
$y_2 = \sqrt{1+tg^2 x}$; $D_{y_2} = \mathbb{R} \setminus \{\frac{\pi}{2} + \pi k\}$, $k \in \mathbb{Z}$.

$y_2 = \sqrt{1+tg^2 x} = \sqrt{\frac{1}{\cos^2 x}} = \frac{1}{|\cos x|}$

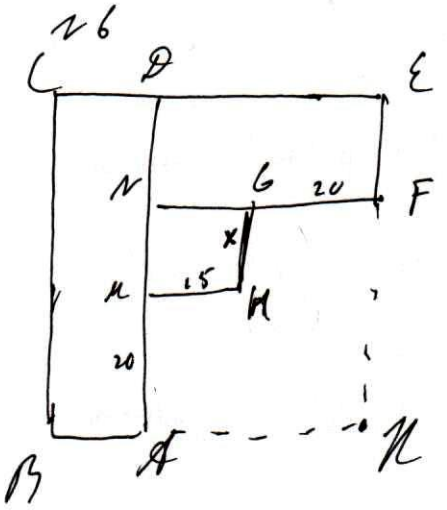
$y_3 = \sqrt{x^2-4x+4} = |x-2|$ $D_{y_3} = \mathbb{R}$.

Получим: $D_y = \mathbb{R} \setminus \{\frac{\pi}{2} + \pi k\}$, $k \in \mathbb{Z}$; 20

$y = \frac{|\cos x|}{|\cos x|} \cdot |x-2| = |x-2|$



Ответ: гр-ка построена.



Длина ограждения: $P = CD + DE + EF + F6 + 6H + HM + MA + AB + BC$;

периметр прямоугольника $BCEK$: $P = CD + DE + EF + FK + AK + AB + BC$

По $\begin{cases} AK = NF = 6F + N6 = 6F + MH \\ KF = AN = MN + AM = AM + H6 \end{cases}$ - в силу $\parallel$-м

т.е. $p = P$, т.е. найдём наименьший периметр прямоугольника $BCEK$.

Рассм. многоуг-к: $AMH6FK$.

$S = (20+15)\cdot 20 + 20\cdot x = 700 + 20\cdot x$, где $x \geq 10$

При этом площадь S не использующих участков $\Rightarrow$ чем меньше S, тем меньше P прямоуг. , а S тем меньше, чем меньше x, т.е. $x = 10 \Rightarrow S = 900$ кв. м

Суммарная площадь $BCEK$ $1600 + 900 = 2500$ кв.м., но периметр прямоугольника наименьший, когда эта квадрат. (при $S = const$). , т.е $BC = CE = 50$ м $\Rightarrow \begin{cases} EF = 20м \\ AB = 15м \end{cases}$ а $P = P = 50 \cdot 4 = 200$ м

10

Ответ: наим. длина 200м;
$BK = 50$ м;
$KE = 50$ м;
$6H = 10$ м.