ОТРАСЛЕВАЯ ОЛИМПИАДА ШКОЛЬНИКОВ ГАЗПРОМ

$(ab)c = a(bc)$ $E = mc^2$

Использовать только эту сторону листа, обратная сторона не проверяется!

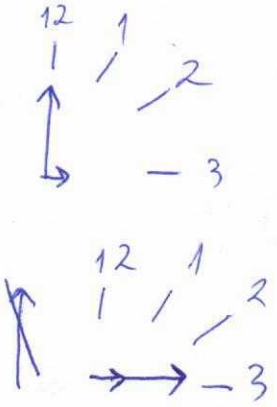
ШИФР 3 4 7 4 2

Класс 10 **Вариант** 12 **Дата Олимпиады** 09.02.2019

Площадка написания МГТУ им. Н.Э. Баумана

Задача	1	2	3	4	5	6	7	8	9	10	Σ Цифрой	Σ Прописью	Подпись
Оценка	5	10	10	20	20	5					70	семьдесят	

N1



Ответ: 15 минут

N2.

$A \vee B$

$\sqrt{2017} + \sqrt{2019} \vee 2\sqrt{2018}$

Возведём обе части нер-ва в квадрат, этих нер-ва не изменится т.к. в обеих частях уравнения положительные числа.

$\left(\sqrt{2017} + \sqrt{2019}\right)^2 \vee \left(2\sqrt{2018}\right)^2$

$2017 + 2019 + 2\sqrt{(2017)(2019)} \vee 4 \cdot 2018$

т.к. $2018 = \frac{2017+2019}{2}$, то:

$2017+2019+2\sqrt{2017\cdot 2019}$ $\vee$ $\frac{2\cdot(2019+2017)}{2}$

$2\sqrt{2017\cdot 2019}$ $\vee$ $2019+2017$.

$0 \vee 2017+2019-2\sqrt{2017\cdot 2019}$

$0 \vee \left(\sqrt{2019}-\sqrt{2017}\right)^2$

10

$\sqrt{2019}-\sqrt{2017}\neq 0 \Rightarrow \sqrt{2019}-\sqrt{2017}>0 \Rightarrow$

$\Rightarrow 0<\left(\sqrt{2019}-\sqrt{2017}\right)^2 \Rightarrow B>A$

Ответ: $A<B$

№3.

$\begin{cases} x+y=a-1 \\ xy=a^2-7a+14 \end{cases}$

Возведём 1 ур-е системы в квадрат.

$\begin{cases} x^2+y^2=(a-1)^2-2xy \quad (1) \\ xy=a^2-7a+14 \quad (2) \end{cases}$

10

Подставим xy из (2) в (1):

$x^2+y^2=(a-1)^2-2(a^2-7a+14)=a^2-2a+1-2a^2+14a-28=-a^2+12a-27=$

$=-(a^2-2\cdot a\cdot 6+36-9)=9-(a-6)^2 \Rightarrow x^2+y^2$ - наибольшее и равно 9 при $a=6$, т.к. $(a-6)^2\geq 0$ и $9-(a-6)^2\leq 9$

Ответ: 6

$\Delta\geq 0 \Rightarrow a=5$!

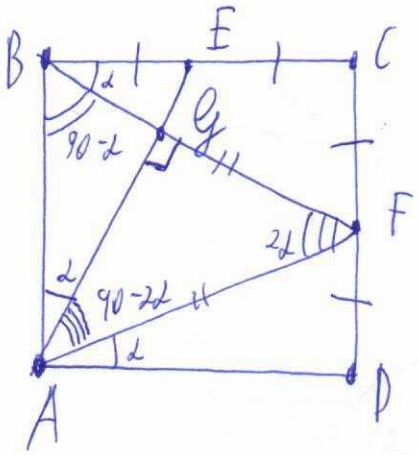
ГАЗПРОМ ОТРАСЛЕВАЯ ОЛИМПИАДА ШКОЛЬНИКОВ

$(a \cdot b)c = a(bc)$ $E = mc^2$

Использовать только эту сторону листа, обратная сторона не проверяется!

ШИФР 3 4 7 4 2

№4.



1. Рассм $\triangle BCF$ и $\triangle ABE$

В $\triangle BCF$ $S_{ECFQ} = S_{BCF} - S_{BEQ}$

В $\triangle ABE$ $S_{ABQ} = S_{ABE} - S_{BEQ}$, но

$S_{BCF} = S_{ABE} = \frac{1}{2} \cdot a \cdot \frac{a}{2}$, где a – сторона квадрата $ABCD$ $(a = AB) \vdash$

$\vdash S_{ECFQ} = S_{ABQ}$, как разности равных

2. Обозначим $\angle CBF$ как α. Тогда $\angle ABF = 90 - \alpha$, т.к. $\triangle AFD = \triangle BCF$ (по кат. и углу между ними), то $\angle FAD = \alpha$ и $FA = FB \vdash \triangle ABF$ – равнобедренный.

Т.к. $\triangle ABE = \triangle BCF$ (по 2 кат. и углу между ними), то $\angle BAE = \alpha$.

$\triangle ABF$ – равнобедренный $\vdash \angle BAF = 90 - \alpha \vdash \angle EAF = 90 - \alpha - \alpha = 90 - 2\alpha$.

Но $\angle BFA = 180^\circ - (90 - \alpha) - (90 - \alpha) = 2\alpha \vdash$ т.к. сумма углов в треуг. $= 180^\circ$, то $\angle AQF = 180^\circ - 2\alpha - (90 - 2\alpha) = 90^\circ$. $\vdash \angle BQA = 90$ как смежный с ним $\vdash$

$\vdash \triangle BQA \sim \triangle BEA$ ($\angle BQA = \angle ABE = 90^\circ$, $\angle BAE$) – общий.

3. Из $\triangle BEA$ найдем, что $AE^2 = a^2 + \left(\frac{a}{2}\right)^2 = \frac{5a^2}{4} \vdash AE = \frac{a\sqrt{5}}{2}$

Следовательно, $\frac{AB}{AE} = \frac{2a}{a\sqrt{5}} = \frac{2}{\sqrt{5}}$ и $BF = AE = AF = \frac{a\sqrt{5}}{2}$. $\vdash \frac{BF}{2} = \frac{a\sqrt{5}}{4}$.

Найдем BQ. $BQ = \frac{a}{2} \cdot \frac{2}{\sqrt{5}} = \frac{a}{\sqrt{5}}$.

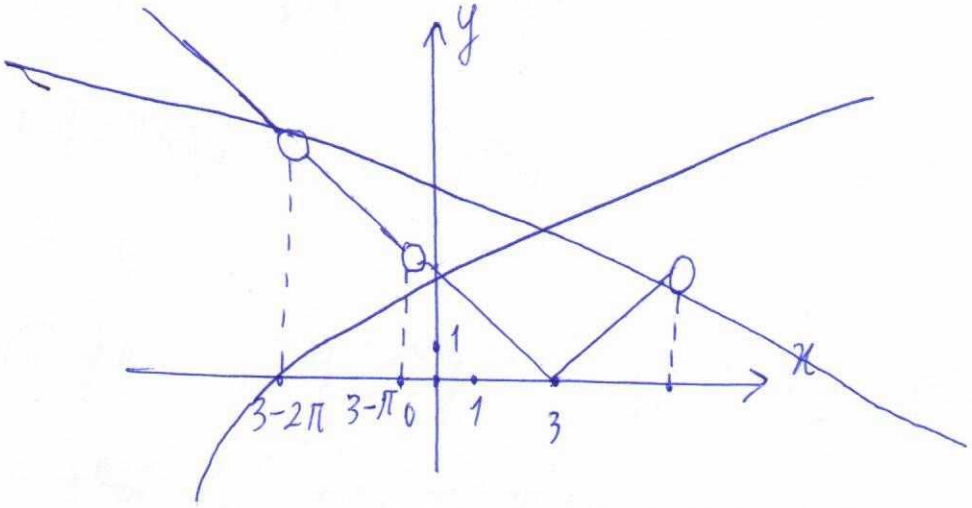
Рассмотрим разность $\frac{BF}{2}$ и BQ: $\frac{BF}{2} - BQ = \frac{a\sqrt{5}}{4} - \frac{a}{\sqrt{5}} = \frac{5a - 4a}{4\sqrt{5}} = \frac{a}{4\sqrt{5}} > 0 \vdash$

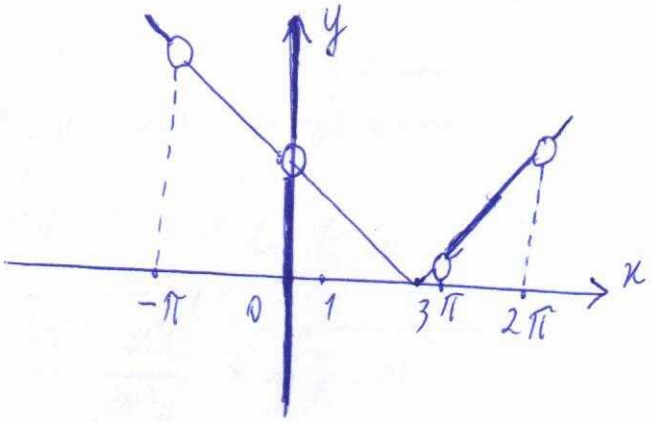
ГАЗПРОМ ОТРАСЛЕВАЯ ОЛИМПИАДА ШКОЛЬНИКОВ

$(a \cdot b)c = a(bc)$ $E = mc^2$ $\mu = \frac{\rho}{n}$

Использовать только эту сторону листа, обратная сторона не проверяется!

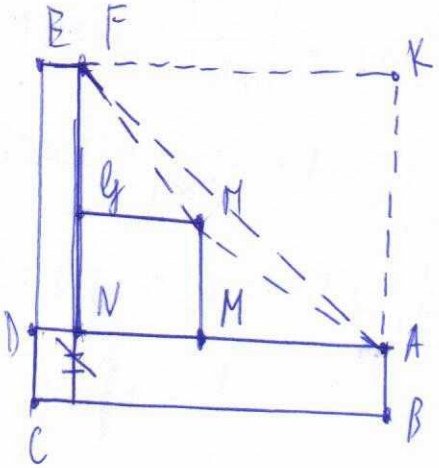
ШИФР 3 4 7 4 2





20

№6.



Т.к. $AF < FM + MA$ нов-вустороннее нер-во, то AF кратчайшее между этими отрезками.

Периметр S нашего кон $S = 2100 =$

$= x(15+B) + \left(\frac{1}{2}x+20\right)\cdot\beta + 45\alpha$, где

$\alpha = DN$, $B = AB$.

Длину l нашей кон $l = \sqrt{45^2+(x+20)^2} +$

$+ 2\alpha + 2B + x + 20$. Подставим B из ур-ния: ↓

$$l = \sqrt{45^2+(x+20)^2} + \frac{x^2+10x-3100-50\alpha+2x}{x+20}$$

5

$\vdash > \frac{BF}{2} > BQ$; но $BF = BQ + QF \vdash > QF > \frac{BF}{2} > BQ$.

т. к. $S_{ECFQ} = S_{ABQ}$ (см. выше), то расст. S_{ABQ} и S_{AFQ}.

$S_{ABQ} = \frac{1}{2} \cdot BQ \cdot QA$

$S_{AQF} = \frac{1}{2} \cdot FQ \cdot QA$, $FQ > BQ \vdash > S_{AQF} > S_{ABQ} \vdash > S_{AQF} > S_{EQFC}$

Ответ: площадь AQF больше, чем площадь QFCE.

№5.

$y = \sqrt{1-\cos^2 x} \cdot \sqrt{1+ctg^2 x} \cdot \sqrt{x^2-6x+9}$.

По осн. триг. тожд-ву $\sin^2 x = 1 - \cos^2 x$.

$y = \sqrt{\sin^2 x} \cdot \sqrt{\frac{\sin^2 x + \cos^2 x}{\sin^2 x}} \cdot \sqrt{(x-3)^2}$

$y = |\sin x| \cdot \left|\frac{1}{\sin x}\right| \cdot |x-3|$

$y = |\sin x| \cdot \frac{1}{|\sin x|} \cdot |x-3|$

$\sin x \neq 0 \vdash > x \neq \pi k, k \in Z$.

$y = 1 \cdot |x-3|$

$y = |x-3|$.

Построим график y и выколем точки, где $x = \pi k, k \in Z$.