ГАЗПРОМ ОТРАСЛЕВАЯ ОЛИМПИАДА ШКОЛЬНИКОВ

$(ab)c=a(bc)$ $E=mc^2$

Использовать только эту сторону листа, обратная сторона не проверяется!

ШИФР 3 5 9 5 7

Класс 11 **Вариант** 11 **Дата Олимпиады** 09.02.2019

Площадка написания МГТУ им. Баумана

Задача	1	2	3	4	5	6	7	8	9	10	Σ Цифрой	Σ Прописью	Подпись
Оценка	∅	10	15	~~10~~ 15	18	∅					58	пятьдесят восемь	

1. $x^4-4x^3+12x^2-24x+24=0$

$x^4+12x^2+24=4x(x^2+6)$

$x^4+12x^2+72-48-4x(x^2+6)=0$

$x^4+12(x^2+6)-48-4x(x^2+6)=0$

$x^4-48+(x^2+6)(12-4x)=0$

Чтобы данное ур-е имело решение нужно, чтобы

$\begin{cases} x^4-48=0 \\ (x^2+6)(12-4x)=0 \\ x^2+6>0 \end{cases} \overset{?}{\Rightarrow} \begin{cases} 12-4x=0 \\ x^4-48=0 \end{cases}$ ∅

$x=3 \Rightarrow 3^4-48=0$, но $81\neq 48$

$\Rightarrow$ данное ур-е не имеет решение, ч.т.д.

3. $y=\sin^2 x$ $y^{(2019)}-?$

$y^{(1)}=(\sin x\cdot\sin x)'=2\sin x\cos x=\sin 2x$

$y^{(2)}=2\cos 2x$

$y^{(3)}=-4\sin 2x$

$y^{(4)}=-8\cos 2x$

$y^{(5)}=16\sin 2x$

$y^{(6)}=32\cos 2x$

Далее по аналогии следует, что ($k\geq 2$)

Если ~~$n=2k$~~, то $n=2k+1$, где k-чёт, то $y^{(n)}=1\cdot 2^{2n-1}\sin 2x$

$n\neq 2k+1$, где k-нечёт (k

Продолжение №3:

Далее, по аналогии следует, что:

Если $n=2k+1$, где k - чётное $(k\geq 2)$, то $y^n = 1\cdot 2^{n-1}\cdot \sin 2x$

$n=2k+1$, где k - нечётное $(k\geq 1)$, то $y^n = -1\cdot 2^{n-1}\cdot \sin 2x$

$n=2k$, где k - чётное $(k\geq 2)$, то $y^n = -1\cdot 2^{n-1}\cdot \cos 2x$

$n=2k$, где k - ~~чётное~~ нечётное $(k\geq 1)$, то $y^n = 1\cdot 2^{n-1}\cdot \cos 2x$

$n=2019=2k+1$

$k=1009$ - нечётное $\Rightarrow y^{(2019)} = -1\cdot 2^{2018}\sin 2x = -2^{2018}\sin 2x$. (15) V

2. $(4-\sqrt{15})^x + (4+\sqrt{15})^x \leq 62$

Пусть $(4+\sqrt{15})^x = t$, $t>0$

Тогда $(4+\sqrt{15})^x = \left(\frac{(4+\sqrt{15})(4-\sqrt{15})}{(4-\sqrt{15})}\right)^x = \left(\frac{1}{4-\sqrt{15}}\right)^x = \frac{1}{t}$.

$\frac{1}{t} + t \leq 62$


$\frac{t^2-62t+1}{t} \leq 0$

$t^2 - 62t + 1 = 0$

$D = 3840$


$t_{1,2} = \frac{62 \pm 16\sqrt{15}}{2} = 31 \pm 8\sqrt{15}$

$\frac{(t-31-8\sqrt{15})(t-31+8\sqrt{15})}{t} \leq 0$



$31 \vee 8\sqrt{15}\ |\ ^2$

$961 > 960$ $\Rightarrow$



$\Rightarrow$ $31-8\sqrt{15} \leq t \leq 31+8\sqrt{15}$

~~$31-8\sqrt{15} \leq (4+\sqrt{15})^x$~~

~~$31-8\sqrt{15} \leq t \leq 31+8\sqrt{15}$~~

Т.к. за t я мог взять, как $(4+\sqrt{15})^x$, так и $(4-\sqrt{15})^x$, то найду объединение решений для двух t

$$\begin{cases} 31-8\sqrt{15} \leq (4+\sqrt{15})^x \leq 31+8\sqrt{15} \\ 31-8\sqrt{15} \leq (4-\sqrt{15})^x \leq 31+8\sqrt{15} \end{cases} \Rightarrow -2 \leq x \leq 2 \Rightarrow x \in [-2;2]$$

Ответ: $[-2;2]$ V (10)

4. Пусть x - число плотников, тогда $\frac{x}{2}$ - число бетонщиков и nx - число каменщиков ($3 \le n \le 20$), n - целое, $x+2$ - число ~~Состав~~ людей, владеющих двумя профессиями

Составим математическую модель:

$$\frac{x}{2} + x + nx - (x+2) = 32$$

$$1{,}5x - x - 2 + nx = 32$$

$$0{,}5x + nx = 34$$

$$x(n+0{,}5) = 34$$

$$n = \frac{34}{x} - 0{,}5$$

$$3 \le \frac{34}{x} - 0{,}5 \le 20$$

$$3{,}5 \le \frac{34}{x} \le 20{,}5 \Rightarrow \begin{cases} x \le \frac{34}{3{,}5} \\ x \ge \frac{34}{20{,}5} \end{cases}$$

Т.к. x - целое число, то $\Rightarrow x \in [2; 9]$

По Решу исходное ур-е методом подстановки x, где x - чётное т.к. $\frac{x}{2}$ - целое.

1) $x = 8 \Rightarrow \frac{8}{2} + 8 + 8n - 10 = 32$

$8n = 30 \Rightarrow n = \frac{30}{8}$ - не целое $\Rightarrow \varnothing$

2) $x = 6 \Rightarrow \frac{6}{2} + 6 + 6n - 8 = 32$

$6n = 31 \Rightarrow n = \frac{31}{6}$ - не целое $\Rightarrow \varnothing$

3) $x = 4 \Rightarrow \frac{4}{2} + 4 + 4n - 6 = 32$

$4n = 32 \Rightarrow n = \frac{32}{4} = 8$ - целое $\Rightarrow$ n - корень данного ур-я.

4) $x = 2 \Rightarrow \frac{2}{2} + 2 + 2n - 4 = 32$

$2n = 33 \Rightarrow n = \frac{33}{2}$ - не целое $\Rightarrow \varnothing$.

Число бойцов, владеющих одной профессией будет равно:

$\frac{x}{2} + x + nx = \frac{4}{2} + 4 + 8 \cdot 4 = 6 + 32 = 38 > 32$?

Ответ: ~~38~~ $32 - 6 = 26$.

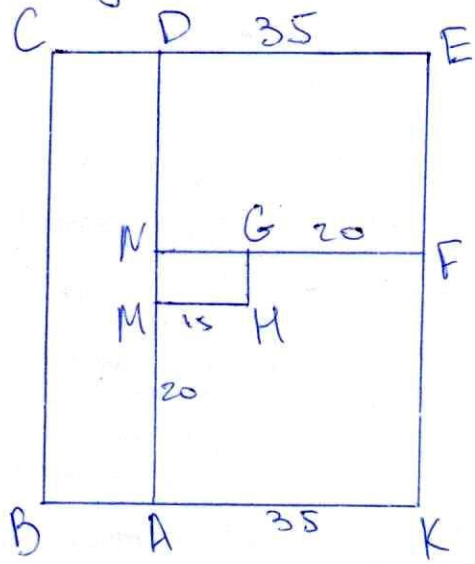
~~10~~ 15

ГАЗПРОМ ОТРАСЛЕВАЯ ОЛИМПИАДА ШКОЛЬНИКОВ

Использовать только эту сторону листа, обратная сторона не проверяется!

ШИФР 3 5 9 5 7

№ 5. Пусть BK - x, а BC - y, тогда xy - ~~площадь~~ 2(x+y) - длина ограды.



Площадь участка ABCEFGHM состав:

$(x-35)y + 35(y-20-GH) + GH \cdot 15 = 1600$

$xy - 35y + 35y - 700 - 35GH + 15GH = 1600$

$xy - 700 - 20GH = 1600$

$xy = 2300 + 20GH$ - площадь многогр. BCEK

Длина ограды: $2(x+y)$

$2(x+y) = 2\left(x + \frac{2300+20GH}{x}\right)$.

Минимальная длина ограды будет при наим. GH.

$GH \geq 10 \Rightarrow$ Мин. значение $GH = 10$.


$\Rightarrow 2(x+y) = 2\left(x + \frac{2500}{x}\right) = 2x + \frac{5000}{x}$.

$f(x) = 2x + \frac{5000}{x}$

~~$f'(x) = 2 + \frac{5000}{x^2} = \frac{2x^2+5000}{x} \neq 0$~~

~~5000~~ $f'(x) = 2 - \frac{5000}{x^2} = \frac{2x^2-5000}{x^2}$ ~~$\neq 0$~~ $\Leftrightarrow$

$\Leftrightarrow \frac{(x^2-2500)}{x^2} \neq 0 \Leftrightarrow \frac{(x-50)(x+50)}{x^2} \neq 0$



$x = 50$ - мин значение ф-ции $f(x)$

$\Rightarrow$ наим. длина ограды достигается при $x = 50$.

$= 2(x+y) = 2 \cdot 50 + \frac{5000}{50} = 100 + 100 = 200 \Rightarrow$

~~$\Rightarrow$ 200м - мин~~ $\Rightarrow$ 200м - наим. длина ограды.

Ответ: 200м. другие решения?

18