ОТРАСЛЕВАЯ ОЛИМПИАДА ШКОЛЬНИКОВ

Использовать только эту сторону листа, обратная сторона не проверяется!

ШИФР 5444

Класс 6 **Вариант** _____ **Дата Олимпиады** _____

Площадка написания _____

Задача	1	2	3	4	5	6	7	8	9	10	Σ		Подпись
											Цифрой	Прописью	
Оценка	5	5	1	5	10	10	15	0	15	15	81	восемьдесят один	Пашутин В.В.

8) $x^2 + \frac{16x^2}{(x+4)^2} = 33$

$\frac{x^2(x+4)^2 + 16x^2}{(x+4)^2} = 33$

$x^2(x+4)^2 + 16x^2 = 33x^2 + 8 \cdot 33 \cdot x + 16 \cdot 33$

$x^4 + 8x^3 - x^2 - 8 \cdot 33x - 16 \cdot 33 = 0$ Уравнение не решено.

Б/о Виета общая сумма всех корней будет $(-b/a) = -8$

Ответ: -8

ОТРАСЛЕВАЯ ОЛИМПИАДА ШКОЛЬНИКОВ ГАЗПРОМ

Использовать только эту сторону листа, обратная сторона не проверяется!

ШИФР 5444

1) Начнем ур-ие 2 физлиц, приняв начальную скорость за x км/ч ~~(x - скорость первого)~~:

~~$x \cdot 2 + (t-2)$~~

~~$t \cdot x = 2 \cdot x + (t - 2 - \frac{15}{60}) \cdot (x+5)$~~

~~$tx = 2x + (t - 2{,}25) \cdot (x+5)$~~

$5 \cdot x = 2 \cdot x + (5 - 2 - \frac{15}{60}) \cdot (x+5)$ (т.к. прошел на 15 мин раньше $= \frac{15}{60}$ ч)

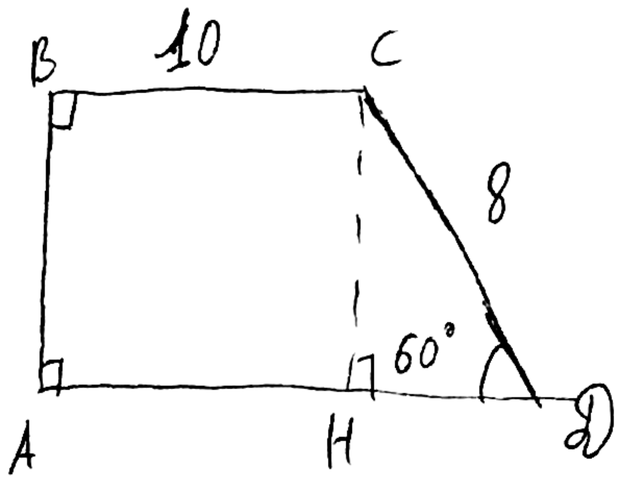
$5x = 2x + (x+5) \cdot 2{,}75$

$0{,}25x = 13{,}75$

$x = 55$

Ответ: 55 км/ч

2)



Опустим высоту CH из точки C. Т.к. $CD > AB$ т.к. CD - наклонная, а BA - перпендикуляр, то $CD = 8$. И т.к. $\triangle CHD$ - прямоугольный (CH - высота), то $HD = \frac{CD}{2}$ т.к. $\angle HCD = 180° - 90° - 60° = 30°$ и это прямоуг. $\triangle$, см. $HD = 4$. И т.к. HC - высота, то $ABCH$ - прямоуг. т.к. $AB \parallel CH$ (по построению т.к. оба $\perp AD$ и $BC \parallel AH$ т.к. изначально дана трапеция. Значит $AH = 10$. Тогда $AD = AH + HD = 10 + 4 = 14$. Тогда средняя линия равна $\frac{AD+BC}{2} = \frac{14+10}{2} = 12$

Ответ: 12

ОТРАСЛЕВАЯ ОЛИМПИАДА ШКОЛЬНИКОВ ГАЗПРОМ

Использовать только эту сторону листа, обратная сторона не проверяется!

ШИФР 5444

3) $\left(\sqrt{\frac{2}{3}}+\sqrt{\frac{1}{2}}\right)\cdot\sqrt{2-\sqrt{3}}+\left(\sqrt{\frac{2}{3}}-\sqrt{\frac{1}{2}}\right)\cdot\sqrt{2+\sqrt{3}}=\left(\frac{\sqrt{2}}{\sqrt{3}}+\frac{\sqrt{1}}{\sqrt{2}}\right)\cdot\sqrt{2-\sqrt{3}}+\left(\frac{\sqrt{2}}{\sqrt{3}}-\frac{\sqrt{1}}{\sqrt{2}}\right)\cdot\sqrt{2+\sqrt{3}}=$

$=\frac{2+\sqrt{3}}{\sqrt{6}}\cdot\sqrt{2-\sqrt{3}}+\frac{2-\sqrt{3}}{\sqrt{6}}\cdot\sqrt{2+\sqrt{3}}=\frac{(2+\sqrt{3})(2-\sqrt{3}}{\sqrt{6}\sqrt{2-\sqrt{3}}}+\frac{(2+\sqrt{3})(2-\sqrt{3}}{\sqrt{6}\sqrt{2+\sqrt{3}}}=$ V

$=\frac{1}{\sqrt{6}}\cdot\left(\frac{1}{\sqrt{2-\sqrt{3}}}+\frac{1}{\sqrt{2+\sqrt{3}}}\right)$ Выражение можно упростить тб до числа

4) Если есть всего одна точка пересечения то система $\begin{cases} y=2x+a \\ y=x^2+2x-1 \end{cases}$ имеет всего одно решение

$\begin{cases} y=2x+a \\ y=x^2+2x-1 \end{cases}$

$x^2+2x-1=2x+a$

$x^2-1-a=0$ т.к. 1 решение то $D=0$

$D=0^2+4(1+a)=4+4a=0$

$4a=-4$

$a=-1$

Ответ: при $a=-1$

5) Обозначим эти числа за 12a и 18b соответственно (можно так сделать т.к. a и $b\in N$) т.к. $НОД(12;18)=6$. Тогда:

НОД $a;b=1$ и. $18a\cdot b=630$ т.к. у a и b нет общих множителей

$ab=35$

Это может быть 2 варианта: либо $a=35;b=1$ либо $a=7;b=5$ (в других случаях числа

ОТРАСЛЕВАЯ ОЛИМПИАДА ШКОЛЬНИКОВ ГАЗПРОМ

Использовать только эту сторону листа, обратная сторона не проверяется!

ШИФР 5444

5*1

Рассмотрим для 2 вариантов: Если 1 и 35

1·18 и 35·18

18 и 630 - число т.к. 630 : 18 т.к. : 9 и : 2

Значит числа 7 и 5. Проверяем:

7·18 и 5·18

126 и 90 - не кратны друг другу и их НОК = 18.

Ответ: 126 и 90

6) Пусть общее кол-во школьников - х. Тогда:

$0,5x \in N$ $\quad 0,48(x-5) \in N$

~~$0,5x \in N$~~ $\quad 0,52(x-5) \in N$

т.к. кол-во девочек и мальчиков ~~целые~~ натуральные или нуль.

~~б~~

Т.к. ~~кол-во~~ процентное соотношение девочек уменьшилось, то девочек стало больше чем мальчиков. Значит

$$\begin{cases} (0,5x-3) = 0,48(x-5) \text{ - в случае ухода 3х девочек и 2х мальчиков} \\ (0,5x-4) = 0,48(x-5) \text{ - в случае ухода 4х девочек и 1го мальчика} \\ (0,5x-5) = 0,48(x-5) \text{ - ~~в~~ в случае если ушли 5 девочек} \end{cases}$$

① $0,5x-3 = 0,48(x-5)$

$0,02x = 0,6 \mid \cdot 50$

$x = 30$ - удв. условию $x \leq 70$

ОТРАСЛЕВАЯ ОЛИМПИАДА ШКОЛЬНИКОВ ГАЗПРОМ

Использовать только эту сторону листа, обратная сторона не проверяется!

ШИФР 5444

3) $0,5x-4=0,48(x-5)$

$0,02x=1,6\ |\cdot 50$

$x=80$ - неуд. условию $x\leq 70$

③ $0,5x-5=0,48(x-5)$

$0,02x=2,6\ |\cdot 50$

$x=130$ - неуд. условию $x\leq 70$

Условия 30:

$0,5\cdot 30=15 - \in \mathbb{N}$

$(30-5)\cdot 0,48=25\cdot 0,48=100\cdot 0,12=12 - \in \mathbb{N}$

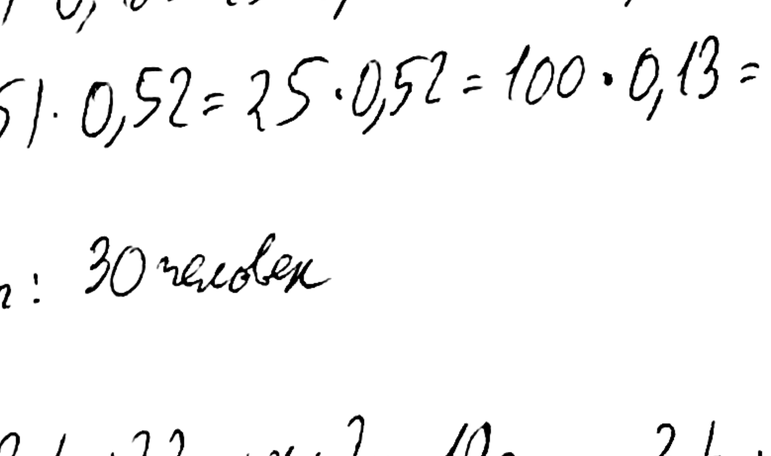
$(30-5)\cdot 0,52=25\cdot 0,52=100\cdot 0,13=13 - \in \mathbb{N}$

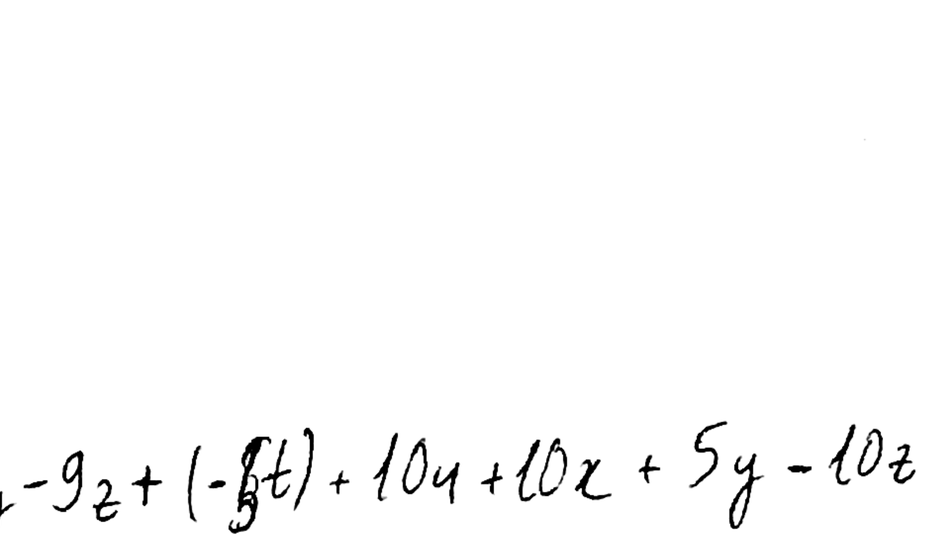
Ответ: 30 человек

7) $-8t+22u+x+2y-19z=-3t+12u-9x-3y-9z+(-5t)+10u+10x+5y-10z=$

$=-3(t-4u+3x+y+3z)+5(-t+2u+2x+y-2z)=(-3)\cdot(-2)+5\cdot 3=15+6=21$

9)

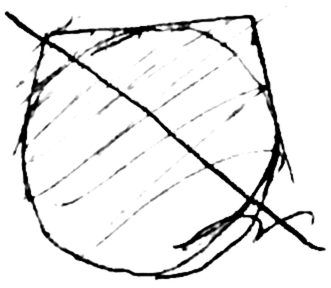




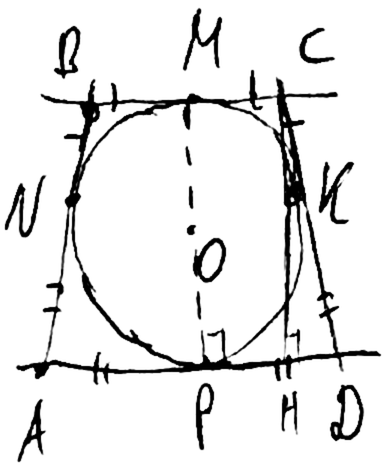
ОТРАСЛЕВАЯ ОЛИМПИАДА ШКОЛЬНИКОВ ГАЗПРОМ

Использовать только эту сторону листа, обратная сторона не проверяется!

ШИФР 5444



9)



Т.к. ABCD - описанная равнобедренная трапеция, то

$BN = BM = MC = CK$

$AP = AN = DP = DK$

~~Пусть~~ Пусть: $BC + AD = 17 + 17 = 34$ (см) - по св-ву описанного ч-ка трапеции

D_1P

D_1P - CH. $CH = 15$ см. т.к. высота прав. трап. через центр $= 15$ т.к. радиусы перпендикул. касательной и $BC \parallel AD$ см.

MP - проходит через центр O см. $MP = 15$ см

Тогда:

$CD^2 = CH^2 + HD^2$

$HD^2 = CD^2 - CH^2$

$HD^2 = 17^2 - 15^2$

$HD = \sqrt{64}$

$HD = 8$

И т.к. $AD = BC + 2HD$ (т.к. трапеция равнобедренная)

то

$34 = BC + BC + 2 \cdot 8$

$2BC = 34 - 16$

$2BC = 18$

$BC = 9$ $AD = 16 + 9 = 25$

Ответ: Основания 9см и 25см

ОТРАСЛЕВАЯ ОЛИМПИАДА ШКОЛЬНИКОВ ГАЗПРОМ

Использовать только эту сторону листа, обратная сторона не проверяется!

ШИФР 5444

10) Пусть изначальный объём бутыли – V. Вода:

Изначально соли: $0{,}12 \cdot V$

Соли в конце: $0{,}03 \cdot V$

Если изначально было 0,12V и отлили 1л р-ра то вылили 0,12л соли. Вода стало $0{,}12V - 0{,}12$л соли.

Если в конце было $0{,}03V$ соли и до этого отлили 1л раствора долили 1л воды, то до долива воды концентрация соли была как после того выливания и доливания и равна

10) Пусть изначальный объём бутыли – $V_л$. Вода,

Изначально соли: $0{,}12\,V_л$

Было того как вылили 1 раз стало $0{,}12V_л - 0{,}12 \cdot 1л$

Теперь концентрация будет: $\dfrac{0{,}12V_л - 0{,}12л}{V_л} = 0{,}12 - \dfrac{0{,}12л}{V_л}$

Вылили еще $\left(0{,}12 - \dfrac{0{,}12}{V_л}\right) \cdot 1л$ соли. Было есть осталось соли

$$0{,}12\,V_л - 0{,}12 - \left(0{,}12л - \frac{0{,}12л}{V_л}\right) = 0{,}3\,V_л$$

~~$0{,}09\,V_л^2 - 0{,}24л$~~

$$0{,}09\,V_л^2 - 0{,}24V_л + 0{,}12 = 0$$

$$9V^2 - 24V + 12 = 0 \qquad 3V^2 - 8V + 4 = 0$$

$$(3V - 2)(V - 2) = 0 \qquad V = 2л$$

$V = \frac{2}{3}$л – неверно т.к. вылили 1л