ГАЗПРОМ ОТРАСЛЕВАЯ ОЛИМПИАДА ШКОЛЬНИКОВ

ШИФР 8 5 9 0 8

0 1 2 3 4 5 6 7 8 9

Класс 11 Вариант 11 Дата Олимпиады 19.02.2022

Площадка написания Гимназия №8 г. Можга

Задача	1	2	3	4	5	6	7	8	9	10	Σ Цифрой	Σ Прописью	Подпись
Оценка	0	10	08	00	20	30						шестьдесят восемь	

Задание 2.

$$x_0 = \frac{1}{n}\ ; x_k = \frac{1}{n-k}\left(x_0 + x_1 + \dots + x_{k-1}\right);\quad k = 1, 2, \dots, n-1$$

Рассмотрим, чему равны члены этой последовательности:

$$x_1 = \frac{1}{n-1}\left(\frac{1}{n}\right) = \frac{1}{n(n-1)}$$

$$x_2 = \frac{1}{n-2}\left(\frac{1}{n} + \frac{1}{n(n-1)}\right) = \frac{1}{n-2}\left(\frac{1}{n}\left(1 + \frac{1}{n-1}\right)\right) = \frac{1}{n-2}\cdot\frac{1}{n}\cdot\frac{n-1+1}{n-1} = \frac{1}{n-2}\cdot\frac{1}{n}\cdot\frac{n}{n-1} = \frac{1}{(n-1)(n-2)}$$

$\Rightarrow$ если разделить x_2 на $\frac{1}{n-2}$, то мы получим сумму всех предыдущих, это работает для любого x_i, $i \in [1; n-1]$

$$x_3 = \frac{1}{n-3}\left(\frac{x_2(n-2)}{1} + x_2\right) = \frac{1}{n-3}\left(\frac{1}{n-1} + \frac{1}{(n-1)(n-2)}\right) = \frac{1}{n-3}\left(\frac{n-2+1}{(n-1)(n-2)}\right) = \frac{1}{n-3}\cdot\frac{1}{n-2}$$

По индукции допустим, что $x_m = \frac{1}{n-m}\cdot\frac{1}{n-m+1}$, $m \in [1; n-1]$,

тогда $x_{m+1} = \frac{1}{n-m-1}\left(x_m\cdot(n-m) + x_m\right) = \frac{1}{n-m-1}\cdot\left(\frac{1}{n-m+1} + \frac{1}{(n-m+1)(n-m)}\right) =$

$$= \frac{1}{n-m-1}\cdot\frac{n-m+1}{(n-m+1)(n-m)} = \frac{1}{n-m-1}\cdot\frac{1}{n-m}$$

$\Rightarrow$ мы доказали по индукции, что для любого $m \in [1; n-1]$ $x_m = \frac{1}{n-m}\cdot\frac{1}{n-m+1}$

Задание 2 (продолжение)

Тогда $S_n = \frac{1}{n} + \frac{1}{n(n-1)} + \frac{1}{(n-1)(n-2)} + \dots + \frac{1}{2 \cdot 1 \cdot (n-n+1)(n-n+2)}$

Заметим, что для $x \in \mathbb{Z}$, $x > 1$

$$\frac{1}{x} - \frac{1}{x-1} = \frac{x-1-x}{x(x-1)}$$

$$\frac{1}{x-1} - \frac{1}{x} = \frac{x-x+1}{x(x-1)} = \frac{1}{x(x-1)} \Rightarrow$$ (10)

$$\Rightarrow S_n = \frac{1}{n} + \left(\frac{1}{n-1} - \frac{1}{n}\right) + \left(\frac{1}{n-2} - \frac{1}{n-1}\right) + \dots + \left(1 - \frac{1}{2}\right) \Rightarrow$$

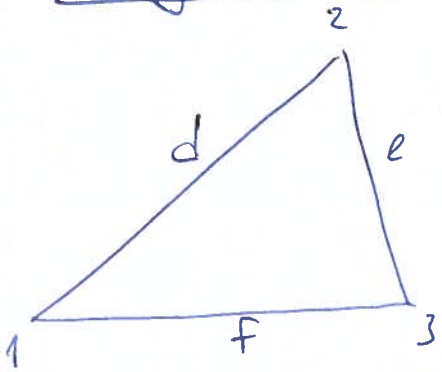
$\Rightarrow$ сокращаются почти все слагаемые, кроме

$$S_n = \frac{1}{n} + \left(\frac{1}{n-1} - \frac{1}{n}\right) + \left(\frac{1}{n-2} - \frac{1}{n-1}\right) + \dots + \left(\frac{1}{n-n+2} - \frac{1}{n-n+3}\right) + \left(\frac{1}{n-n+2} - \frac{1}{n-n+1}\right)$$

$\Rightarrow$ сокращается всё, кроме $\frac{1}{n-n+1} = 1$

Ответ: $S_{2021} = 1$.

Задание 5



Пусть у нас расстояние между станциями 1-2 = d; 2-3 = e; 1-3 = f (самая короткая дорога)

Тогда по условию:

$$\begin{cases} d+e = 3f \\ e+f = a+d \\ d+f = 60 \end{cases} \Rightarrow$$

Если $a = 30$, то

$$\begin{cases} d+e = 3f \\ e+f = d+30 \Rightarrow \\ d+f = 60 \end{cases} \quad d = 60-f \Rightarrow$$

Вычтем из первого второе

$$\Rightarrow \begin{cases} 60-f+e = 3f \\ e+f = 60-f+30 \end{cases} \Rightarrow \begin{cases} 60+e = 4f \\ e+2f = 90 \end{cases}$$

$\Rightarrow 60-2f = 4f-90 \Rightarrow 150 = 6f \Rightarrow f = 25 \Rightarrow d = 35 \Rightarrow$

$\Rightarrow e = 40$, все числа натуральные $\Rightarrow$

Задание 5 (продолж.)

=> они нам подходят.

Рассмотрим какие значения может принимать

a: $\begin{cases} d+e=3f \\ e+f=a+d \\ d+f=60 \end{cases}$ => $\begin{matrix} 3f=d+e \\ a=e+f-d \\ f=60-d \end{matrix}$ => $180-3d=d+e \Rightarrow 180=4d+e \Rightarrow$

$\Rightarrow e=180-4d \Rightarrow$

$\Rightarrow a=180-4d+60-d-d=240-6d \Rightarrow a=6(40-d)$

Заметим, что расстояния неотрицательны и станции не стоят в одной точке $\Rightarrow d,e,f>0 \Rightarrow$

$d+f>e$, $e+f>d$ (иначе точки d,e,f - стоят на одном пункте.), $d+e>f$

$\Rightarrow \begin{cases} d>0 \\ f=60-d\geq 0 \\ e=180-4d>0 \end{cases} \Rightarrow \begin{cases} 60>d \\ 45>d \end{cases} \Rightarrow 30<d<40 \Rightarrow$ (20)

$\Rightarrow a=6\cdot(40-d) \Rightarrow a\in(0;60)$ расст. 1-2, расст. 2-3, расст. 1-3

Ответ: $a\in(0;60)$; при $a=30$ $d=35$, $e=40$, $f=25$.

Задание 1

$x^9-2021x^3-\sqrt{2022}=0$ (0)

$t=x^3$

$t^2-2021t-\sqrt{2022}=0$

$D=2021^2+4\sqrt{2022}$ Заметим, что это больше 0 $\Rightarrow$ корни есть.

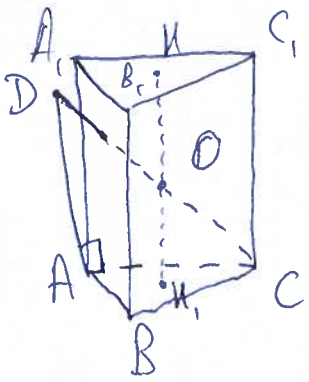
$t=\frac{2021\pm\sqrt{2021^2+4\sqrt{2022}}}{2} \Rightarrow \left[\begin{matrix} x^3=\frac{2021+\sqrt{2021^2+4\sqrt{2022}}}{2} \\ x^3=\frac{2021-\sqrt{2021^2+4\sqrt{2022}}}{2} \end{matrix}\right. \Rightarrow$

Ответ: $\Rightarrow x=\sqrt[3]{\frac{2021+\sqrt{2021^2+4\sqrt{2022}}}{2}}$ и $x=\sqrt[3]{\frac{2021-\sqrt{2021^2+4\sqrt{2022}}}{2}}$

ГАЗПРОМ ОТРАСЛЕВАЯ ОЛИМПИАДА ШКОЛЬНИКОВ

ШИФР 3 9 2 0 8

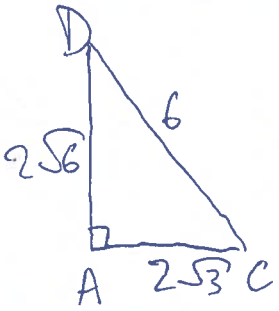
Задание 6.



Дано: $r = 3$; $ABCA_1B_1C_1$ – правильная треугольная призма; $AD = 2\sqrt{6}$; CD – диаметр.

Найти: $V_{ABCA_1B_1C_1}$.

Решение: 1) Рассмотрим $\triangle CAD$: $\angle A$ – вписанный, опирающийся на диаметр CD $\Rightarrow$ $\angle A = 90°$; $CD = 2r = 6$ (как диаметр) $\Rightarrow$ по теореме Пифагора $AC^2 = CD^2 - AD^2 \Rightarrow$



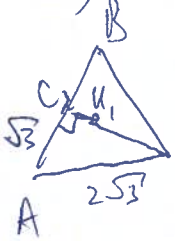
$\Rightarrow AC = \sqrt{36 - 24} = 2\sqrt{3}$

2) Заметим, что $ABCA_1B_1C_1$ – правильная треугольная призма $\Rightarrow$ O (центр сферы) находится в центре призмы $\Rightarrow$ построим перпендикуляр к ABC, проходящий через O: HH_1; $H \in A_1B_1C_1$; $H_1 \in ABC$ $\Rightarrow$

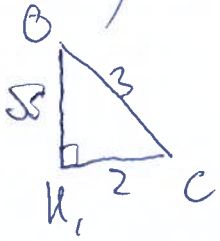
$\Rightarrow HH_1$ – высота призмы и $OH = H_1O$.

3) H_1 – центр $\triangle ABC$, а ABC – правильный $\Rightarrow$ $H_1 \in$ медиане CC_2 и H_1C: $H_1C_2 = 2$ (по св-ву пересечения медиан) $\Rightarrow$ CC_2 = медиане = высоте (т.к. треугольник правильный) $\Rightarrow CC_2 = \sqrt{AC^2 - AC_2^2} = \sqrt{12 - 3} = 3 \Rightarrow H_1C = \frac{2}{3}CC_2 = 2$

(C_2 – середина $AB \Rightarrow AC_2 = C_2B = \frac{1}{2}AC$)



4) Рассмотрим OH_1C: $OC = r = 3$; $H_1C = 2$; $OH_1 \perp H_1C \Rightarrow$



$\Rightarrow OH_1 = \sqrt{9 - 4} = \sqrt{5} \Rightarrow H_1H = 2 \cdot OH_1 = 2\sqrt{5} \Rightarrow$

$\Rightarrow V_{ABCA_1B_1C_1} = S_{ABC} \cdot H_1H = 2\sqrt{5} S_{ABC}$.

5) $S_{ABC} = CC_2 \cdot AB \cdot \frac{1}{2} = 3 \cdot 2\sqrt{3} \cdot \frac{1}{2} = 3\sqrt{3} \Rightarrow V = 2\sqrt{5} \cdot 3\sqrt{3} =$

$= 6\sqrt{15}$. Ответ: $6\sqrt{15}$.

30

Задание 3

$f(1)=5 \quad f(4)=2 \quad f\left(\frac{a+2b}{3}\right)=\frac{f(a)+2f(b)}{3}$

$f(2021)-?$

$f\left(\frac{1+2\cdot 4}{3}\right)=\frac{5+2\cdot 2}{3} \Rightarrow f(3)=3$

$f\left(\frac{4+2\cdot 1}{3}\right)=\frac{2+2\cdot 5}{3} \Rightarrow f(2)=4$

Т.е: $f(1)=5$, $f(2)=4$, $f(3)=3$, $f(4)=2$

По индукции докажем, что если $f(i)=6-i$ и $f(j)=6-j \Rightarrow$

$\Rightarrow f\left(\frac{i+2j}{3}\right)=\frac{6-i+12-2j}{3} \Rightarrow f\left(\frac{i+2j}{3}\right)=6-\frac{i+2j}{3} \Rightarrow$

$\Rightarrow$ для любого $m \in [1;+\infty)$: $f(m)=6-m \Rightarrow$?

$\Rightarrow f(2021)=6-2021=-2015.$

(8) нет строгого обоснования обычей формулы!

Ответ: -2015.

Задание 4

Всего 2 м = 200 см, будем считать кол-во вариантов в см, т.к. точность будет достаточно высока. $\Rightarrow$ Всего вариантов появления ржавчины $=$

$=\frac{199\cdot 198}{2}=19801$

Ответ: 0,125.

? (0)