ГАЗПРОМ ОТРАСЛЕВАЯ ОЛИМПИАДА ШКОЛЬНИКОВ

$(ab)c=a(bc)$ $E=mc^2$

1. Используйте только размеченные стороны листов.
2. Заполните номер варианта и номер страницы в поле внизу.

Математика

Площадка написания
Уфимский государственный нефтяной технический университет

Шифр 92108 Класс 10

Вариант 41 Дата 19.02.2022

Заполняется проверяющим строго по образцу

Образец заполнения: 1 2 3 4 5 6 7 8 9 0

1	2	3	4	5	6	7	8	9	10
5		8	20						

Оценка цифрами: 33 Оценка прописью: Тридцать три Подпись: Хайбуллин Р.Я.

№ 1

$x^6 - 2022x^2 + \sqrt{2021} = 0$

$x^2 \cdot x^4 - 2021x^2 - x^2 + \sqrt{2021} = 0$

$x^2(x^4 - 2021) - (x^2 - \sqrt{2021}) = 0$

$x^2(x^2 - \sqrt{2021})(x^2 + \sqrt{2021}) - (x^2 - \sqrt{2021}) = 0$

$(x^2 - \sqrt{2021})(x^2(x^2 + \sqrt{2021}) - 1) = 0$

$x^2 - \sqrt{2021} = 0$

$x^2 = \sqrt{2021}$

$x = \pm\sqrt[4]{2021}$

или

$x^4 + \sqrt{2021}x^2 - 1 = 0$

$D = 2021 + 4 = 2025 = 45^2$

$\begin{cases} x^2 = \dfrac{-\sqrt{2021} + 45}{2} \\ x^2 = \dfrac{-\sqrt{2021} - 45}{2} \end{cases}$ не подходит, т.к. квадрат не может быть отриц.

$x = \pm\dfrac{\sqrt{45 - \sqrt{2021}}}{\sqrt{2}}$

$x = \pm\dfrac{\sqrt{90 - 2\sqrt{2021}}}{2}$

Ответ: $x = \pm\sqrt[4]{2021}$; $x = \pm\dfrac{\sqrt{90 - 2\sqrt{2021}}}{2}$

+ 5д

$5\sqrt{3} > 8$

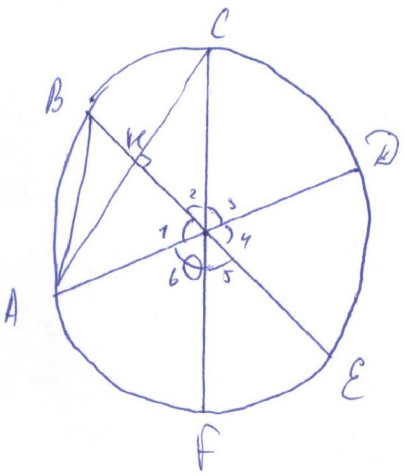
$\sqrt{75} > \sqrt{64}$

$5\sqrt{3}$ км больше 8 км, значит этот вариант подходит.
У каждого такого варианта есть противоположный (например: OA - OC и OA - OE)

Получается, что у первого геолога есть 6 вариантов выбрать дорогу, а у второго всего 3. Получается 18 вариантов. Всего у них 36 вариантов, как они могут пойти ($6 \cdot 6 = 36$)

$\frac{18}{36} = 0,5$

Ответ: 0,5 или 50% Д 20б



№ 4

$\angle 1 = \angle 2 = \angle 3 = \angle 4 = \angle 5 = \angle 6 = 360° : 6 = 60°$

Пусть $AO = OB = OC = OD = OE = OF = 5$ км

Значит за час каждый геолог дошли до конца поля.

Если оба геолога пошли по одной и той же дороге, то расстояние между ними будет 0 км.

Если они пошли по соседним дорогам (например OA и OB), то расстояние между ними будет AB. $\triangle OAB$ все стороны равны (~~т.к. $OA = OB$ и $\angle 1 = 60°$~~), ~~поэтому~~ так как он равносторонний (т.к. $OA = OB$ и $\angle 1 = 60°$), Значит $AB = 5$ км

Не подходит. Если они пошли по противоположным дорогам, то расстояние между ними будет $5 + 5 = 10$ км. Подходит.

Если они поедут по дорогам, которые находятся через одну от их дорог (например OA и OC), то расстояние между ними будет AC.

$OA = OC$, $\angle 1 = \angle 2$ $\Rightarrow$ OH - высота и медиана

$CH = OC \cdot \sin 60° = \frac{5\sqrt{3}}{2}$ км

$AC = 2OC = 5\sqrt{3}$ км

Сравним $5\sqrt{3}$ км и 8 км

ГАЗПРОМ ОТРАСЛЕВАЯ ОЛИМПИАДА ШКОЛЬНИКОВ

$(ab)c=a(bc)$ $E=mc^2$

1. **Используйте только** размеченные **стороны листов.**
2. **Заполните** номер варианта **и** номер страницы **в поле внизу.**

Математика

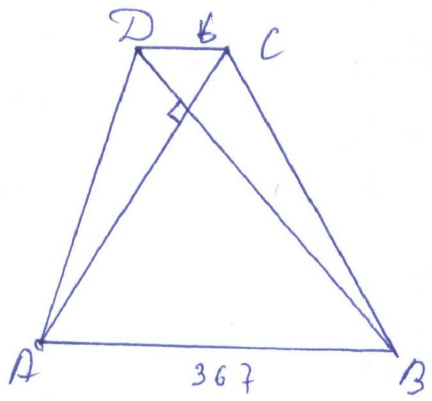
Площадка написания

Уфимский государственный нефтяной технический университет

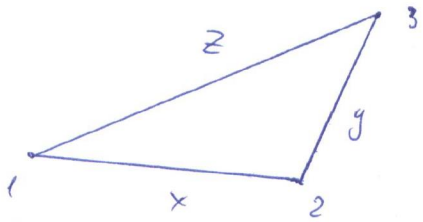
Шифр 92108 Класс 10

Вариант 41 Дата 19.02.2022

№ 3



№ 5



$\begin{cases} x+y=4z \\ x+a=z+y \\ x+z=85\ км \end{cases}$

при $a=5\ км$

$\begin{cases} x+y=4z & |+z \\ x+5=z+y & |+z \\ x+z=85\ км \end{cases}$

$\begin{cases} x+z=85 \\ x+z+y=5z \\ x+z+5=2z+y \end{cases}$

$\begin{cases} 85+y=5z \\ 85+5=2z+y \end{cases}$

$a \in (?)$

$\begin{cases} 85=5z-y \\ 90=2z+y \end{cases}$ + (не подходит) 85

$7z=175$

$z=25\ км$

$x=60\ км$

$y=40\ км$