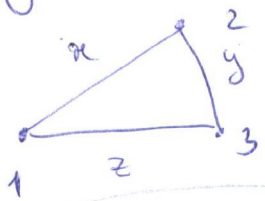
Задача 5. Дано:



$$\begin{cases} x+y=2z \\ z+y=x+a \\ x+z=75 \end{cases}$$

Решение:

1) т. к. станции не лежат на одной прямой

$$\begin{cases} x+y>z \\ y+z>x \\ x+z>y. \end{cases}$$

$$\Rightarrow \begin{cases} x=75-z \\ 75-z+y=2z \\ y+z=75-z+a \end{cases} \Rightarrow \begin{cases} 75+y=3z \ (1) \\ 2z+y=75+a \ (2) \\ x=75-z \ (3) \end{cases}$$

$$; \begin{cases} z=75-x \ (из (3)) \\ z=\frac{y+75}{3} \ (из (1)) \end{cases} \Rightarrow$$

т. к. $y=75+a-2z$

$$2z+3z-75=75+a$$

$$5z=150+a$$

$$a=5z-150 \ ; \ a=375-5x-150=$$
$$=225-5x;$$

$$a=\frac{5}{3}(y+75)-150;$$

$$a=\frac{5}{3}y-25 \Rightarrow$$

$a \in (?)$

$$\Rightarrow 2) \begin{cases} a=\frac{5}{3}y-25 \\ a=225-5x \\ a=5z-150. \end{cases} \Rightarrow$$

при $a=15$

$$\frac{5}{3}y-25=15$$
$$\frac{5}{3}y=40$$
$$y=24$$

$$15=225-5x; \quad 15=5z-150$$
$$5x=210 \quad 5z=165$$
$$x=42 \quad z=33$$

$\Rightarrow$ при $a=15$

$$\begin{cases} y=24 \\ x=42 \\ z=33. \end{cases}$$

+ 8б

ГАЗПРОМ ОТРАСЛЕВАЯ ОЛИМПИАДА ШКОЛЬНИКОВ

$(a \cdot b)c = a(bc)$ $E = mc^2$

1. Используйте только размеченные стороны листов.
2. Заполните номер варианта и номер страницы в поле внизу.

Математика

Площадка написания
Уфимский государственный нефтяной технический университет

Шифр 93660 Класс 10

Вариант 42 Дата 19.02.2022

Заполняется проверяющим строго по образцу

Образец заполнения: 1 2 3 4 5 6 7 8 9 0

1	2	3	4	5	6	7	8	9	10
5		9	16	8	3				

Оценка цифрами: 41 Оценка прописью: Сорок один Подпись: Хайбуллин Р.Я.

Задача 3. Дано:

$AB = 101$

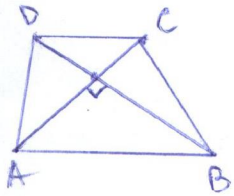
$CD = 20$

$ABCD$ - трапеция

Найти:

$\overrightarrow{AD} \cdot \overrightarrow{BC}$

Решение



1) $\overrightarrow{AD} = \overrightarrow{DB} + \overrightarrow{BA}$;

2) $\overrightarrow{BC} = \overrightarrow{BA} + \overrightarrow{AC}$;

3) $\overrightarrow{AD} \cdot \overrightarrow{BC} = (\overrightarrow{DB} + \overrightarrow{BA})(\overrightarrow{BA} + \overrightarrow{AC}) =$

$= \overrightarrow{BA} \cdot \overrightarrow{DB} + (\overrightarrow{BA})^2 + \overrightarrow{BA} \cdot \overrightarrow{AC} + \overrightarrow{DB} \cdot \overrightarrow{AC}$; $\overrightarrow{DB} \cdot \overrightarrow{AC} = 0$;

т.к. $AC \perp DB \Rightarrow$

$\overrightarrow{AD} \cdot \overrightarrow{BC} = \overrightarrow{BA}(\overrightarrow{DB} + \overrightarrow{BA} + \overrightarrow{AC})$; но $\overrightarrow{DB} + \overrightarrow{BA} + \overrightarrow{AC} = \overrightarrow{DC}$

$\Rightarrow \overrightarrow{AD} \cdot \overrightarrow{BC} = \overrightarrow{BA} \cdot \overrightarrow{DC}$; $\overrightarrow{BA} \uparrow\downarrow \overrightarrow{DC} \Rightarrow$

$\overrightarrow{BA} \uparrow\uparrow \overrightarrow{CD} \Rightarrow$ т.к $\overrightarrow{CD} = -\overrightarrow{DC}$

$\Rightarrow \overrightarrow{AD} \cdot \overrightarrow{BC} = \overrightarrow{BA} \cdot \overrightarrow{DC} = \overrightarrow{BA} \cdot (-\overrightarrow{CD})$;

т.к $BA = 101$

$BC = 20 \Rightarrow \overrightarrow{AD} \cdot \overrightarrow{BC} = \overrightarrow{BA} \cdot \overrightarrow{DC} = \overrightarrow{BA} \cdot (-\overrightarrow{CD}) = -2020$

Ответ: -2020.

Задача 4. Дано:

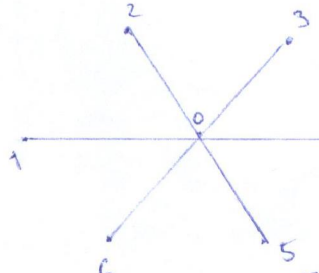
$v_1 = v_2 = 4 \frac{км}{ч}$

$R = 6$ км

Найти:

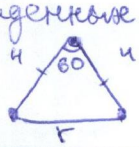
Вероятность $v > 2, R$

Решение:



1) Если человек пойдут по двум соседним тропам, то расстояние между ними через час будет равно 4 км. т.к. угол между двумя соседними тропами равен $\frac{360°}{6} = 60°$ (круг разделен на 6 равных частей) $\Rightarrow$

из пройденных человеком расстояний получается треугольник равнобедренный



$\Rightarrow$ т.к углы при

основании у треугольника равны $\frac{180^\circ - 60^\circ}{2} = 60^\circ$ ⇒ треугольник равносторонний ⇒ расстояние между геологами через час – 4 км ⇒

$r < R$

$4\text{ км} < 6\text{ км}$; таким образом (по соседним тропам) геологи

могут пойти 12 различными способами.

2) Если геологу пойдут двумя тропами, между которыми есть ещё одна тропа (например 1 и 3; 2 и 4 и т.д) так же построим треугольник, как в пункте 1:



углы по теореме косинусов

~~$r^2 = 4^2 + 4^2 - 2\cos \cdot 4^2$~~ ; с

$r^2 = 4^2 + 4^2 - 2\cos 120 \cdot 4^2$; $\cos 120 = -0{,}5$ ⇒

Таким образом геологи могут пойти так же 12 способами.

$r^2 = 32 + 16 = 48$

$r = \sqrt{48}$ ⇒ $r > R$

$\sqrt{48} > 6$ т.к $\sqrt{48} > \sqrt{36}$.

3) Если геологи пойдут по противоположным тропам (пример 1 и 4; 2 и 5 и т.д) ⇒ расстояние м/у ними через час = 8

т.к. $S = (V_1 + V_2)t = (4+4)1 = 8$ км ⇒ $r > R$; $8 > 6$ ⇒ всего таким способов идти у геологов 6 ⇒

4) общее кол-во способов идти:

$6 + 12 + 12 = 30$

(проверим по формуле: $\frac{n!}{(n-m)!} = \frac{6!}{(6-2)!} = \frac{6!}{4!} = 5 \cdot 6 = 30$)

⇒ верно.

чтобы $r \geq R$ у геологов $6 + 12 = 18$ способов идти ⇒

вероятность $r \geq R = \frac{18}{30} = 0{,}6$ Ответ: 0,6.

165

ГАЗПРОМ ОТРАСЛЕВАЯ ОЛИМПИАДА ШКОЛЬНИКОВ

$(ab)c=a(bc)$ $E=mc^2$

1. Используйте только размеченные стороны листов.
2. Заполните номер варианта и номер страницы в поле внизу.

Математика

Площадка написания

Уфимский государственный нефтяной технический университет

Шифр 93660 Класс 10

Вариант 42. Дата 19.02.2022

5) $x_1 = \sqrt{t_1} = \sqrt{\frac{\sqrt{2021}+\sqrt{2025}}{2}}$

$x_2 = -\sqrt{t_1} = -\sqrt{\frac{\sqrt{2021}+\sqrt{2025}}{2}}$

Ответ: $\sqrt{\frac{\sqrt{2021}+\sqrt{2025}}{2}}$; $-\sqrt{\frac{\sqrt{2021}+\sqrt{2025}}{2}}$.

ОТРАСЛЕВАЯ ОЛИМПИАДА ШКОЛЬНИКОВ ГАЗПРОМ

1. Используйте только размеченные стороны листов.
2. Заполните номер варианта и номер страницы в поле внизу.

Математика

Площадка написания: Уфимский государственный нефтяной технический университет

Шифр 93660 Класс 10

Вариант 42 Дата 19.02.2022

Задача 1

$x^6 - 2022x^2 - \sqrt{2021} = 0.$

$x^6 - 2021x^2 - x^2 - \sqrt{2021} = 0$

$x^2(x^4 - 2021) - (x^2 + \sqrt{2021}) = 0$

$x^2(x^2 - \sqrt{2021})(x^2 + \sqrt{2021}) - (x^2 + \sqrt{2021}) = 0 \Rightarrow$

$(x^2 + \sqrt{2021})(x^2(x^2 - \sqrt{2021}) - 1) = 0 \Rightarrow$

или $x^2(x^2 - \sqrt{2021}) - 1 = 0$

$x^4 - \sqrt{2021}x^2 - 1 = 0$

Замена: $t = x^2$; $t \geq 0 \Rightarrow$

$t^2 - \sqrt{2021}t - 1 = 0$

$D = 2021 + 4 = 2025 \Rightarrow$

$t_1 = \frac{\sqrt{2021} + \sqrt{2025}}{2}$; $t_2 = \frac{\sqrt{2021} - \sqrt{2025}}{2}$

$x^2 + \sqrt{2021} \neq 0$

$x^2 = -\sqrt{2021}$;

но $x^2 \geq 0 \Rightarrow$

неверно

Задание 2.

$m\sqrt{m}(x^2 - 6x + 9) + \frac{\sqrt{m}}{(x^2 - 6x + 9)} \leq \sqrt[4]{m^3} \cdot \left|\cos\frac{\pi x}{5}\right|$

$(x-3)^2$ $(x-3)^2$

Замена $(x-3)^2 = t \Rightarrow$

$\sqrt{m^3}\,t + \frac{\sqrt{m}}{t} \leq \sqrt[4]{m^3}\left|\cos\frac{\pi x}{5}\right|$

$\sqrt{m}\left(mt + \frac{1}{t}\right) \leq \sqrt[4]{m}\sqrt{m}\left|\cos\frac{\pi x}{5}\right|$

$mt - \sqrt[4]{m}\left|\cos\frac{\pi x}{5}\right| + \frac{1}{t} \leq 0$

$mt - \sqrt[4]{m}\left|\cos\frac{\pi x}{5}\right| + 1 \leq 0.$

Задача 1. продолжение

$t_1 = \frac{\sqrt{2021} + \sqrt{2025}}{2}$; $t_2 = \frac{\sqrt{2021} - \sqrt{2025}}{2}$

Но $t_2 \geq 0$; $\sqrt{2021} < \sqrt{2025} \Rightarrow$

t_2 – посторонний корень $\Rightarrow$

исходя из новой системы уравнений через "a"

$\Rightarrow \begin{cases} 3x+y=15 \\ x+z=a \\ 3z-y=45 \end{cases}$ (I) $\frac{5}{3}y - 25 = 225 - 5x = 5z - 150 \Rightarrow$

очевидно, что "a" выражается через x, y, z как. В уравнения прямые $\Rightarrow$ чтобы выполнялось

(I) все они при прямых должны пересекаться в одной точке; $\Rightarrow$

a может быть равно только 15

Ответ: $a = 15$

при $a = 15$

$\begin{cases} x = 42 \\ y = 24 \\ z = 33. \end{cases}$

Задача 6 Дано

$ABC A_1B_1C_1$ - правильная призма $\Rightarrow$

$AA_1 = CC_1 = BB_1 = A_1C_1 = C_1B_1 = A_1B_1 = AC = CB = AB$;

AA_1; CC_1; BB_1 - ребра призмы.

C_1D - диаметр сферы.

K - середина CC_1

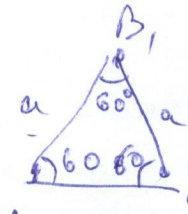
Найти:

объём призмы, если

$DK = 2\sqrt{6}$; $DA = 6$; K - середина CC_1

Решение:

V - объем призмы = $S \cdot h = S \cdot a$ (a - сторона призмы)



$S = \frac{a \cdot a \cdot \sin 60}{2} = C_1 = \frac{a^2\sqrt{3}}{4} \Rightarrow$

$V = \frac{a^3\sqrt{3}}{4}$

ГАЗПРОМ ОТРАСЛЕВАЯ ОЛИМПИАДА ШКОЛЬНИКОВ

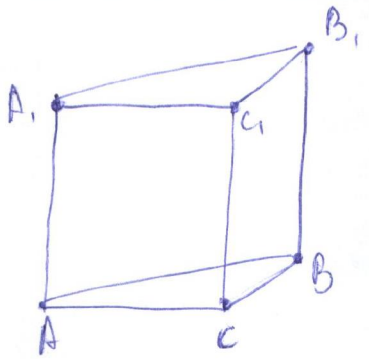
1. Используйте только размеченные стороны листов.
2. Заполните номер варианта и номер страницы в поле внизу.

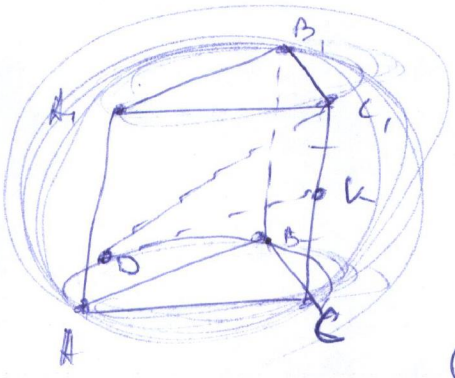
Математика

Площадка написания
Уфимский государственный нефтяной технический университет

Шифр 93660 Класс 10

Вариант 42 Дата 19.02.2022





точка D лежит на м-пи ABC.

$C_1A = a\sqrt{2}$

(C_1A - диагональ квадрата AA_1C_1C)

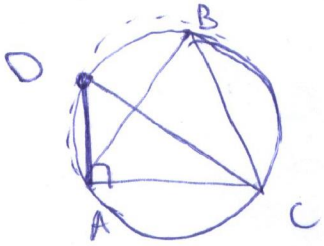
$\triangle DAC$ - прямоугольный.

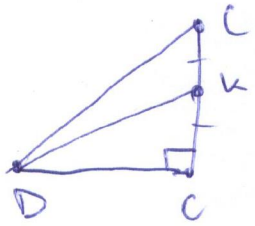
по теореме Пифагора

$DC_1^2 = DA^2 + AC_1^2$

$DC_1^2 = 36 + 2a^2$

$DC_1 = \sqrt{36 + 2a^2}$





$\triangle DAC$ - прямоугольный по т. Пифагора

$DC^2 = DA^2 + AC^2$

$DC^2 = 36 + a^2$; $\triangle DCC_1$ - прямоугольный.

$\triangle DKC$ - прямоугольный по т. Пифагора.

$DK^2 = DC^2 + CK^2$; $CK = \frac{a}{2}$.

$DK^2 = 36 + a^2 + 0{,}25a^2$

$DK^2 = 36 + 1{,}25a^2$; $DK = 2\sqrt{6}$ ⇒

$2\sqrt{6} =$

+ 36