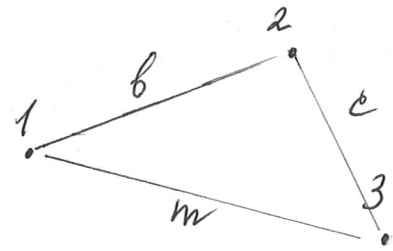
Задание 5.

По условию:



1) $\begin{cases} \frac{в+с}{3} = m \\ m+c-a=в \\ в+m=60 \end{cases} \Rightarrow в = 60-m \Rightarrow$

$в+с=3m$, подст. в $\Rightarrow 60-m+c=3m \Rightarrow 60+c=4m \Rightarrow$

$\underline{c=4m-60}$; $\underline{в=60-m}$;

2) $a = m+c-в = m+4m-60-60+m = 6m-120$

3) Мы понимаем, что $в>0, c>0, m>0$; $в+c \overset{(1)}{>} m$; $m+c \overset{(2)}{>} в$;
$в+m \overset{(3)}{>} c \Rightarrow$

(1) $60-m+4m-60>m \Leftrightarrow 3m>m$

(2) $4m-60+m>60-m \Leftrightarrow 5m-60>60-m \Leftrightarrow 6m-60>60$
$\Leftrightarrow 6m>120 \Leftrightarrow \boxed{m>20}$

(3) $60-m+m>4m-60 \Leftrightarrow 60>4m-60 \Leftrightarrow 120>4m \Leftrightarrow \boxed{m<30}$

4) $c>0 \Rightarrow 4m-60>0 \Leftrightarrow 4m>60 \Leftrightarrow m>15$ (уже устроило)
$в>0 \Rightarrow 60-m>0 \Leftrightarrow 60>m \Leftrightarrow m<60$ (уже устроило) $\Rightarrow$

5) $a = 6m-120$

$20<m<30 \quad | \cdot 6$
$120<6m<180 \quad | -120$
$0<6m-120<60$
$\boxed{0<a<60}$

20

$$\Rightarrow \frac{1}{2022} + (-1)\left(\frac{1}{2022} - \frac{1}{2021} + \frac{1}{2021} - \frac{1}{2020} + \frac{1}{2020} - \frac{1}{2019} + \ldots + \frac{1}{3} - \frac{1}{2}\right) =$$

$$= \frac{1}{2022} + (-1)\left(\frac{1}{2022} - \frac{1}{2}\right) = \frac{1}{2022} - \frac{1}{2022} + \frac{1}{2} = \frac{1}{2}$$

Ответ: $S_n = \frac{1}{2}$ – неверно

Если $a=42 \Rightarrow 6m-120=42 \Rightarrow 6m=162$; $m=27$;

$\Rightarrow c=4m-60=4 \cdot 27-60=48$

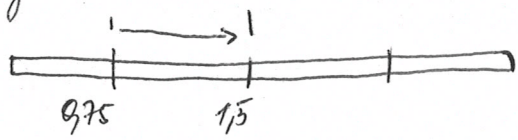
$b=60-m=60-27=33$

Ответ: $b=33$ (от 1 станции до 2)

$c=48$ (от 2 станции до 3)

$m=27$ (от 1 станции до 3)

Задание 4.



Разделим визуально 3-метр. газовую трубу на 4 части по 0,75 м.

1) Т.к. мы ищем вероятность того, что все 3 части трубы окажутся $\geq 0{,}75$ $\Rightarrow$ но так же искомая часть не должна быть $> 1{,}5$ м $\Rightarrow$ l - длина 1 какой-то части $\Rightarrow$ $0{,}75 \leq l \leq 1{,}5$, т.к в случае $l \geq 1{,}5$ м, оставшиеся 2 части в сумме дают $< 1{,}5$ м $\Rightarrow$ одна точно $< 0{,}75$ $\Rightarrow$

$0{,}75 \leq l \leq 1{,}5$ $\Rightarrow$ вероятность этого $\frac{1}{4}$

2) но так как мы делим на 3 части $\Rightarrow$ 2 „разреза" $\Rightarrow$ вероятность того что их можно будет использовать в кач-ве отводов

$\frac{1}{4} \cdot \frac{1}{4} = \frac{1}{16}$

Решение неверно ⓪

Ответ: $\frac{1}{16}$.

ГАЗПРОМ ОТРАСЛЕВАЯ ОЛИМПИАДА ШКОЛЬНИКОВ

$(a\,b)c=a(b\,c)$ $E=mc^2$

Площадка написания
г. Екатеринбург, МАОУ СОШ с углубленным изучением отдельных предметов № 53

1. Используйте только размеченные стороны листов.
2. Заполните номер варианта и номер страницы в поле внизу.

Математика

Шифр 94749 Класс 10

Вариант 12 Дата 19.02.2022

Заполняется проверяющим строго по образцу. Образец заполнения: 1 2 3 4 5 6 7 8 9 0

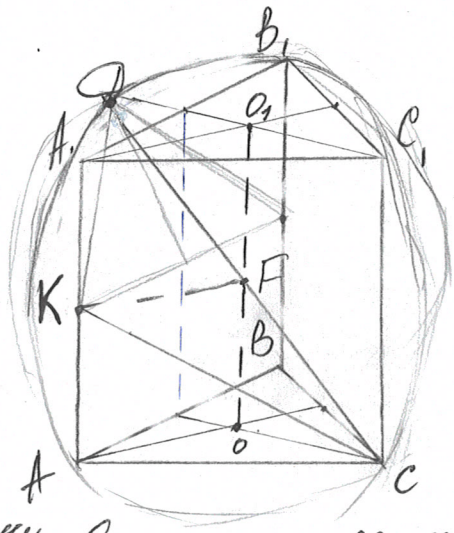
1	2	3	4	5	6	7	8	9	10
			0	2	0	0	7		

Оценка цифрами: 27 Оценка прописью: ДВАДЦАТЬ СЕМЬ Подпись:

Задание 6.

Дано: $ABCA_1B_1C_1$ - прав. 3-угольная призма; CD - диам. сферы, в которую она вписана; K - сер. AA_1; $CK=2\sqrt{6}$; $DK=4$

Найти: $V_{ABCA_1B_1C_1}$?



Решение:

1) в $\triangle ABC$ и $A_1B_1C_1$ проведём медианы и найдем точку O_1, пересеч. медиан в $\triangle A_1B_1C_1$ и точку O пересечения медиан в $\triangle ABC$. $\Rightarrow$ Т.к. призма правильная, то центр сферы (описанной около призмы) лежит на середине OO_1 (т.е. совпадает с центром призмы). $\Rightarrow$ F - сер. OO_1

2) Т.к. CD - диаметр этой сферы $\Rightarrow F \in CD \Rightarrow$ проведём CF до "пересечения" со сферой и обозначим точку пересечения "за" D.

3) $CF \subset (COO_1C_1) \Rightarrow CD \subset (OO_1C_1)$ 4) Соединим KF, т.к. K - сер. AA_1 и F - сер. $OO_1 \Rightarrow KF \parallel AO$

5) Найдем FC:

Решения нет ☹

ГАЗПРОМ ОТРАСЛЕВАЯ ОЛИМПИАДА ШКОЛЬНИКОВ

1. Используйте только размеченные стороны листов.
2. Заполните номер варианта и номер страницы в поле внизу.

Математика

Площадка написания
г. Екатеринбург, МАОУ СОШ с углубленным изучением отдельных предметов № 53

Шифр 94749 Класс 10

Вариант Дата 19.02.2022

Задание 2.

$x_0 = \frac{1}{n}$; $x_k = \frac{1}{n-k}(x_0 + x_1 + \ldots + x_{k-1})$; $k = 1, 2, \ldots, n-1$

Найти: $S_n = x_0 + x_1 + \ldots + x_{n-1}$, $n = 2022$

Решение:

$x_0 = \frac{1}{2022}$; $x_1 = \underbrace{\frac{1}{2021}}_{\frac{1}{n-k}} \cdot \underbrace{\frac{1}{2022}}_{x_0}$; $x_2 = \underbrace{\frac{1}{2020}}_{\frac{1}{n-k}} \cdot \underbrace{\left(\frac{1}{2022} + \frac{1}{2021}\cdot\frac{1}{2022}\right)}_{x_0 + x_1} \Rightarrow$

$x_2 = \frac{1}{2020} \cdot \left(\frac{2021+1}{2021 \cdot 2022}\right)^{\frac{1}{n-k}} = \frac{1}{2020} \cdot \frac{1}{2021}$

7

$x_3 = \frac{1}{2019} \cdot \underbrace{\left(\frac{1}{2022} + \frac{1}{2021}\cdot\frac{1}{2022} + \frac{1}{2020\cdot 2021}\right)}_{x_0 + x_1} = \frac{1}{2019} \cdot \left(\frac{1}{2021} + \frac{1}{2020\cdot 2021}\right) = \frac{1}{2019}\cdot\frac{1}{2020}$

$\Rightarrow$ можно заметить закономерность, выполняется по полетным причинам:

$\frac{1}{2022}$; $\frac{1}{2022\cdot 2021}$; $\frac{1}{2021\cdot 2020}$; $\frac{1}{2020\cdot 2019}$ $\Rightarrow$ $x_{n-1} = x_{2021} = \frac{1}{1}\left(\frac{1}{3}\cdot\frac{1}{2}\right)$

x_0 x_1 x_2 x_3 x_{n-1} $\frac{1}{2}\cdot 1$

$\Rightarrow$ сумма $S_n = x_0 + x_1 + x_2 + \ldots x_{n-1} =$

$\frac{1}{2022} + \frac{1}{2022\cdot 2021} + \frac{1}{2021\cdot 2020} + \frac{1}{2020\cdot 2019} + \ldots + \frac{1}{3\cdot 2}$; это равносильно выражению: $\frac{1}{2022} + (-1)\cdot\left(\frac{1}{2022}\cdot\frac{-1}{2021} + \frac{1}{2021}\cdot\frac{-1}{2020} + \frac{1}{2020}\cdot\frac{-1}{2019} + \ldots + \frac{1}{3}\cdot\frac{-1}{2}\right)$; т.к.

это равно $\frac{1}{2022} + (-1)\left(\frac{2021-2022}{2022\cdot 2021} + \frac{2020-2021}{2020\cdot 2021} + \ldots + \frac{2-3}{2\cdot 3}\right) =$

$= \frac{1}{2022} + (-1)\left(\frac{-1}{2022\cdot 2021} - \frac{1}{2021\cdot 2020} - \ldots - \frac{1}{2\cdot 3}\right) \Rightarrow$