

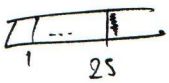
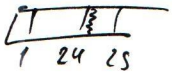
4.  прошагала в 2х местах

1 метр 

В благоприятном исходе ~~ошибок~~ не должно быть ~~расстояний~~ до 25го см и от 75го см

 1 25 ✓  1 24 25 ✗

Задачу можно представить в виде, как будто мы пытаемся поставить две перегородки между 100 шарами и между ними должно быть ≥ 25 шаров. ~~А это, в свою очередь представляется как~~

000 ... 0 | 00...00 | 000

≥ 25 ≥ 25 ≥ 25

100 − 75 = 25

Зачем-то что-то не учли!

Возможное число положений перегородок $C^2_{25+26} = C^2_{51} =$

$= \frac{51!}{2!(51-2)!} = \frac{51 \cdot 50 \cdot 49!}{2 \cdot 49!} = 51 \cdot 25 = 1275$ (5)

C^2_{25+26} т.к. 2 перегородки и 51 положение:



Всего 1275 благоприятных исходов.

Всего исходов $C^2_{201} = \frac{201 \cdot 200 \cdot 199!}{2 \cdot 199!} = 201 \cdot 100 = 20100$

Вероятность: $\frac{1275}{20100} = \frac{51 \cdot 25}{201 \cdot 100} = \frac{51}{201 \cdot 4}$ Ответ: $\frac{51}{201 \cdot 4}$

5.

	I	II	III
кол-во	x_1	x_2	x_1+x_2
цена	c_2+c	c_2	c_3
стоимость	$x_1(c_2+c)$	x_2c_2	$(x_1+x_2)c_3$

По условию $4x_2c_2 = x_1(c_2+c)$,

$x_1(c_2+c)+x_2c_2 = (x_1+x_2)c_3$

$5x_2c_2 = (x_1+x_2)c_3$

$5\cdot\frac{x_2}{x_1+x_2} = \frac{c_3}{c_2}$

$x_1c_2+x_1c+x_2c_2 = (x_1+x_2)c_3$

$(x_1+x_2)c_2 + x_1c = (x_1+x_2)c_3$

$c = \frac{(x_1+x_2)(c_3-c_2)}{x_1}$

$\frac{c}{c_2} = \frac{(x_1+x_2)\left(\frac{c_3}{c_2}-1\right)}{x_1}$

5

$\frac{c}{c_2} = \frac{(x_1+x_2)\left(\frac{5x_2}{x_1+x_2}-1\right)}{x_1} = \frac{5x_2-x_1-x_2}{x_1} = \frac{4x_2-x_1}{x_1}$

$c_2 = \frac{cx_1}{4x_2-x_1}$

$5\cdot\frac{x_2}{x_1+x_2} = \frac{c_3(4x_2-x_1)}{cx_1}$

$\frac{5x_2}{x_1+x_2} = \frac{c_3(5x_2-(x_1+x_2))}{cx_1}$

$\frac{5x_2x_1}{(5x_2-(x_1+x_2))(x_1+x_2)} = \frac{c_3}{c}$

?

ГАЗПРОМ ОТРАСЛЕВАЯ ОЛИМПИАДА ШКОЛЬНИКОВ

(ab)c = a(bc) $E=mc^2$

Площадка написания

Московский государственный технический университет имени Н.Э. Баумана

1. Используйте только размеченные стороны листов.
2. Заполните номер варианта и номер страницы в поле внизу.

Математика

Шифр 92406 Класс 11

Вариант 21 Дата 19.02.2022

2. $f(x)$ на промежутке $x \in (-\infty; +\infty)$ удов. равенству $f(x) + \left(\frac{1}{2} + x\right) f(1-x) = 1$

$x = 0$:

$f(0) + \frac{1}{2} f(1) = 1$

$x = 1$:

$f(1) + \frac{3}{2} f(0) = 1$

$\begin{cases} 2f(0) + f(1) = 2 \\ \frac{3}{2} f(0) + f(1) = 1 \end{cases}$

$\begin{cases} \frac{1}{2} f(1) + f(0) = 1 \\ 2f(1) + 3f(0) = 2 \end{cases}$

$\begin{cases} \frac{3}{2} f(1) + 3f(0) = 3 \\ 2f(1) + 3f(0) = 2 \end{cases}$

$-\frac{1}{2} f(1) = 1$

$f(1) = -2$

$f(0) + \frac{1}{2}(-2) = 1$

$f(0) - 1 = 1 \quad f(0) = 2$

$f(0) = 2$

$f\left(\frac{1}{2}\right) = \frac{1}{2}$

$f\left(-\frac{1}{2}\right) = 1$

$f\left(\frac{3}{2}\right) = -1$

3

$f\left(\frac{1}{2}\right) + f\left(\frac{1}{2}\right) = 1$

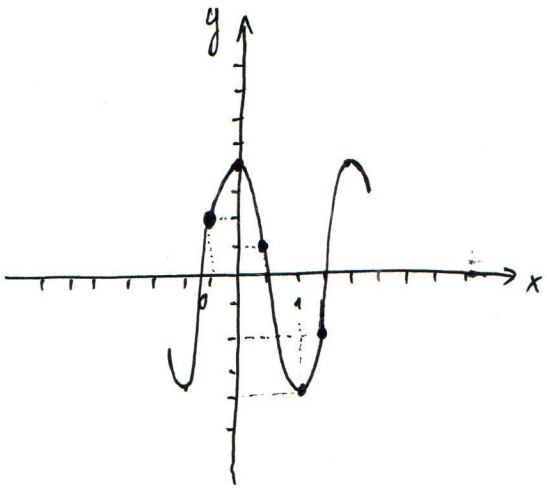
$f\left(\frac{1}{2}\right) = \frac{1}{2}$

$f\left(\frac{3}{2}\right) + 2 f\left(-\frac{1}{2}\right) = 1$

$f\left(\frac{3}{2}\right) + 2 = 1$

$f\left(\frac{3}{2}\right) = -1$

$f\left(-\frac{1}{2}\right) = 1$



$x \to 1-x$:

$f(1-x) + \left(\frac{3}{2} - x\right) f(x) = 1$

$f(x) + \left(\frac{1}{2} + x\right) f(1-x) = f(1-x) + \left(\frac{3}{2} - x\right) f(x)$

$f(1-x) \cdot \left(x - \frac{1}{2}\right) = f(x) \cdot \left(-x + \frac{1}{2}\right)$

$\left(f(1-x) + f(x)\right)\left(x - \frac{1}{2}\right) = 0$

$f(x) = -f(1-x)$

функция четная, со смещением на 1.

7

ГАЗПРОМ ОТРАСЛЕВАЯ ОЛИМПИАДА ШКОЛЬНИКОВ

1. Используйте только размеченные стороны листов.
2. Заполните номер варианта и номер страницы в поле внизу.

Математика

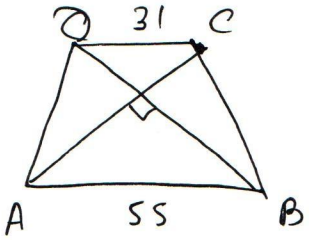
Площадка написания

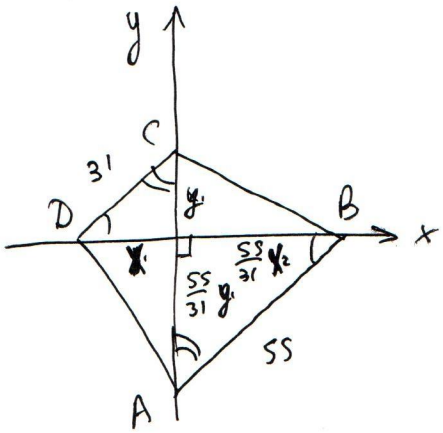
Московский государственный технический университет имени Н.Э. Баумана

Шифр 92406 Класс 11

Вариант 9 21 Дата 19.02.2022

3.





$\vec{AD}\ (x_1; -\frac{55}{31}y_1)$

$\vec{BC}\ (-\frac{55}{31}x_1; y_1)$

$|\vec{AD}|\cdot|\vec{BC}| = |x_1^2(-\frac{55}{31}) - \frac{55}{31}y_1^2| = |-\frac{55}{31}(x_1^2+y_1^2)|$

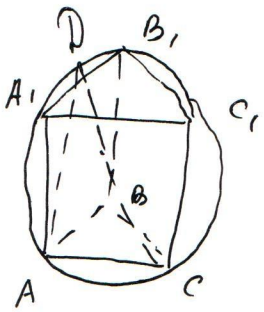
$x_1^2+y_1^2 = DC^2 = 31^2$

$|\vec{AD}|\cdot|\vec{BC}| = |-\frac{55}{31}\cdot 31^2| = |-55\cdot 31| = 1705$

15

Ответ: 1705.

6.



$R_{опис\ сферы} = 6$

$ABCA_1B_1C_1$ – правильная треугольная призма

$AD = 4\sqrt{6}$ $CD = 2R$

0

ГАЗПРОМ ОТРАСЛЕВАЯ ОЛИМПИАДА ШКОЛЬНИКОВ

1. Используйте только размеченные стороны листов.
2. Заполните номер варианта и номер страницы в поле внизу.

Математика

Площадка написания
Московский государственный технический университет имени Н.Э. Баумана

Шифр 92406 Класс 11

Вариант 21 Дата 19.02.2022

Заполняется проверяющим строго по образцу. Образец заполнения: 1 2 3 4 5 6 7 8 9 0

1	2	3	4	5	6	7	8	9	10
4	3	15	5	5	0				

Оценка цифрами: 32 Оценка прописью: тридцать два Подпись: Кем-

1. $x^9 - 2022x^3 + \sqrt{2021} = 0$

$x^9 - 2021x^3 - x^3 + \sqrt{2021} = 0$

$x^3(x^6 - 2021) - (x^3 - \sqrt{2021}) = 0$

$x^3(x^3 - \sqrt{2021})(x^3 + \sqrt{2021}) - (x^3 - \sqrt{2021}) = 0$

$(x^3 - \sqrt{2021})(x^6 + x^3\sqrt{2021} - 1) = 0$

$\begin{cases} x^3 = \sqrt{2021} \\ x^6 + x^3\sqrt{2021} - 1 = 0 \end{cases}$

$x^6 + x^3\sqrt{2021} - 1 = 0$

Замена: $x^3 = t$

$t^2 + \sqrt{2021} \cdot t - 1 = 0$

$D = 2021 + 4 = 2025$

$\sqrt{D} = 45$

$t = \frac{-\sqrt{2021} \pm 45}{2}$

4

$\begin{cases} x^3 = \sqrt{2021} \\ x^3 = \frac{-\sqrt{2021} + 45}{2} \\ x^3 = \frac{-\sqrt{2021} - 45}{2} \end{cases}$

Вернемся к ранее принятым обозначениям, $x^3 = \frac{-\sqrt{2021} \pm 45}{2}$

$\begin{cases} x = \sqrt[6]{2021} \\ x = \sqrt[3]{\frac{45 + \sqrt{2021}}{2}} \\ x = \sqrt[3]{\frac{\sqrt{2021} - 45}{2}} \end{cases}$

Ответ: $\sqrt[6]{2021}$; $\sqrt[3]{\frac{45 + \sqrt{2021}}{2}}$; $\sqrt[3]{\frac{-45 + \sqrt{2021}}{2}}$.