ОТРАСЛЕВАЯ ОЛИМПИАДА ШКОЛЬНИКОВ ГАЗПРОМ

1. Используйте только размеченные стороны листов.
2. Заполните номер варианта и номер страницы в поле внизу.

Математика

Площадка написания

Санкт-Петербургский Государственный электротехничекий Университет "ЛЭТИ"

Шифр 87493 Класс 11

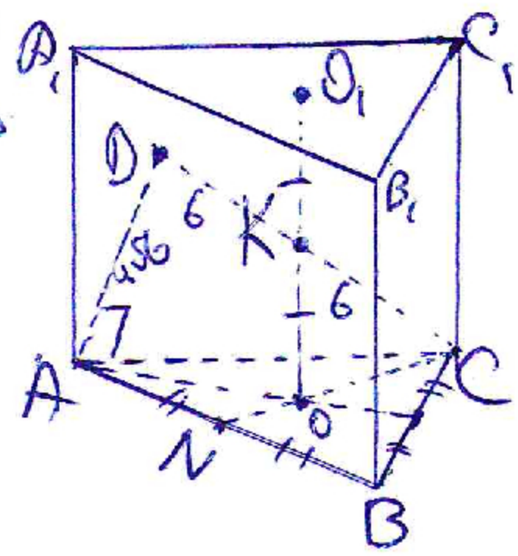
Вариант 21 Дата 19.02.2022

(6) Пусть O, O_1 - центры $\triangle ABC$ и $\triangle A_1B_1C_1$ соответственно

K - центр описанной около призмы сферы $\Rightarrow$

$\Rightarrow$ - середина O_1O

CD - диаметр, $A \in$ сфере $\Rightarrow \angle CAD = 90^\circ$



$AC = \sqrt{CD^2 - AD^2} = \sqrt{144 - 96} = \sqrt{48} = 4\sqrt{3}$

$S_{\text{треуг}} = \frac{a^2\sqrt{3}}{4}$, a - сторона

$S_{ABC} = \frac{48\sqrt{3}}{4} = 12\sqrt{3}$

$CN = \sqrt{BC^2 - BN^2} = \sqrt{48 - 12} = 6$


$CO : ON = 2 : 1 \Rightarrow CO = 4$

$\triangle COK$: $OK = \sqrt{KC^2 - OC^2} = \sqrt{36 - 16} = 2\sqrt{5} \Rightarrow O_1O = H = 4\sqrt{5}$

$V = S_{ABC} \cdot H = 12\sqrt{3} \cdot 4\sqrt{5} = \boxed{48\sqrt{15}}$

(4) Нам необходимо, чтобы выполнялась система.

$\begin{cases} AB \geq 25 \\ BC \geq 25 \\ CD \geq 25 \end{cases}$



Вероятность этого: ~~$\frac{25}{100} \cdot \frac{25}{100}$~~ $\frac{25}{100} \cdot \frac{25}{75}$

(*)

~~[illegible]~~ - на участке длины 25 см в диапазоне от 25 см до 50 см от начала трубы (A)

(*) для участка длины 25 см в диапазоне от 50 см до 75 см от начала трубы (A), но мы считаем от места 1-ой частицы B.

Вероятность равна $\frac{1}{4} \cdot \frac{1}{3} = \boxed{\frac{1}{12}}$

ОТРАСЛЕВАЯ ОЛИМПИАДА ШКОЛЬНИКОВ ГАЗПРОМ

1. Используйте только размеченные стороны листов.
2. Заполните номер варианта и номер страницы в поле внизу.

Площадка написания

Санкт-Петербургский Государственный электротехничекий Университет "ЛЭТИ"

Математика

Шифр 87493 Класс 11

Вариант 21 Дата 19.02.2022

(5) Пусть x, y, z (тыс. руб.) - цена одной акции Ромашки, Василька и Тюльпана соответственно;

m, n, k - кол-во акций в пакетах Ромашки, Василька и Тюльпана соответственно

Условие:
$$\begin{cases} m+n=k \\ 4my=nx \\ 4my+nx=kz \\ 16 \le x-y \le 20 \\ 42 \le z \le 60 \end{cases}$$

$\frac{m}{m+n+k}$ - ? (min и max)

$nx+nx \neq kz$

$2nx=kz$

$k=\frac{2nx}{z}$

$4my+4my=kz$

$8my=kz$

$k=\frac{8my}{z}$

$$\frac{m}{n+m+k}=\frac{m}{2k}=\frac{my \cdot z}{2 \cdot 8my}=\frac{z}{16y}$$

Минимальное значение при $z=42$ и y_{max}, а Максимальное при $z=60$ и y_{min}

ОТРАСЛЕВАЯ ОЛИМПИАДА ШКОЛЬНИКОВ ГАЗПРОМ

1. Используйте только размеченные стороны листов.
2. Заполните номер варианта и номер страницы в поле внизу.

Математика

Площадка написания
Санкт-Петербургский Государственный электротехничекий Университет "ЛЭТИ"

Шифр 87493 Класс 11

Вариант 21 Дата 19.02.2022

(2) $f(x)+(0,5+x)f(1-x)=1$ (*)

$x=\frac{1}{2}$: $f(\frac{1}{2})+f(\frac{1}{2})=1 \Rightarrow f(\frac{1}{2})=\frac{1}{2}$

$\begin{cases} f(0)+\frac{1}{2}f(1)=1 \\ f(1)+\frac{3}{2}f(0)=1 \end{cases} \quad \begin{cases} -\frac{1}{2}f(0)=-1 \\ f(0)+\frac{1}{2}f(1)=1 \end{cases} \quad \begin{cases} f(0)=2 \\ f(1)=-2 \end{cases}$

$\begin{cases} f(-1)-\frac{1}{2}f(2)=1 \\ f(2)+\frac{5}{2}f(-1)=1 \end{cases} \quad \begin{cases} \frac{5}{2}f(-1)=3 \\ f(-1)-\frac{1}{2}f(2)=1 \end{cases} \quad \begin{cases} f(-1)=\frac{6}{5} \\ f(2)=-\frac{2}{5} \end{cases}$

Можно заметить, что ~~$f(\frac{1}{2}+x)=-f(\frac{1}{2}-x)$~~

$f(\frac{1}{2}-x)=-f(\frac{1}{2}+x)$ (**)

Подставим в (**) $x=\frac{1}{2}-x$: $f(x)=-f(1-x)$

(*): $f(x)-(0,5+x)f(x)=1$

$f(x)-0,5f(x)-xf(x)=1$

$\frac{1}{2}f(x)-xf(x)=1$

$$f(x)=\frac{1}{\frac{1}{2}-x}$$

ОТРАСЛЕВАЯ ОЛИМПИАДА ШКОЛЬНИКОВ

Площадка написания

Санкт-Петербургский Государственный электротехничекий Университет "ЛЭТИ"

1. Используйте только размеченные стороны листов.
2. Заполните номер варианта и номер страницы в поле внизу.

Математика

Шифр 87493 Класс 11

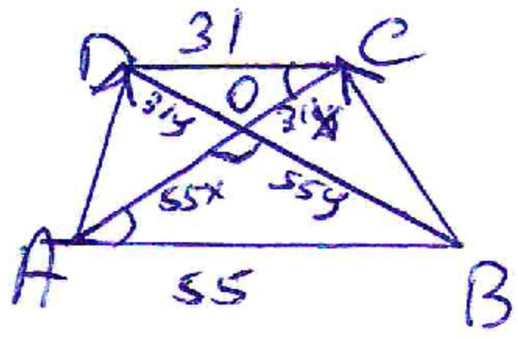
Вариант 21 Дата 19.02.2022

③ Пусть $O = AC \cap BD$

$\triangle DOC \sim \triangle AOB$ ($\angle COD = \angle AOB = 90°$, $\angle CAB = \angle ACD$ (н/м))

$K = \frac{31}{55}$: $AO = 55x$, $OC = 31x$

$BO = 55y$, $OD = 31y$



$\triangle COD$: $OD^2 + OC^2 = CD^2$

$31y^2 + 31x^2 = 31^2$

$y^2 + x^2 = 1$ (*)

$\overrightarrow{AD} = \overrightarrow{AO} + \overrightarrow{OD}$; $\overrightarrow{BC} = \overrightarrow{BO} + \overrightarrow{OC}$

$\overrightarrow{AD} \cdot \overrightarrow{BC} = (\overrightarrow{AO} + \overrightarrow{OD})(\overrightarrow{BO} + \overrightarrow{OC}) = \underbrace{\overrightarrow{AO} \cdot \overrightarrow{BO}}_{AO \perp BO = 0} + \underbrace{\overrightarrow{OD} \cdot \overrightarrow{BO}}_{\cos 0° = 1} +$

$+ \underbrace{\overrightarrow{AO} \cdot \overrightarrow{OC}}_{\cos 0° = 1} + \underbrace{\overrightarrow{OD} \cdot \overrightarrow{OC}}_{OD \perp OC = 0} = 31y \cdot 55y + 55x \cdot 31x = 55 \cdot 31(\underbrace{y^2 + x^2}_{=1}) =$

$= \boxed{1705}$

ГАЗПРОМ ОТРАСЛЕВАЯ ОЛИМПИАДА ШКОЛЬНИКОВ

1. Используйте только размеченные стороны листов.
2. Заполните номер варианта и номер страницы в поле внизу.

Математика

Площадка написания
Санкт-Петербургский Государственный электротехничекий Университет "ЛЭТИ"

Шифр 87493 Класс 11

Вариант Дата 19.02.2022

Заполняется проверяющим строго по образцу

Образец заполнения: 1 2 3 4 5 6 7 8 9 0

1	2	3	4	5	6	7	8	9	10
		15		5	30				

Оценка цифрами	Оценка прописью	Подпись
50	пятьдесят	